LKPD

Ilmu Pengetahuan Alam

Untuk Siswa Kelas VI SD

Rangka, Sendi, dan Otot

Disusun oleh :

Muhammad Arfa Alfannur

2401050037

Kelas VI

LIVEWORKSHEETS

UNNES

UNIVERSITAS NEGERI SEMARANG

SATUAN PENDIDIKAN :	SD NEGERI NGALIYAN 05 SEMARANG
KELAS / SEMESTER :	VI (ENAM) / 1
MATA PELAJARAN :	ILMU PENGETAHUAN ALAM DAN SOSIAL
BAB :	1-BAGAIMANA TUBUH KITA BERGERAK?
TOPIK :	A: RANGKA, SENDI, DAN OTOT: AKTOR DI BALIK BENTUK TUBUH KITA
HARI / TANGGAL :	.....

Nama: _____

Kelas: _____

Presensi: _____

LIVEWORKSHEETS

Petunjuk Pengerjaan

1. MULAILAH KEGIATAN BELAJAR DENGAN MEMBACA DOA SESUAI DENGAN KEYAKINAN MASING-MASING AGAR PIKIRAN DAN HATI SIAP MENERIMA PELAJARAN.
2. PERHATIKAN DENGAN CERMAT SETIAP SOAL, PETUNJUK, ATAU GAMBAR YANG TERSEDIA SEBELUM MULAI MENGERJAKAN.
3. PAHAMI DENGAN SEKSAMA TUJUAN ATAU PERTANYAAN DARI SOAL AGAR DAPAT MENGERJAKAN DENGAN TEPAT.
4. JAWABLAH SETIAP SOAL ATAU LAKUKAN KEGIATAN SESUAI INSTRUKSI YANG DIBERIKAN, PASTIKAN MENGIKUTI LANGKAH-LANGKAH YANG BENAR.
5. PERIKSA KEMBALI JAWABAN YANG TELAH DIBUAT UNTUK MEMASTIKAN TIDAK ADA YANG TERLEWAT ATAU SALAH.
6. JIKA ADA HAL YANG BELUM DIPAHAMI, DISKUSIKAN DENGAN TEMAN ATAU TANYAKAN KEPADA GURU UNTUK MENDAPATKAN PENJELASAN LEBIH LANJUT.

Tujuan

1. MENDESKRIPSIKAN SISTEM RANGKA MANUSIA, FUNGSINYA, SERTA BAGIAN-BAGIANNYA
2. MENGIDENTIFIKASI LETAK OTOT-OTOT PADA TUBUH MANUSIA.
3. MENJELASKAN JENIS-JENIS SENDI DAN PERANANNYA DALAM GERAKAN TUBUH.

LIVEWORKSHEETS

Sistem Rangka Manusia

Tentukan Benar-Salahnya Pernyataan Berikut Ini.

- Rangka berfungsi untuk menegakkan tubuh manusia.

- Jumlah tulang pada tubuh orang dewasa lebih banyak daripada jumlah tulang pada bayi.

- Tulang tengkorak berfungsi melindungi otak.

- Sendi peluru terdapat pada bahu dan panggul.

- Tanpa rangka, manusia tetap bisa berdiri tegak.

LIVEWORKSHEETS

Letak Otot Manusia

Hubungkan gambar otot sesuai dengan letaknya.

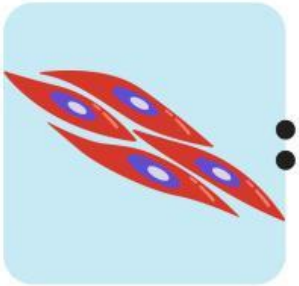

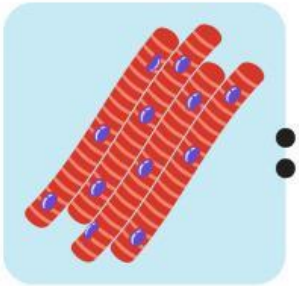

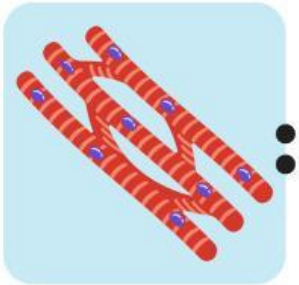

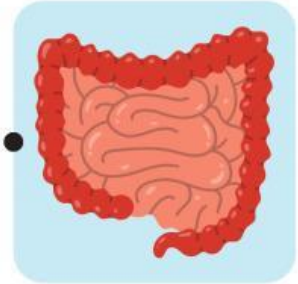

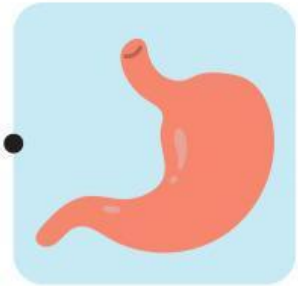

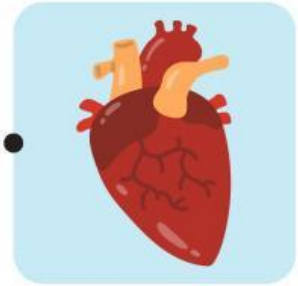

LIVEWORKSHEETS

Fungsi-Fungsi Sendi

Perhatikan gambar, tulislah fungsi sendi di bawah ini.

Sendi Pelana

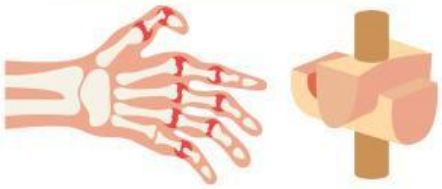

_____

Sendi Gulung

_____

Sendi Peluru

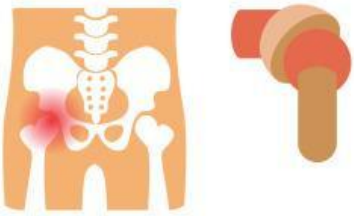

_____

Sendi Putar

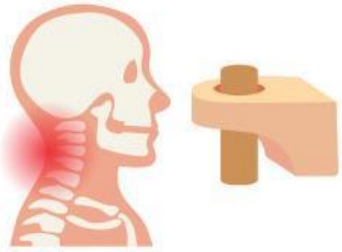

_____

Sendi Engsel

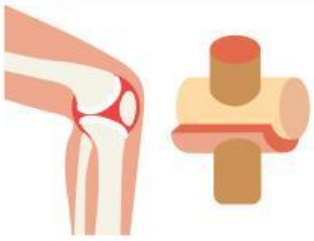

_____

Sendi Geser

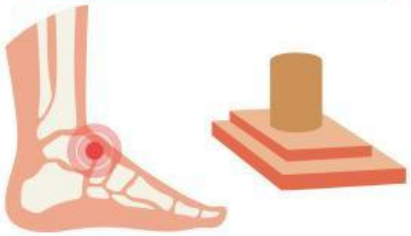

_____

LIVEWORKSHEETS

Jenis-Jenis Sendi

Masukkan nama sendi sesuai gambar di bawah ini.

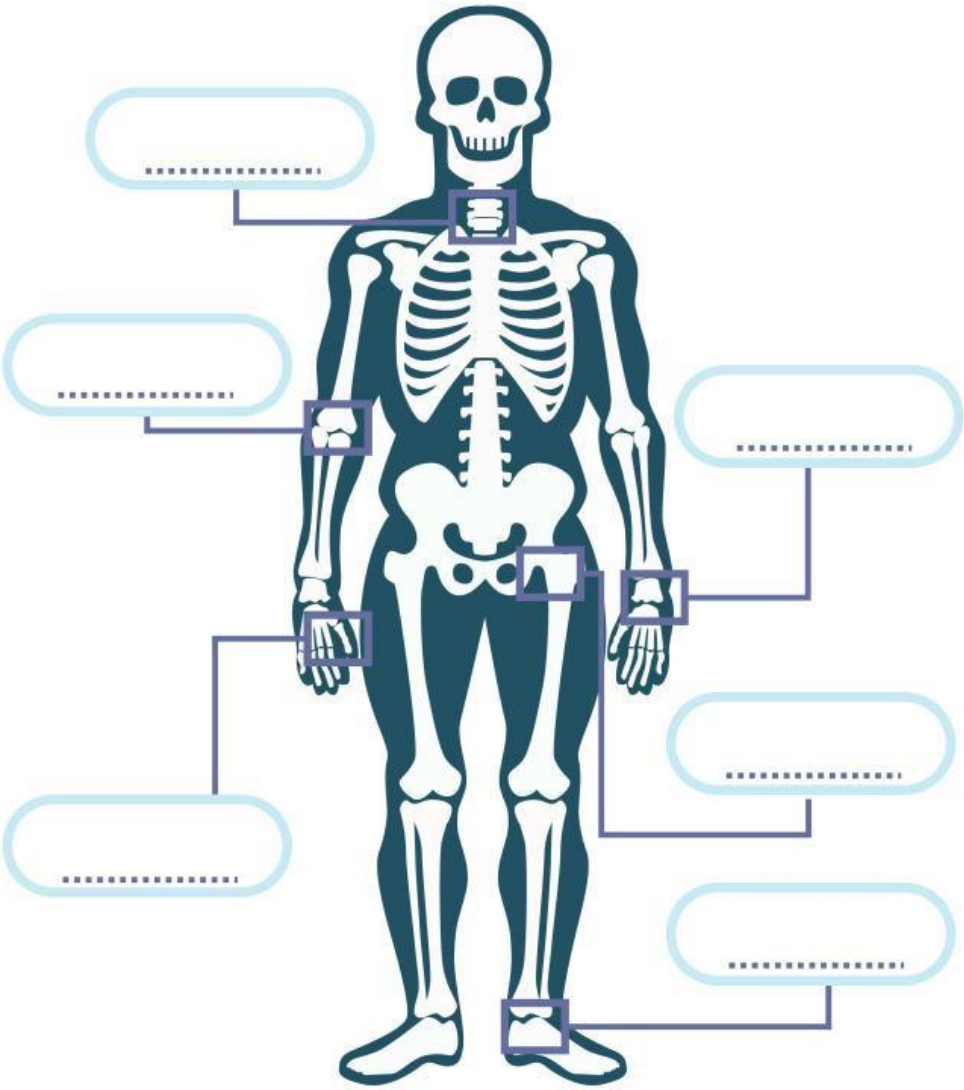

Engsel	Peluru	Geser
Gulung	Putar	Pelana

LIVEWORKSHEETS