مملكة البحرين
وزارة التربية و التعليم
مدرسة العروبة الابتدائية للبنات
قسم الرياضيات

الاسم :
الصف : السادس /
العام الدراسي ٢٠٢٠ / ٢٠٢١ م

نشاط (١) من كوكب المشتري

الكفاية :

أن توجد التلميذة قياس الزاوية المجهولة في الشكل .

س١ / صنفي كلا من أزواج الزوايا الآتية إلى : متتامتين ، متكاملتين ، أو غير ذلك .

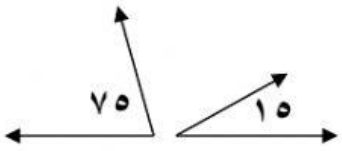	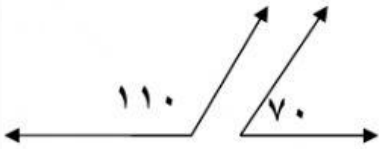

س٢/ بدون استخدام المنقلة أوجدي قياس الزاوية المجهولة في كل مما يأتي : (ملاحظة : اكتبي الرقم فقط باللغة الإنجليزية)

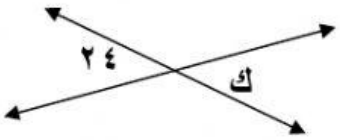	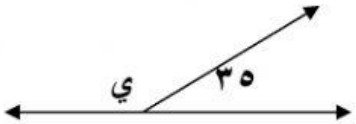
ك =	ي =

إعداد الأستاذة إيمان جعفر	المعلمة الأولى أ. ابرار جناحي	مديرة المدرسة ا.فاطمة بوزبون

16/3/2021م

LIVEWORKSHEETS