LKPD

SISTEM KOMPUTER

#Hardware

Nama :

Kelas :

LIVEWORKSHEETS

Pilihlah jawaban A, B, C, D yang paling kamu anggap benar!

1. Perangkat pada komputer yang memiliki bentuk fisik secara nyata dan dapat diraba dan dilihat adalah . . . .
   A. Hardware
   B. Software
   C. Brainware
   D. Malware

2. Di bawah ini yang termasuk ke dalam perangkat keras komputer berdasarkan fungsinya, kecuali . . . .
   A. Piranti Masukan (Input Device)
   B. Piranti Pemroses (Processing Device)
   C. Piranti Keluaran (Output Device)
   D. Piranti Tambahan

3. Berikut ini manakah yang termasuk ke dalam perangkat keras komputer . . . .

   A.

   C.

   B.

   D.

4. Yang termasuk ke dalam perangkat keras jenis Piranti Masukan (Input Device) adalah . . . .

   A.

   C.

   B.

   D.

LIVEWORKSHEETS

MATCHING TOOLS

Tarik garis sesuai dengan jawaban yang kamu anggap benar!

Piranti Keluaran (Output Device)

Piranti Penyimpanan (Storage Device)

Piranti Masukan (Input Device)

Piranti Pemroses (Processing Device)

LIVEWORKSHEETS

DRAG AND DROP

Isilah bagian yang kosong dengan cara mendrag (menarik) kata-kata di bawah ke tempat yang sesuai dengan nama perangkat di dalam kotak kuning

Speaker	Monitor	Keyboard
Printer	Mouse	CPU

LIVEWORKSHEETS

PERANGKAT KERAS KOMPUTER

Hubungkanlah gambar dengan nama yang tepat!

Mouse

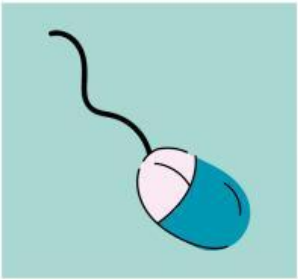

Kartu Memori

Monitor



Keyboard

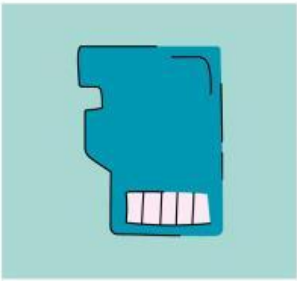

Flashdisk

LIVEWORKSHEETS