Nama:

Kelas:

Ulangan Harian IPA

Kerjakan soal pengukuran di bawah ini dengan benar dan tepat!

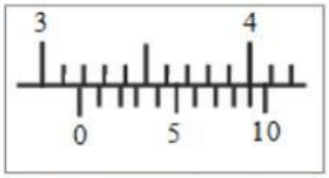

..... cm

Ana mengukur diameter cincin dengan menggunakan jangka sorong. Hitunglah berapa diameter cincinnya!

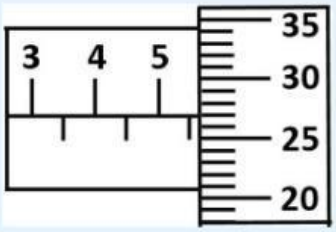

Hitunglah berapa hasil pengukuran pada gambar berikut!

..... mm

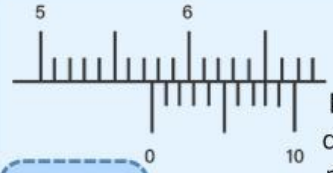

Hitunglah tebal diameter sebuah kelereng yang diukur dengan jangka sorong pada gambar berikut!

..... cm

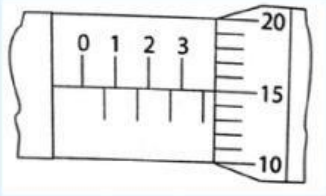

Hitunglah berapa hasil pengukuran pada gambar berikut!

..... mm

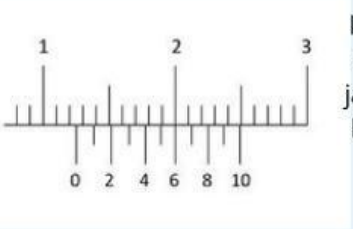

Hitunglah berapa kedalaman pipa yang diukur meggunakan jangka sorong dengan hasil sebagai berikut!

..... cm

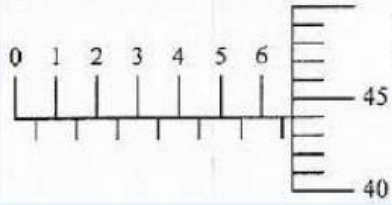

Hitunglah berapa hasil pengukuran pada gambar berikut!

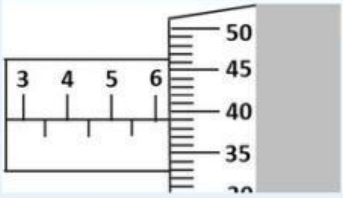

Hitunglah berapa hasil pengukuran pada gambar berikut!

..... mm

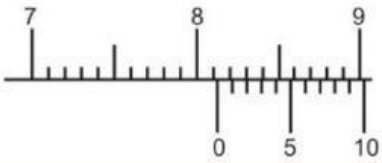

Hitunglah berapa hasil pengukuran pada gambar berikut!

LIVEWORKSHEETS

Nama: Kelas:

Besaran Pokok Dan Besaran Turunan

Lengkapilah tabel di bawah ini dengan menyeret opsi yang tersedia di bawah!

Besaran Pokok	Besaran Turunan

Massa Jenis	Waktu	Panjang
Suhu	Arus Listrik	Luas
Gaya	Tekanan	Usaha
Volume	Intensitas Cahaya	Massa
Percepatan	Jumlah Zat	Kecepatan

LIVEWORKSHEETS

Nama: Kelas:

METODE PENELITIAN

Pasangkan langkah-langkah metode penelitian berikut sesuai urutan dengan benar!

Menyiapkan alat, bahan, dan langkah kerja	1
Membuat rumusan masalah	2
Membuat kesimpulan	3
Membuat hipotesis	4
Menganalisis data penelitian	5
Observasi	6

LIVEWORKSHEETS