NAMA : KELAS :

1

4 liter

−

0,5 liter

=

2

5 potong

=

Letak pecahan diantara bilangan bulat



3

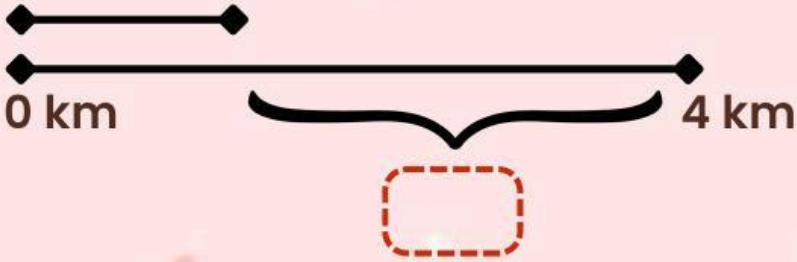

4

1 liter

0,3 liter

Berapa sisa air yang ada ?

LIVEWORKSHEETS

Letak diantara bilangan bulat



5

DAY 1

Rima tidur selama

7,5 jam

Berapa bagian waktu sehari yang digunakan Rima untuk tidur? Nyatakan dalam pecahan sederhana.

6 Ubah gambar dalam kotak menjadi pecahan biasa, lalu ke desimal.



= ___ = ___

Letak pecahan diantara bilangan bulat

LIVEWORKSHEETS

Pilihlah jawaban yang paling tepat dengan (Klik) pada huruf a, b, c, atau d !

7

Dina memakan 1/2 bagian kue tersebut. Berapa potong kue yang dimakan Dina .....

A.	2,5	C.	1
B.	1,5	D.	1,5

8

2,5 kg

1,75 kg

Berapa total berat buah diatas .....

A.	3,5 kg	C.	3,25 kg
B.	6 kg	D.	4,25 kg

9

Ani memiliki uang Rp 20.000. Ia membeli minuman seharga Rp7.500. Sisa uang Ani berapa rupiah?

A.	Rp 14.000	C.	Rp 13.000
B.	Rp 12.500	D.	Rp 13.500

LIVEWORKSHEETS

Pilihlah jawaban yang paling tepat dengan (Klik) pada huruf a, b, c, atau d !

10 **Sebuah termometer menunjukkan suhu 2°C. Pada malam hari suhunya turun hingga −1°C. Manakah bilangan rasional yang berada di antara suhu −1°C dan 2°C?**

A.	−2	**C.**	0
B.	1	**D.**	−3

LIVEWORKSHEETS