Elige el nombre correcto de los siguientes cuadrilateros y cálcula su perímetro, no se te olvide escribir la unidad de medida de longitud

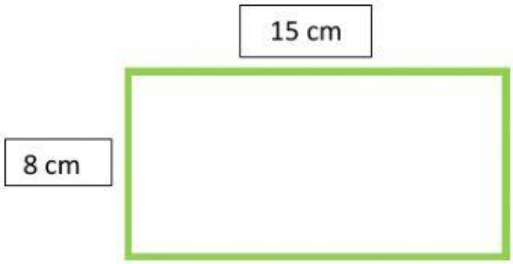

Nombre: _____

Perímetro: _____

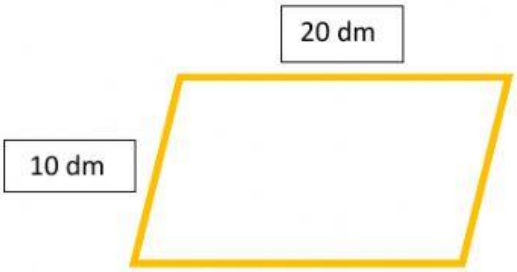

Nombre: _____

Perímetro: _____

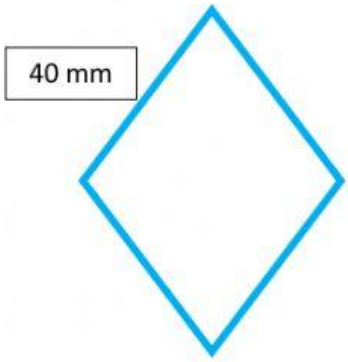

Nombre: _____

Perímetro: _____

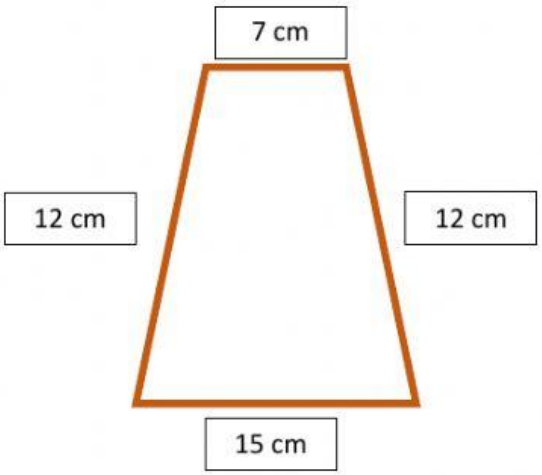

Nombre: _____

Perímetro: _____

LIVEWORKSHEETS