أسئلة الاختبارات النهائية والتجريبية للدرس الثالث (مساحة القطاع الدائري)

١- يُبين الشكل الآتي دائرة مركزها م نصف قطرها ٣ سم ، $\overline{\text{أب}}$ وتر في الدائرة ، ق(أ$\hat{\text{م}}$ب) = ١,٥ ء

أوجد مساحة المنطقة المظللة لأقرب منزلتين عشريتين.

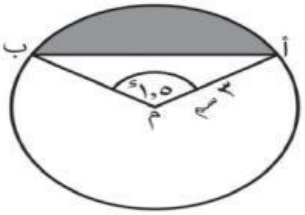

٢- يبين الشكل الآتي القطاع الدائري أ ب ل ، من دائرة مركزها أ ونصف قطرها ٨ سم وقياس زاويته $\frac{\pi}{٤}$

إذا علمت أن مساحة المثلث أ ب جـ تساوي ٣٢ سم^{٢}

أوجد مساحة المنطقة المظللة لأقرب منزلتين عشريتين.

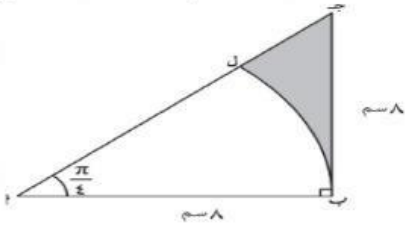

٣-في الشكل المجاور قطاع دائري نصف قطر دائرتة ١٤ سم داخلة نصف دائرة نصف قطرها ٧ سم

أوجد مساحة الجزء المظلل

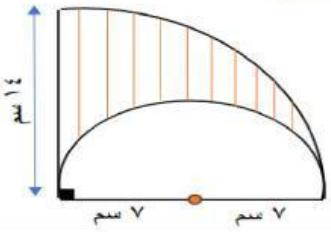

٤- قطاع دائري محيطه ٧ سم ومساحته ٣ سم ^{٢}

ظلل الشكل ( ) المقترن بالأطوال الممكنة لطول نصف قطر دائرته

☐ ١,٥ ، ٢ ☐ ١,٥ ، ٤

☐ ٢ ، ٣ ☐ ٣ ، ٤

٥- في الشكل المقابل ق(أ$\hat{\text{جـ}}$) = ١,١٣ ء ، جـ م = ٣ سم

أوجد مساحة المنطقة المظللة .



٦- قطاع دائري قياس زاويته ١,٢ ء، ومساحته ٥٤ سم^{٢}. أوجد محيط هذا القطاع

٧- قطاع دائري محيطه ١٠سم ومساحته ٤ سم ^{٢} (ظلل الشكل ☐ المقترن) بطول نصف قطر دائرته

☐ ٤ سم ☐ ١٠ سم ☐ ١٢ سم ☐ ٤٠ سم

٨ - قطاع دائري قياس زاويته المركزية= $\frac{\pi}{٤}$ ومساحته $\frac{\pi}{٨}$ سم^{٢} (ظلل الشكل ☐ المقترن) بطول نصف قطر دائرته

☐ ١ سم ☐ ٢ سم ☐ ٤ سم ☐ ٦ سم

٩- قطاع دائري قياس زاويته المركزية هـ = ٣٠° ، نق = ٦سم (ظلل الشكل ☐ المقترن) بمساحة القطاع الى أقرب عدد صحيح

☐ ٣ سم^{٢} ☐ ٤ سم^{٢} ☐ ٦ سم^{٢} ☐ ٩ سم^{٢}

LIVEWORKSHEETS

١٠ – قطاع دائري محيطه ١٨ سم ونصف قطر دائرته ٣ سم (ظلل الشكل ☐ المقترن) بمساحته

☐ ٩ سم^{٢} ☐ ١٢ سم^{٢} ☐ ١٨ سم^{٢} ☐ ٥٤ سم^{٢}

١١- زاوية حادة محصورة بين عقرب الدقائق وعقرب الساعات عند الساعة ١١:٠٦ (ظلل الشكل ☐ المقترن) بقياسها

☐ ١١° ☐ ٦٠° ☐ ٦١° ☐ ٦٣°

١٢- قطاع دائري نصف قطره ٢٠ سم، ويحصر زاوية قياسها $\frac{\pi}{٤}$

احسب مساحة القطاع

١٣) الشكل الآتي يمثل دائرة مركزها م ونصف قطرها

حيث ق(ب أ جـ) = ٣٠°، طول $\overline{أجـ}$ = ٣ $\sqrt{٣}$ سم

أ) أثبت أن نق = ٣ سم

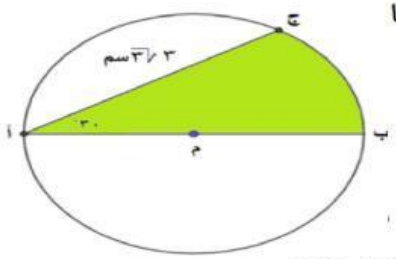

ب) أحسب مساحة المنطقة المظللة لأقرب منزلتين عشريتين.

١٤- يبين الشكل التالي دائرة مركزها م ، نق=٤ سم

طول القوس الأكبر $\widehat{أجـ} = \frac{١٦\pi}{٣}$ سم

أوجد مساحة الجزء المظلل لأقرب منزلتين عشريتين

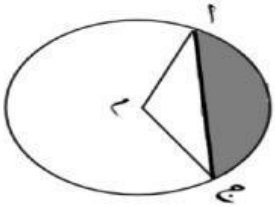

١٥- قطاع دائري قطره ١٢ سم، و مساحته ٢٧ سم^{٢}

احسب زاوية القطاع

١٦- الشكل المقابل دائرة مركزها م ، نصف قطرها ٥سم قياس زاوية (ب أ جـ) = ٦٠°

أوجد مساحة القطاع الدائري ب م جـ

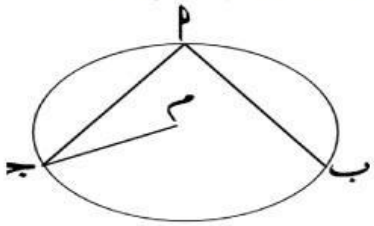

١٧- من الشكل المجاور

محيط القطاع = ٢٠ سم

طول القوس أ ح = ٨ سم

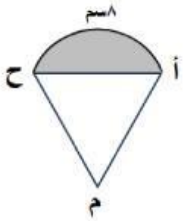

(أ) أوجد محيط القطعة المظللة لأقرب ٣ أرقام معنوية

LIVEWORKSHEETS

١٨- يبين الشكل الآتي:

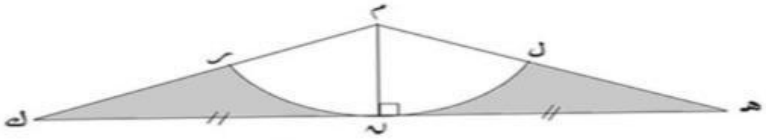

قطاعاً دائرياً ل م ر في دائرة مركزها م ، ونصف قطرها ٥ سم
وقياس الزاوية (هـ) = $\frac{\pi}{٦}$ ، والمثلثين م هـ ن ، م ك ن متطابقين
$\overline{ك هـ} \perp \overline{م ن}$ عند النقطة ن .

أوجد مساحة المنطقة المظللة مقرباً إلى أقرب منزلتين عشريتين.

١٩- باستخدام الشكل المجاور:

ظلل الشكل ☐ المقترن بمساحة القطاع الدائري الأكبر ا م ج ب

(لأقرب منزلة عشرية)

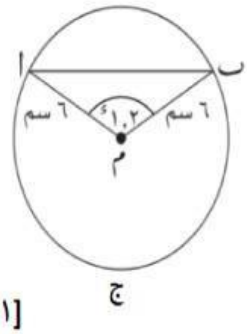

☐ ٩١,٥ سم^{٢} ☐ ٥٤,٦ سم^{٢}

☐ ٢١,٦ سم^{٢} ☐ ١٤,٨ سم^{٢}

[١]

LIVEWORKSHEETS