ورقة عمل درس دوال خاصة – رياضيات2

اسم الطالبة : الصف :

اختر الإجابة الصحيحة لكل مما يأتي :

1 تعريف الدالة في الفترة : $x \le -3$

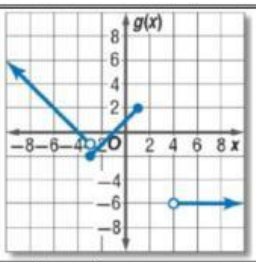

A	$x-4$	B	$-x-4$	C	$2x-4$	D	$-2x$

2 تعريف الدالة في الفترة : $-4 \le x \le 4$

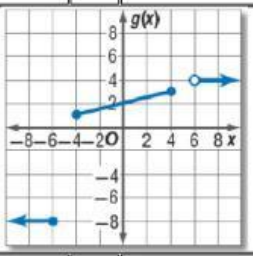

A	-8	B	4	C	$\frac{1}{4}x$	D	$\frac{1}{4}x+2$

3 قيمة الدالة عند النقطة : $x = 5$

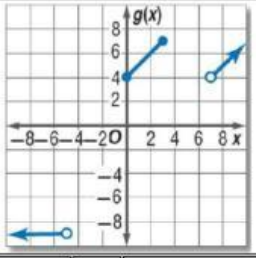

A	0	B	1	C	5	D	غير معرفة

4 أي مما يأتي ليس جزءًا من تعريف الدالة الممثلة في الشكل المجاور ؟

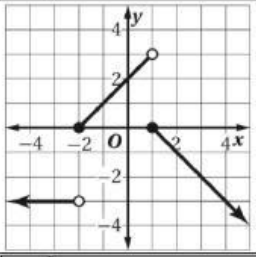

A	$-3 \ , x < -2$	B	$x+2 \ , -2 \le x < 1$	C	$x-3 \ , x < -2$	D	$-x+1 \ , x \ge 1$

5 أي مما يأتي ليس جزءًا من الدالة المتعددة التعريف الممثلة في الشكل المجاور ؟

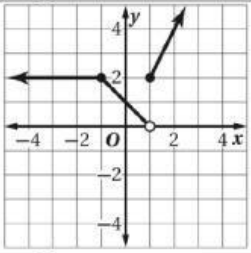

A	$2 \ , x \le -1$	B	$x+1 \ , -1 < x < 1$	C	$-x+1 \ , -1 \le x < 1$	D	$2x \ , x \ge 1$

LIVEWORKSHEETS