Ficha 1

Ejercicio 1: Campo de texto (escribe la opción única)

Escribe a qué tipo de volcán corresponden estas imágenes

	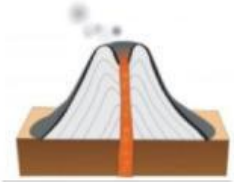		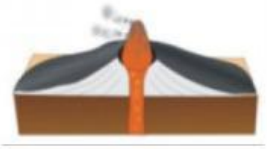

Ejercicio 2: Opción única (desplegable)

Selecciona la opción correcta en cada caso sobre los volcanes:

Pueden erupcionar en cualquier momento		Mantienen un mínimo de actividad		Su última erupción fue hace más de 25 mil años	

Ejercicio 3: Casillas de verificación (visto, check o √)

Marca las verificaciones correctas de la imagen:

	Es un volcán Vulcaniano	
	Está situado en Kilauea	
	La lava fundida llegó al mar	
	Está situado en Hawai	

LIVEWORKSHEETS

Ejercicio 4: Soltar y arrastrar (drag and drop)

Arrastra las partes de un volcán indicados en los cuadros de la derecha a su lugar correcto en la imagen:

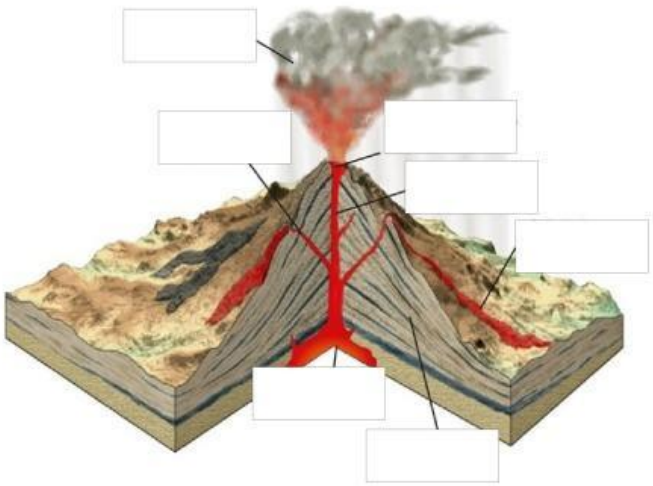

- Capas de lava basáltica
- Conducto secundario
- Cámara magmática
- Chimenea
- Colada de lava
- Cráter
- Lluvia de cenizas

Ejercicio 5: Unir con flechas (join)

Une cada definición con su concepto:

Chimenea	Grietas o hendiduras por donde sale el magma
Cono volcánico	Se debe a la acumulación de lava solidificada
Fisuras	Conducto que conecta la cámara magmática con el exterior
Piroclasto	Apertura que se halla en la cima del volcán
Cráter	Fragmento sólido expulsado en una erupción volcánica

LIVEWORKSHEETS

Ejercicio 6: Sopa de letras (encuentra las palabras)

Busca las siguientes palabras: magma, piroclasto, colada, activo, cono, peleano, caldera

Y	I	T	X	L	Y	Y	A	A	R	A	V	N	F
Q	T	P	I	R	O	C	L	A	S	T	O	V	P
Z	Q	Q	H	O	G	H	I	O	S	B	O	R	B
H	Z	T	Z	L	T	U	Q	N	B	I	Y	O	U
J	B	V	Z	C	Q	X	Y	R	X	E	K	A	E
C	M	A	C	L	C	F	O	A	O	L	X	V	C
O	Q	C	Z	P	L	N	I	C	O	P	H	Q	O
N	M	T	E	C	R	V	Y	A	F	E	X	W	L
O	A	I	E	D	Z	R	A	L	V	L	M	P	A
K	G	V	K	R	S	N	Z	D	K	E	D	Z	D
D	M	O	W	R	L	U	B	E	V	A	P	V	A
D	A	D	L	N	A	A	L	R	W	N	Z	S	Z
Y	N	C	I	F	S	U	A	A	V	O	Q	Y	R
E	V	G	B	Y	X	K	Q	B	Y	T	K	G	I

Las palabras pueden estar ocultas horizontalmente, verticalmente o diagonalmente.

LIVEWORKSHEETS