TUẦN 1

TIẾT 1

Bài 1. Điền số

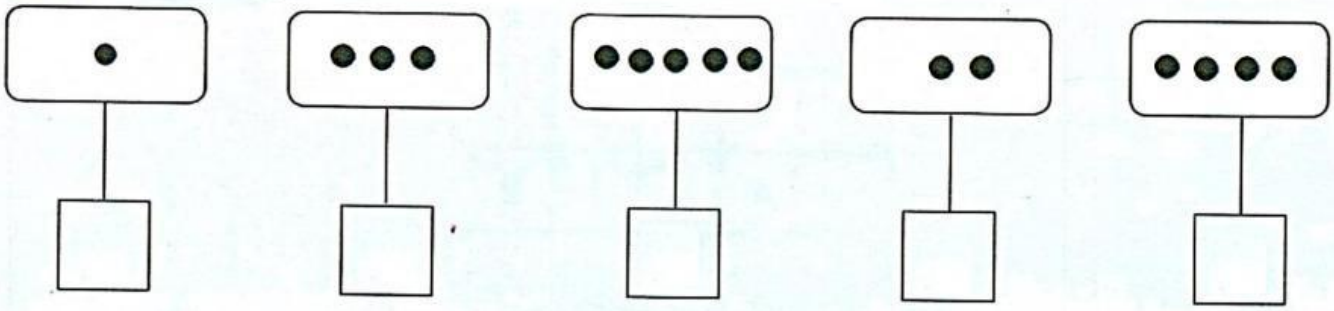

Bài 2. Điền số thích hợp nhất vào ô trống:

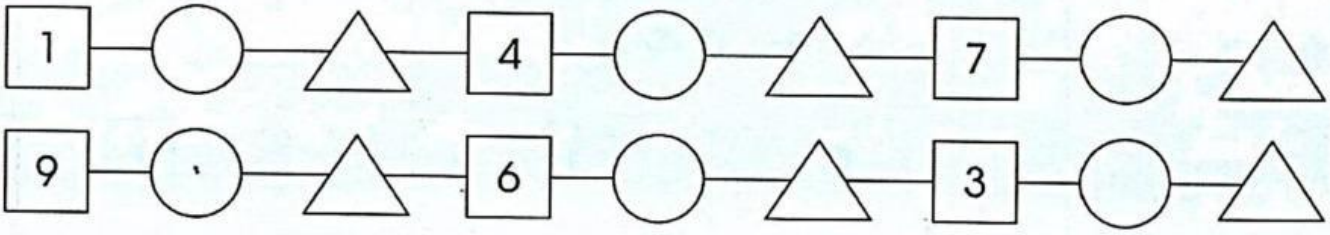

Bài 3. Nối các điểm theo thứ tự từ 1 đến 10 rồi tô màu để hoàn thiện bức tranh:



Bài 4. An đứng thứ tư trong hàng, đứng thứ năm nếu tính từ cuối hàng. Hỏi có bao nhiêu bạn cùng xếp hàng?

Trả lời: Có ..... bạn cùng xếp hàng.

Bài 5. Điền số thích hợp vào ô trống:

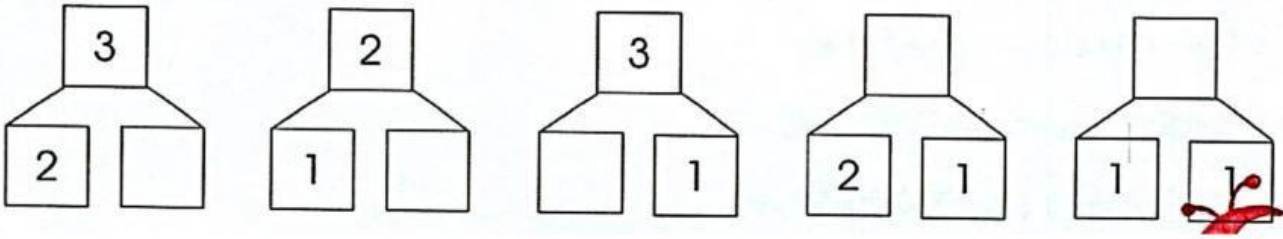

LIVEWORKSHEETS