(((الوحدة الأولى)))

ورقة عمل(١) في مادة الرياضيات (من الدرس الأول إلى السادس) للصف الأول الأساسي

أضع دائرة حول رمز العدد الدال على المجموعة:

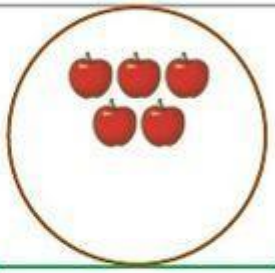	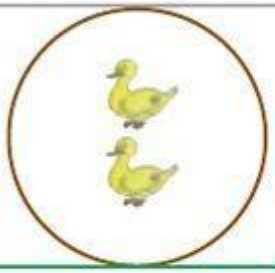		
١ – ٢ – ٣ – ٤ – ٥	١ – ٢ – ٣ – ٤ – ٥	١ – ٢ – ٣ – ٤ – ٥	١ – ٢ – ٣ – ٤ – ٥

أكمل رسم العناصر بقدر العدد المطلوب:

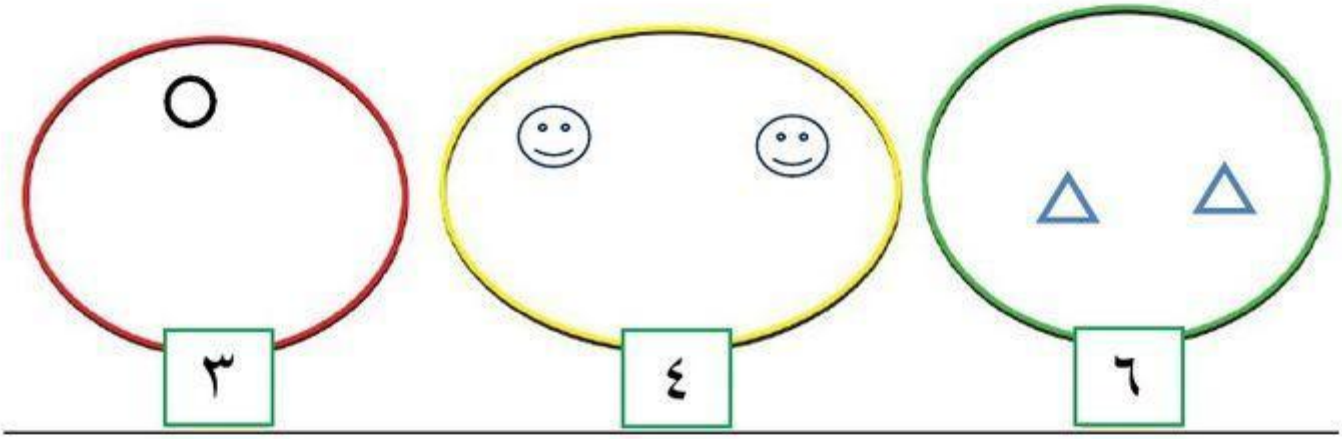

أكتب رمز العدد :

أربعة	
خمسة	
اثنان	
ثلاثة	
ستة	
واحد	

LIVEWORKSHEETS