ورقة عمل في المثلثات

صنف المثلثات الآتية وفق زواياها

مثلث قائم الزاوية	مثلث منفرج الزاوية	مثلث حاد الزوايا

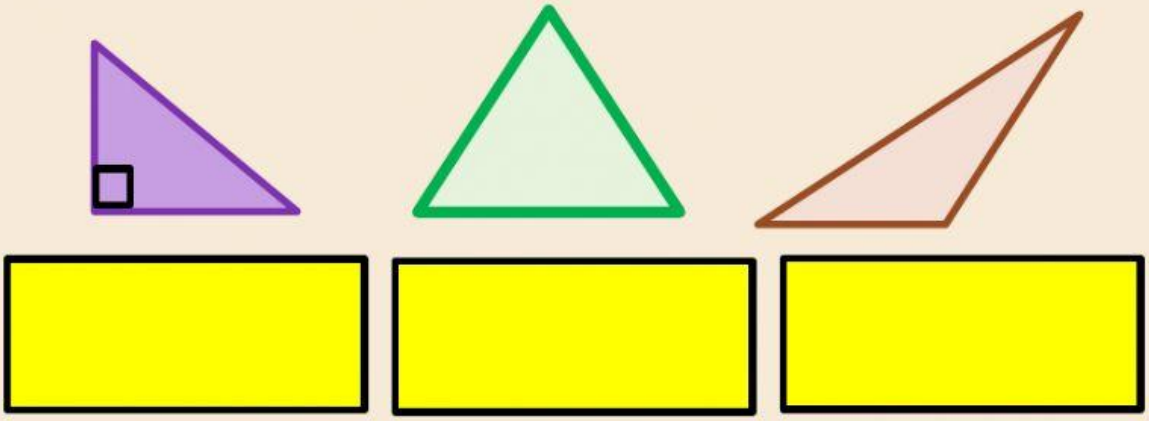

صل العمود (أ) بما يناسبه في العمود (ب)

(أ)	(ب)
مثلث متطابق الضلعين	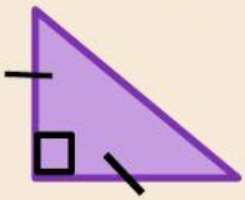
مثلث مختلف الأضلاع	
مثلث متطابق الاضلاع	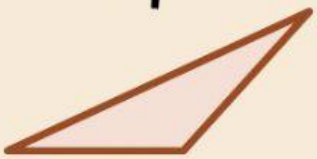

LIVEWORKSHEETS

أوجد قياس الزاوية المجهولة

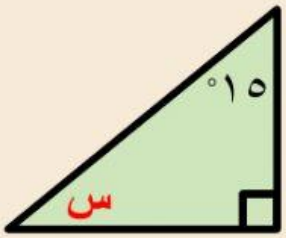

س =

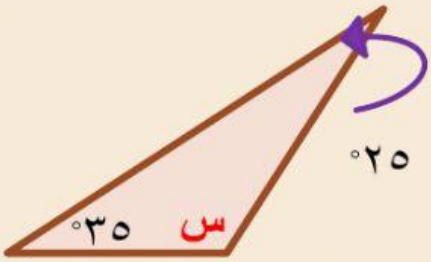

س =

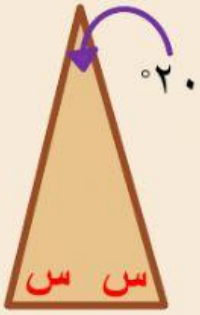

س =

LIVEWORKSHEETS