POVRCH KRYCHLE A KVÁDRU

1. Popiš krychli.

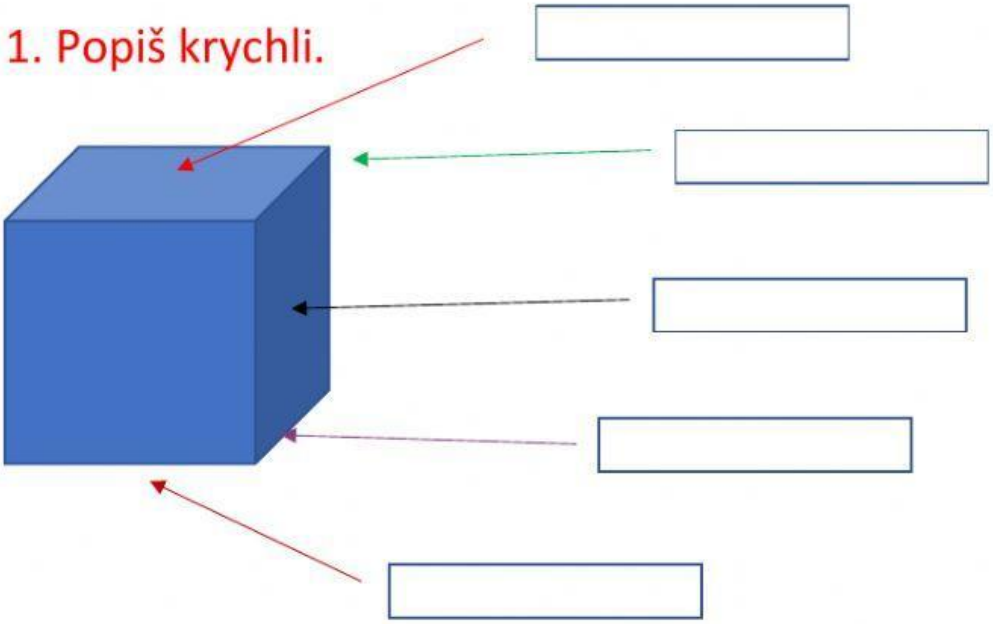

vrchol | hrana | horní podstava

boční stěna | dolní podstava

2. Vyber správné sítě krychle (klikni na ně).

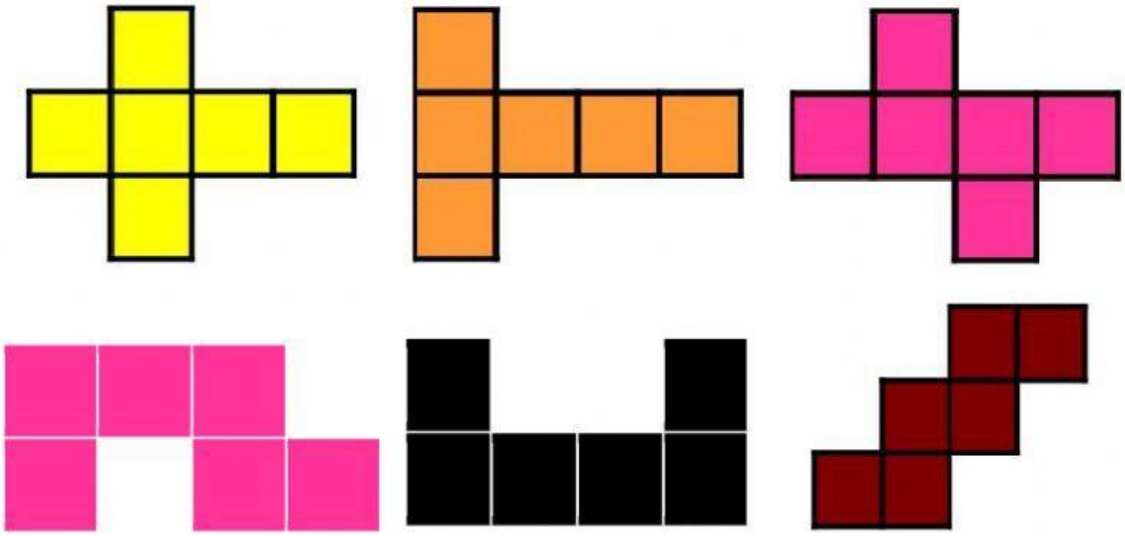

LIVEWORKSHEETS

3. Vypočítej povrch krychle. Hrana a měří 50 mm.

Vzorec

Výpočet

Odpověď

4. Zapiš správný název sítě (piš malými písmeny).

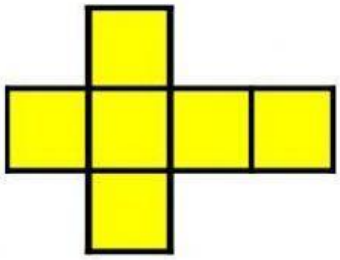

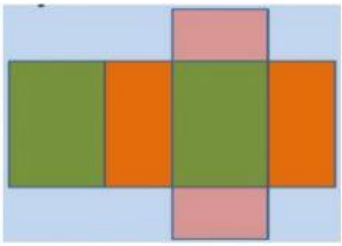

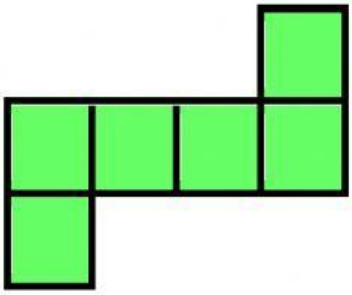

LIVEWORKSHEETS

5. Vypočítej povrch kvádru, a = 2cm, b = 3 cm, c = 4 cm.

Vzorec

Výpočet

Odpověď

6. Vyber z možností správný převod jednotek obsahu.

8 m^2 = _____ cm^2

7 dm^2 = _____ cm^2

20 cm^2 = _____ mm^2

45 km^2 = _____ m^2

9 m^2 = _____ dm^2

3 dm^2 = _____ mm^2

8 m^2 = _____ mm^2

6 km^2 = _____ cm^2

5 km^2 = _____ dm^2

LIVEWORKSHEETS