TRABAJAMOS LAS FRACCIONES CON ÁNGELA

1. **Completa el numerador o denominador en función de la imagen y escribe debajo si falta el numerador o el denominador.**

Ángela ha comido pizza para cenar dos noches.

La primera ha comido:

$\frac{\quad}{2}$

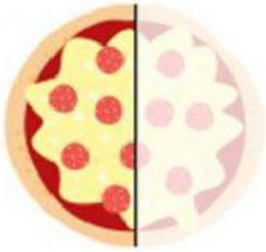

Falta el:

La segunda ha comido:

$\frac{4}{\quad}$

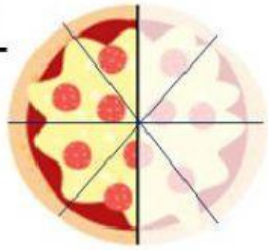

Falta el:

- ¿Se ha comido la misma cantidad de pizza las dos noches?

_____

2. **Escribe la fracción que representa y su nombre.**



La fracción del chocolate que se ha comido:

_____ ➡

La fracción del chocolate que queda por comer:

_____ ➡

LIVEWORKSHEETS

3. **Ha llegado el día del cumpleaños de mi amiga María, por lo que la he hecho una tarta para su celebración.**

   Cuando llego al cumpleaños de mi amiga con la tarta la parto en 7 porciones:

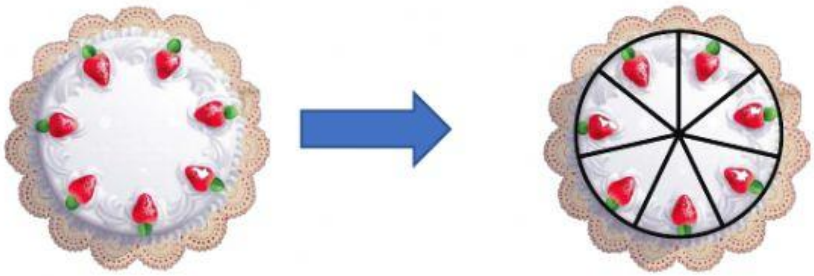

   Si ya he repartido a los invitados $\frac{3}{7}$ de la tarta. ¿Cuántas porciones de la tarta me quedan por repartir?

   ____ ◯ ____ ◯ ____

   Respuesta larga: _____

4. **Ayer he comido $\frac{2}{9}$ de un paquete de galletas si hoy he comido $\frac{3}{9}$. ¿Cuánto he comido en total?**

   ____ ◯ ____ ◯ ____

   Respuesta larga: _____

5. **Escribe la fracción que representa y ordena de mayor a menor las siguientes fracciones:**

____ →

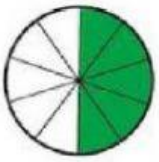

____ →

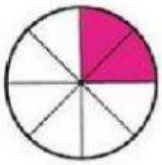

____ →

____ →

____ > ____ > ____ > ____

MISIÓN
LIVEWORKSHEETS