Phiếu bài tập

Ôn tập số lượng trong phạm vi 3

Em hãy xem video sau đây nhé!

LIVEWORKSHEETS

Bài 1: Em hãy đếm và nối số lượng tương ứng:

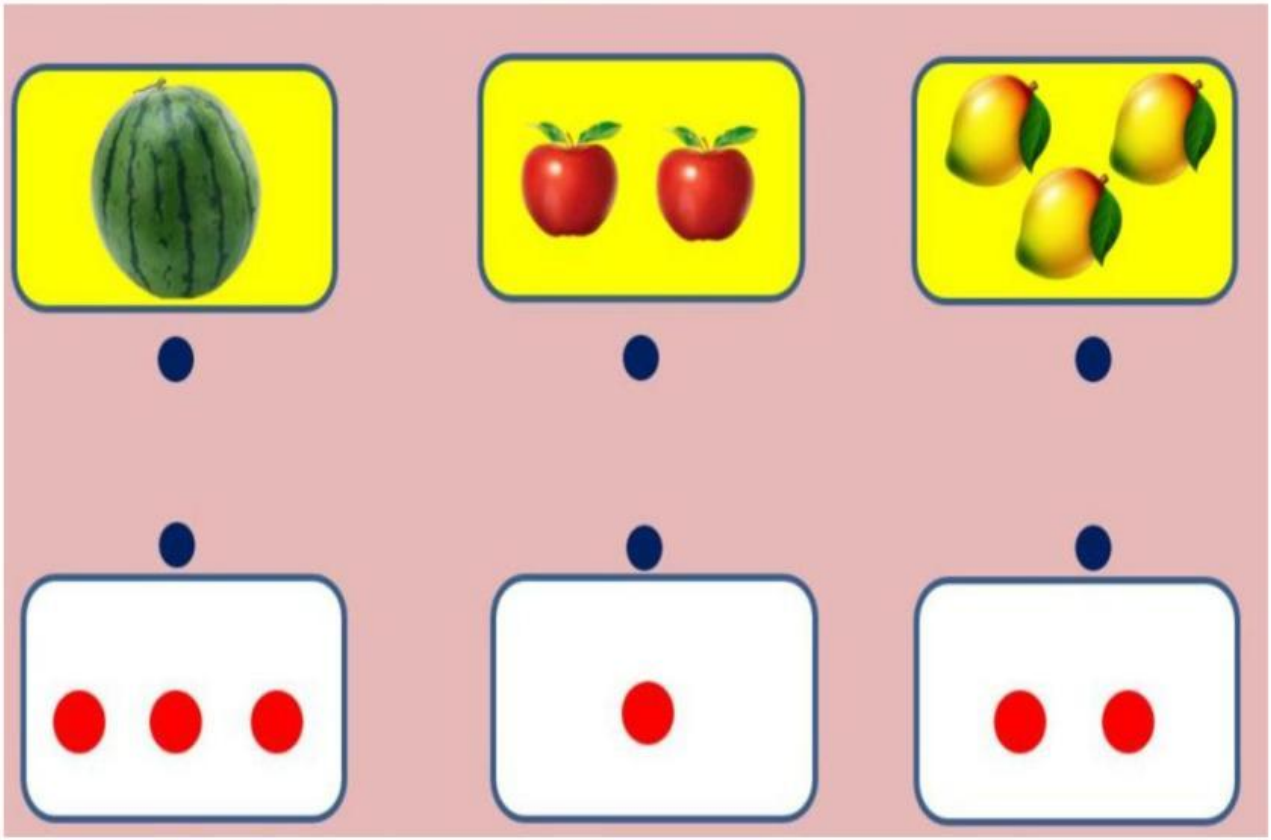

LIVEWORKSHEETS

Bài 2: Đếm số lượng và điền số tương ứng:









LIVEWORKSHEETS

Bài 3: Chọn đáp án đúng:

a)

Hỏi: Có bao nhiêu quả dâu tây?

☐ 3 ☐ 2 ☐ 1

b)

Hỏi: Có bao nhiêu quả xoài?

☐ 2 ☐ 3 ☐ 1

c)

Hỏi: Có bao nhiêu quả cam?

☐ 1 ☐ 2 ☐ 3

LIVEWORKSHEETS

Bài 4: Em hãy đếm và kéo thả số lượng tương ứng:

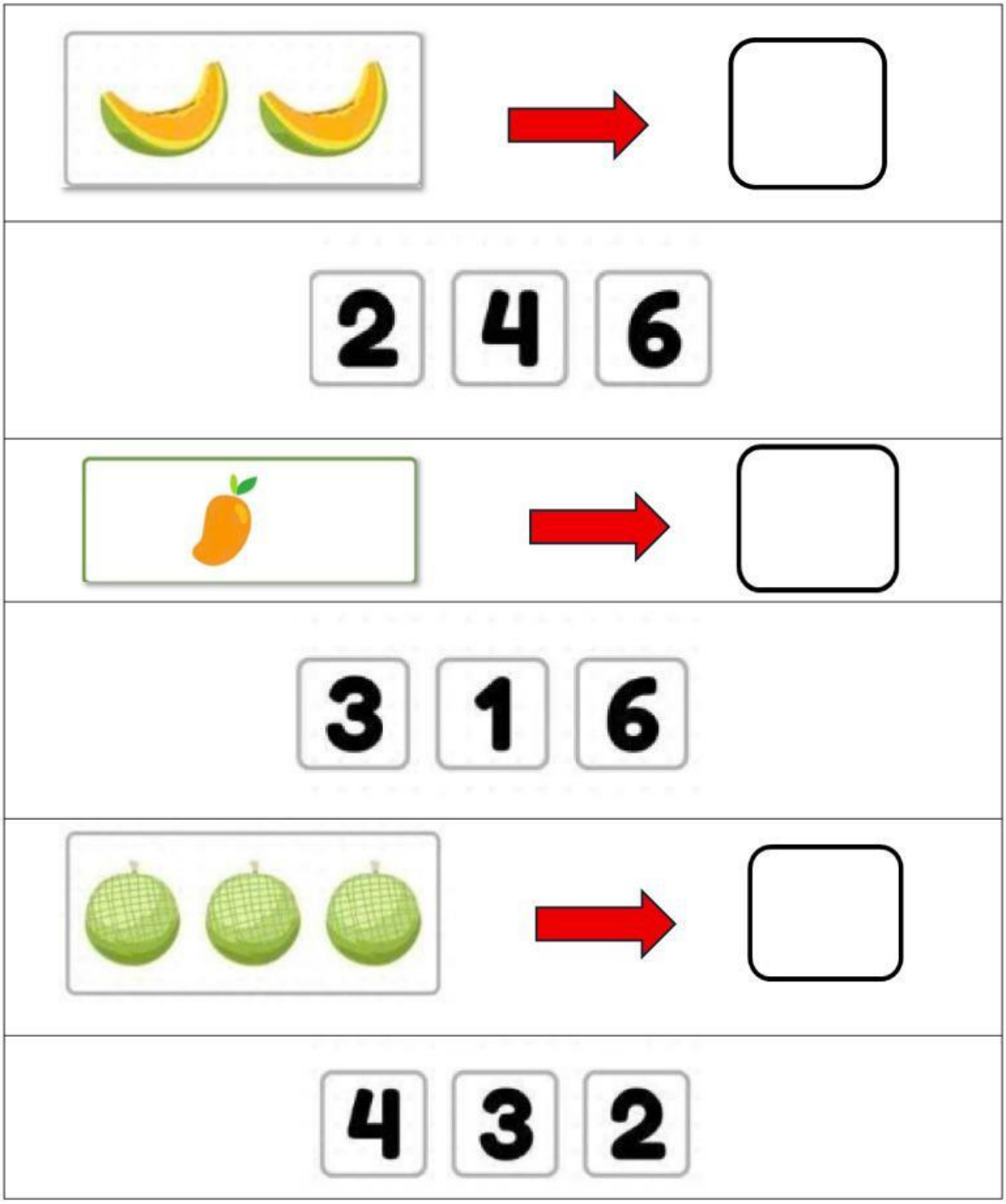

LIVEWORKSHEETS

LIVEWORKSHEETS