GEOGRAFIJOS ATSISKAITYMAS 6 kl. „Vidinė žemės sandara ir litosferos plokštės“

1. Į tuščius kvadratėlius įrašykite tinkamas Žemės rutulio dalis. **3t.**



2. Naudodamiesi litosferos sandaros schema atlikite užduotis. **4t.**

2.1. Tuščiuose apskritimuose pažymėkite:

žemyninė pluta – Ž

vandenyninė pluta – V

viršutinė mantija – VM

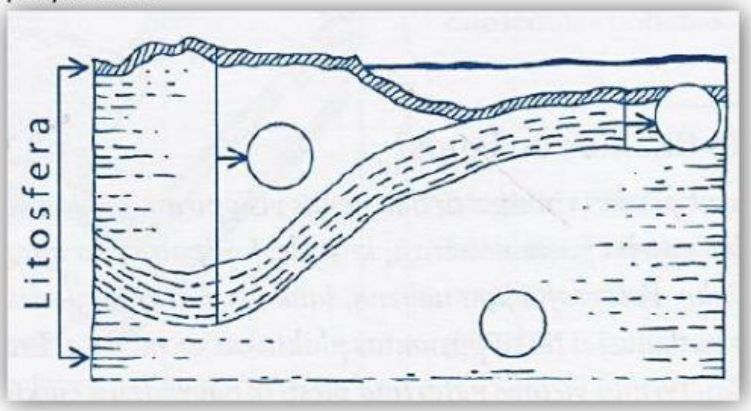

2.2. Kas yra litosfera?

3. Remdamiesi žodžiai skliaustuose apibūdinkite žemyninę ir vandenyninę Žemės plutą. **4t.**

PLUTOS SAVYBĖS	ŽEMYNINĖ PLUTA	VANDENYNINĖ PLUTA
STORIS 1t. **(plonesnė, storesnė)**		
AMŽIUS 1t. **(sena, jauna)**		
SLUOKSNIAI 2t. **(nuosėdinės uolienos, granitas, bazaltas)**		

LIVEWORKSHEETS

13. Apibūdinkite litosferos plokščių ribų pavyzdžius ir jų susidūrimo pasekmes. 9t.

PLOKŠČIŲ JUDĖJIMO TIPAI	**Kokios plokštės susitinka?** (dvi vandenyninės, dvi žemyninės, vandenyninė ir žemyninė)	**Ar vyksta žemės drebėjimai?** (taip, ne)	**Ar veržiasi ugnikalniai?** (taip, ne)
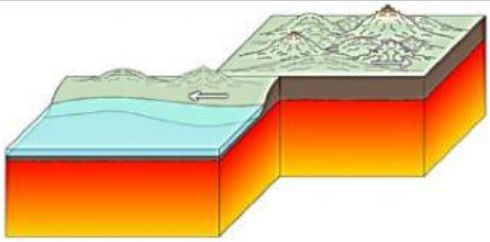		0,5	0,5
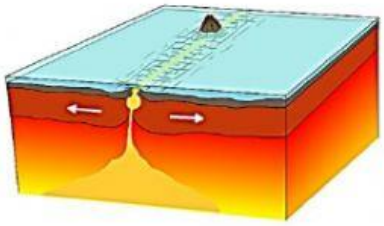	1t.	0,5	0,5
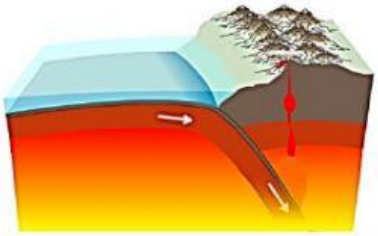	1t.	0,5	0,5
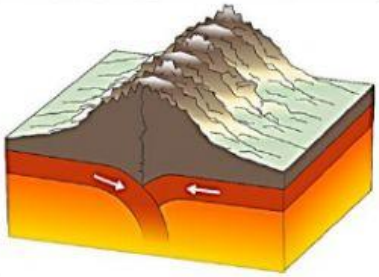	1t.	0,5	0,5
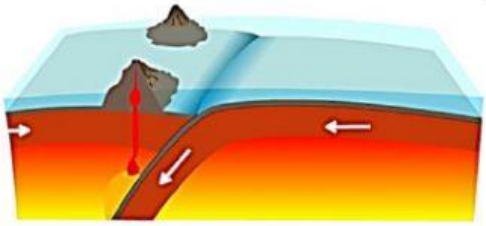	1t.	0,5	0,5

VERTINIMAS

20-19 t.	10	14-13 t.	7	8-7 t.	4
18-17 t.	9	12-11 t.	6	6-5 t.	3
16-15 t.	8	10-9 t.	5	< 5t.	2

LIVEWORKSHEETS