Ознаки паралельності прямих

1

Якими є прямі a і b ?

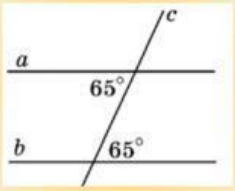

паралельні **перетинаються**

2

Якими є прямі a і b ?

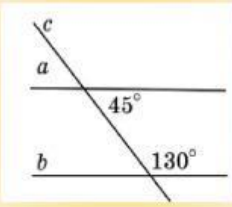

паралельні **перетинаються**

3

Якими є прямі a і b ?

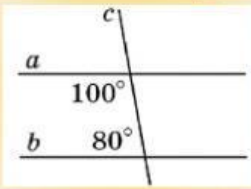

паралельні **перетинаються**

4

Якими є прямі a і b, якщо кут 1 дорівнює куту 2?

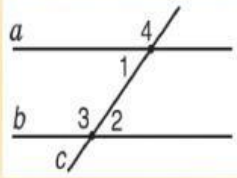

паралельні **перетинаються**

5

Паралельні прямі a і b перетинає січна c. Сума кутів 2 і 3 дорівнює 140^0. Знайди кут 1 .

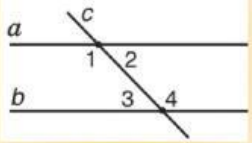

110^0 **40^0** **140^0** **20^0**

6

Один із внутрішніх односторонніх кутів, що утворилися при перетині двох паралельних прямих січною, на 80° більший за інший. Чому дорівнюють ці кути?

50^0 і 130^0 **80^0 і 100^0** **90^0 і 90^0** **40^0 і 140^0**

LIVEWORKSHEETS