3. PENGOLAHAN DATA

Lengkapilah bagian organel dari sel tumbuhan dan sel hewan di bawah ini!!

ORGANEL SEL PADA TUMBUHAN

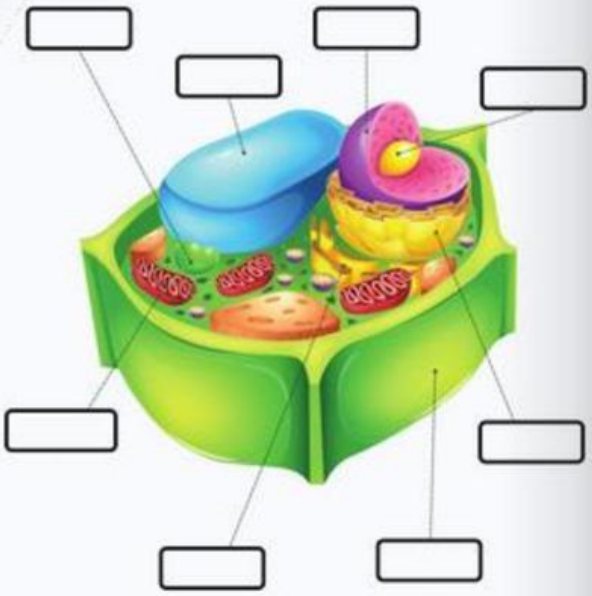

ORGANEL PADA SEL HEWAN

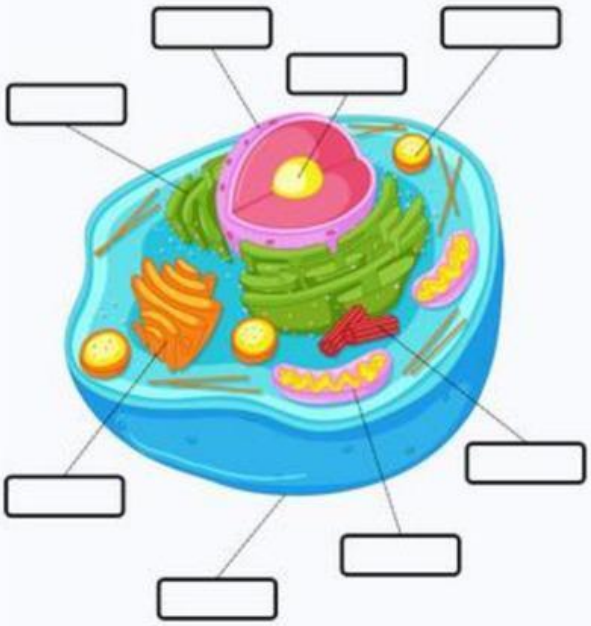

LIVEWORKSHEETS

Cocokkanlah gambar organel sel dan fungsinya dibawah ini dengan cara menarik garis!

ORGANEL SEL	FUNGSI ORGANEL SEL
Vakuola	
Mitokondria	
Nukleus	
Ribosom 	
Badan Golgi	
Kloroplas	
Retikulum Endoplasma	

Tuliskan perbedaan sel hewan dan sel tumbuhan pada tabel dibawah ini!

No	Struktur	Sel Hewan	Sel Tumbuhan
1	Dinding Sel		
2	Lisosom		
3	Kloroplas		
4	Vakuola		
5	Ukuran Sel		
6	Bentuk		

Berdasarkan tabel diatas, Mengapa sel hewan dan sel tumbuhan memiliki perbedaan struktur misalnya pada sel tumbuhan yang memiliki dinding sel yang kaku sedangkan sel hewan tidak?

Jawab:

LIVEWORKSHEETS

LIVEWORKSHEETS