Nama :

Kelas :

LKPD SISTEM REPRODUKSI MANUSIA

Pembelahan sel sangat penting bagi kelangsungan hidup semua mahluk hidup. Pembelahan sel bertujuan untuk pertumbuhan, perbaikan, dan reproduksi.

A. PEMBELAHAN SEL

1. Pilihlah nama fase pembelahan sel berikut ini!

2. Tujuan pembelahan sel adalah

3. Lengkapilah tabel berikut ini!

Ciri - Ciri	Pembelahan Mitosis	Pembelahan Meiosis
Hasil sel anakan		
Sifat sel anakan		
Tempat terjadi		
Jumlah kromosom		

LIVEWORKSHEETS

LIVEWORKSHEETS

B. STRUKTUR DAN FUNGSI ORGAN REPRODUKSI LAKI-LAKI

Pasangkan nama alat reproduksi sesuai dengan gambar berikut!

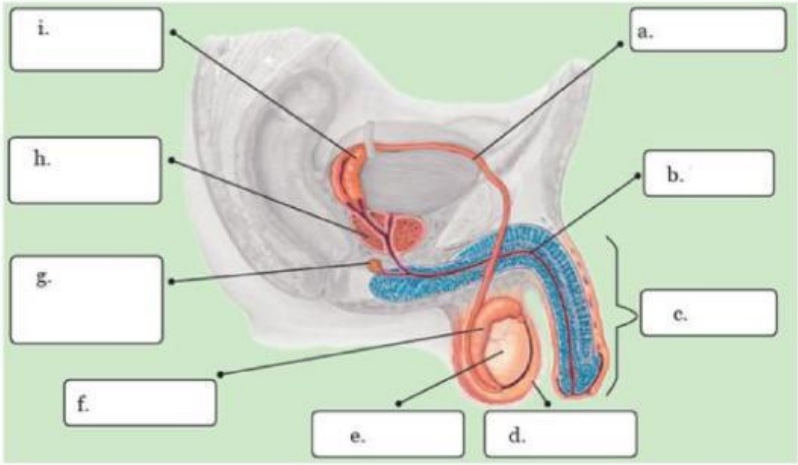

Skrotum	Epididimis	Vesikula Seminalis	Uretra	Testis
Penis	Vas Defererns	Kelenjar Cowper	Kelenjar Prostat	

C. SPERMATOGENESIS

Pasangkan nama fase proses spermatogenesis sesuai dengan gambar berikut ini!

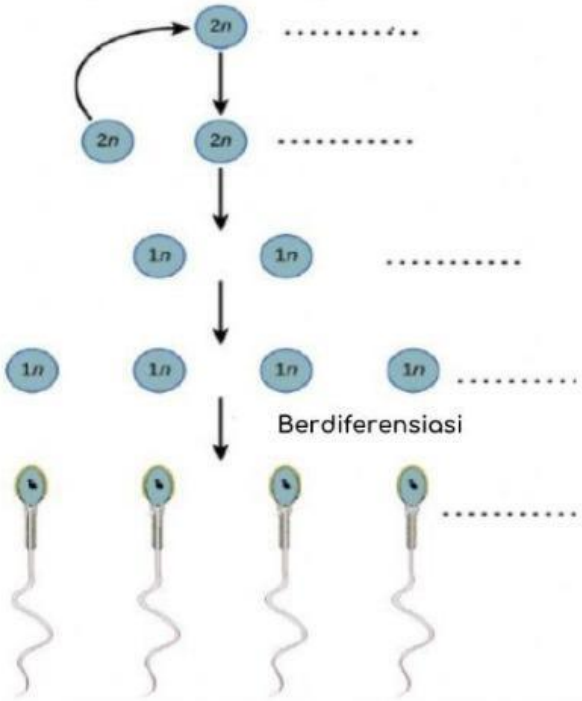

- Spermatosit primer
- Spermatozoa
- Spermatid
- Spermatogonium
- Spermatosit sekunder

LIVEWORKSHEETS

LIVEWORKSHEETS

D. STRUKTUR DAN FUNGSI ORGAN REPRODUKSI LAKI-LAKI

Pasangkan nama alat reproduksi sesuai dengan gambar berikut!

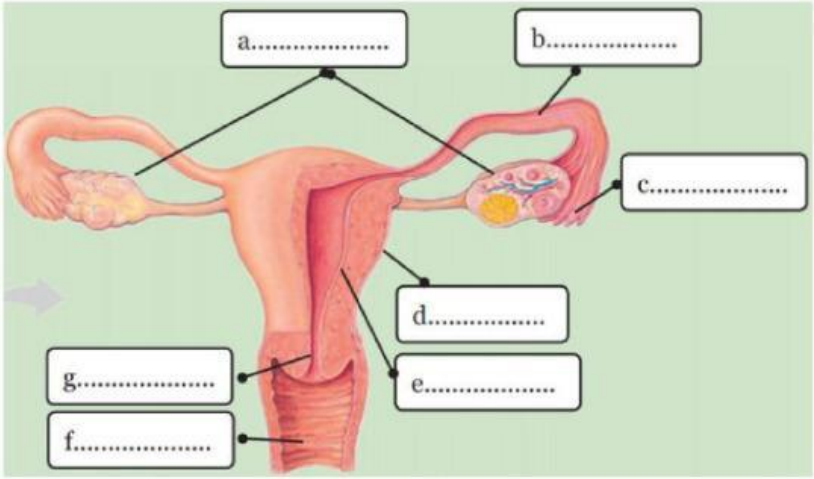

Uterus	Oviduk	Infundibulum	Vagina
Endometrium	Serviks	Ovarium	

E. OOGENESIS

Pasangkan nama fase proses oogenesis sesuai dengan gambar berikut ini!

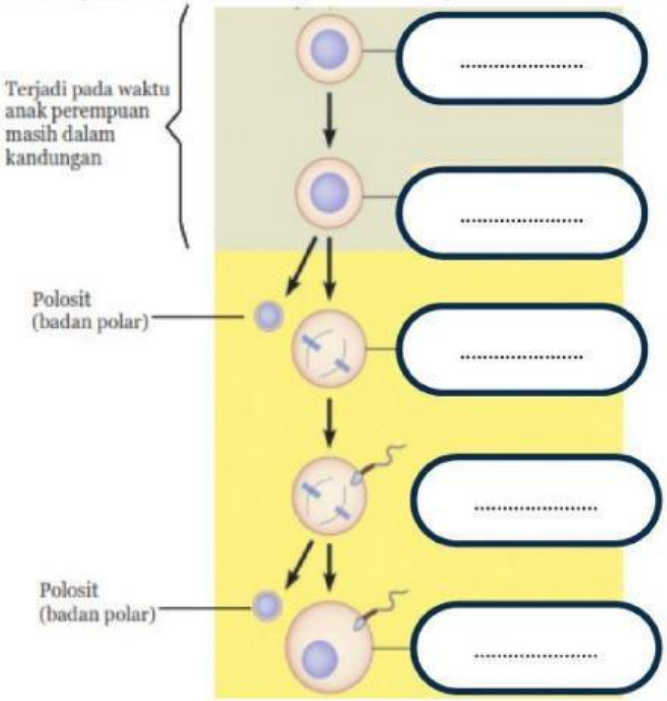

Oosit sekunder

Ovum

Oosit sekunder

Oosit primer

Oogonium

Sumber: Campbell *et al.*, 2008

Gambar 1.6 Proses Oogenesis

LIVEWORKSHEETS

LIVEWORKSHEETS

F. PENYAKIT PADA SISTEM REPRODUKSI MANUSIA

Tarik garis pada bagian kelainan/penyakit sesuai dengan penyebabnya!

AIDS	Virus Herpes Simplex II
GONORE (GO)	Bakteri Treponema Pallidum
SIFILIS	Jamur Candida Albicans
HERPES SIMPLEX GENITALIS	Bakteri Neisseria Gonorrhoeae
KEPUTIHAN	Virus HIV

LIVEWORKSHEETS

LIVEWORKSHEETS