شهد بنت راشد الكاسبية 27130734

السؤال الأول:

1) اختر الاجابه الصحيحه من بين البدائل المعطاه

1) الأزهار هي الجزء م ن النبات الذي يكون :

أ) نبات جديد ب) ثمار ج) البذور د) أوراق

2) الطريقه الأنسب لانتشار البذور في الشكل هي :

أ) للالتصاق بالحيوانات ب) المياه ج) الرياح د) الطيور

3) في الشكل المقابل يشار إلى مكونات عضو التأنيث في الزهره بالرموز :

أ)س،ع،م ب) ص،م،و ج) ع،ص د) س،م

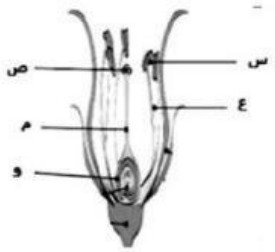

السؤال الثاني :

) 2 ضع عباره صح على الاجابه الصحيحه و عباره خطأ أمام العباره الخاطئه:

العباره	صواب	خطأ

LIVEWORKSHEETS

الميسم هو الجزء المسؤول عن انتاج حبوب اللقاح		
تتحول الأزهار إلى ثمار و تحتوي الثمار على بذور بداخلها		
النباتات الحوليه هي النباتات التي تزهر و تثمر كل عام		

3) أكمل العبارات بما يناسبه :

- الأزهار ذات الألوان الزاهيه يتم تلقيحها بواسطة..... .
- يتم انتاج البويضات في..... .

السؤال الثالث :

1) صل المصطلحات في القائمه أ بما يناسبها في القائمه ب :

القائمة أ

1 - الكربله
2 - السداه
3 - البتلات
4 - حبوب اللقاح

القائمة ب

- تجذب الحشرات لحدوث التلقيح
- تتكون في متك الزهره
- عضو التأنيث
- عضو التذكير

2) تنبأ بماذا سيحدث إذا كان عضو التأنيث غير موجود في الزهره . (١)

.....

3) توضح بيانات الجدول استكشاف نمط أعداد و أجزاء الزهره .

رقم الزهره	عدد السبلات	عدد البتلات	عدد الاسديه	عدد المياسم
A	4	4	4	1
B	4	8	8	4
C	3	6	6	1
D	5	5	0	5

أ)الأزهار التي يتساوى فيها عد د السبلات وعدد البتلات هي .....

LIVEWORKSHEETS

ب)ما الاستنتاج الذي يمكن التو صل اليه من خلا ل بيانات الزهرتين B/C ؟

.....

ج) من خلال بيانات الجدول : الزهره المؤنثة و الغير تامه هي الزهره .....

فسر اجابتك.....

٢) اكتب عمليات دوره حياه نبات الفول الناقصه ف ي المربعات

النم و	الإخصا ب	لإنبا ت	ثا ر البذو ر

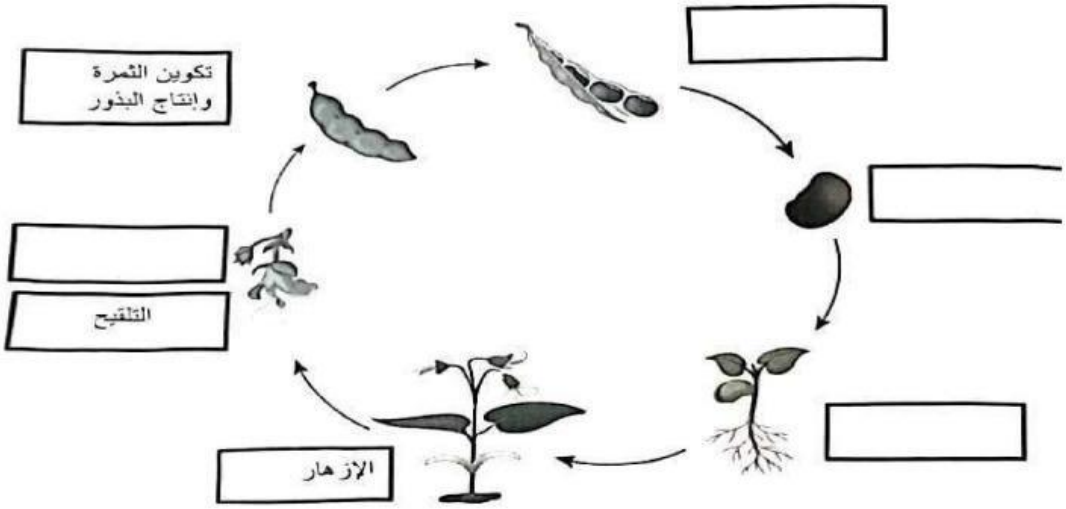

LIVEWORKSHEETS

4) حدد اسم الجزء المشار إليه في لوحة الحروف:

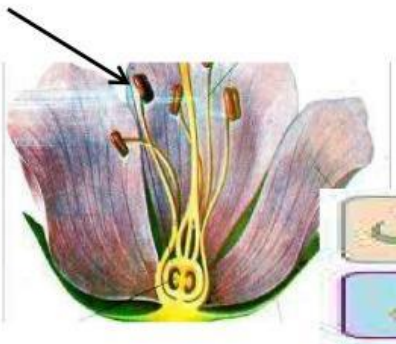



شاهد وتعلم:

LIVEWORKSHEETS