LKPD

Ilmu Pengetahuan Alam

Menjelajah Sel

Nama: _____

Kelas: _____

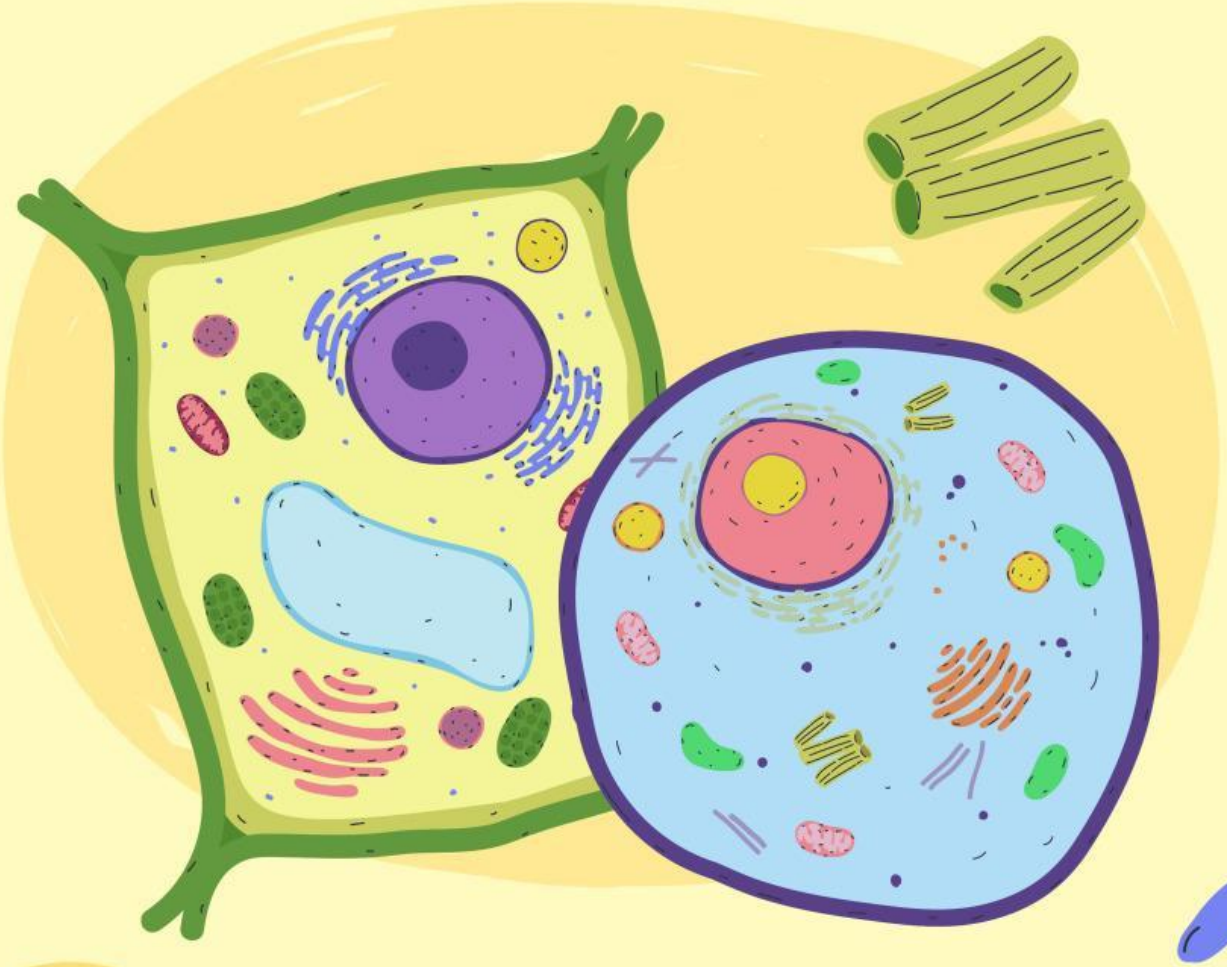

LIVEWORKSHEETS

Nama: **Kelas:**

Bagian-bagian Sel Hewan

- Amati gambar sel hewan di bawah ini dengan saksama.
- Isi nama organel yang ditunjuk pada gambar sel hewan di kotak yang ada di sebelah nomor.
- Pasangkan setiap nama organel dengan fungsi yang sesuai.

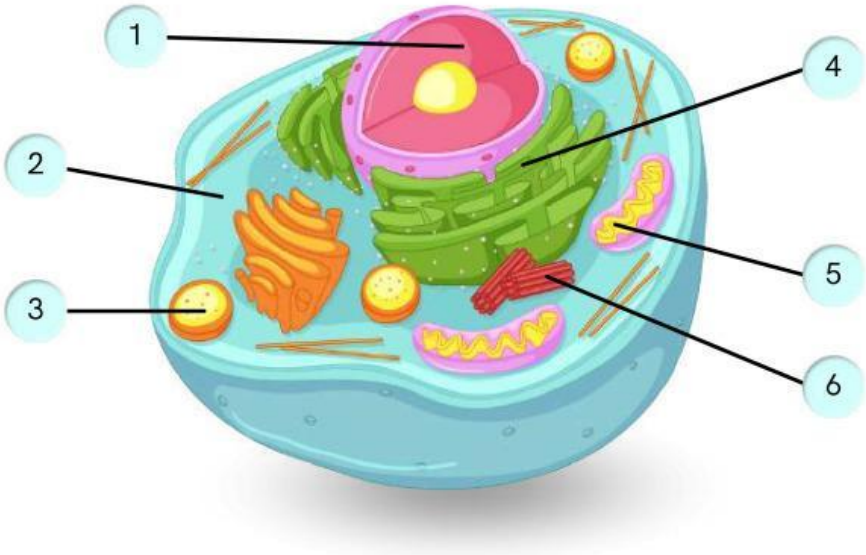

1

2

3

4

5

6

Tempat pencernaan intraseluler

Tempat respirasi seluler

Sebagai pusat pengatur kegiatan sel

Berperan dalam pembelahan sel

Tempat berlangsungnya reaksi kimia sel

Sintesis lemak, metabolime karbohidrat

LIVEWORKSHEETS

Nama:

Kelas:

Bagian-bagian Sel Tumbuhan

- Amati gambar sel tumbuhan di bawah ini dengan saksama.
- Isi nama organel yang ditunjuk pada gambar di kotak yang ada di sebelah nomor.
- Pasangkan setiap nama organel dengan fungsi yang sesuai.

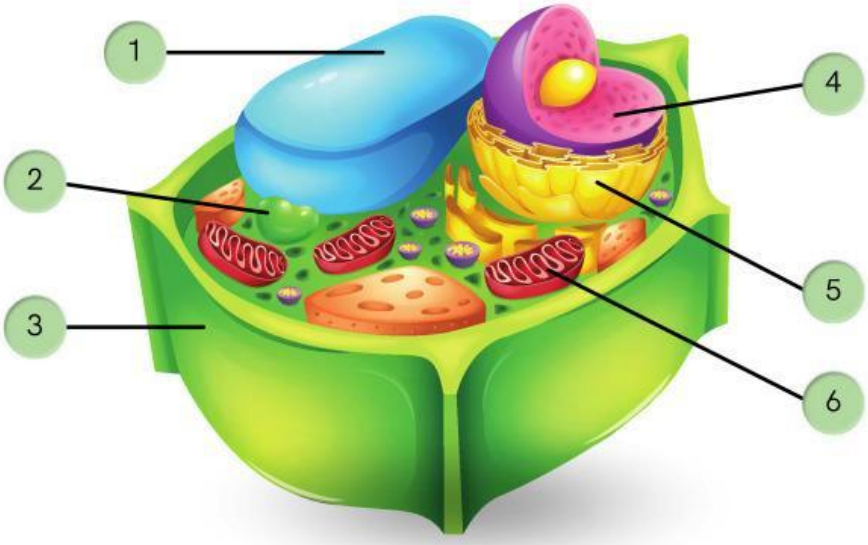

1

2

3

4

5

6

- Tempat terjadinya fotosintesis
- Tempat respirasi seluler
- Sebagai pusat pengatur kegiatan sel
- Tempat penyimpanan air, nutrisi, dll
- Memberi bentuk & melindungi sel
- Sintesis lemak, metabolime karbohidrat

LIVEWORKSHEETS