Nama : Kelas :

MENGENAL FUNGSI ORGAN TUBUH

Pilihlah jawaban yang benar dengan memberi tanda silang (X) pada jawaban yang benar!

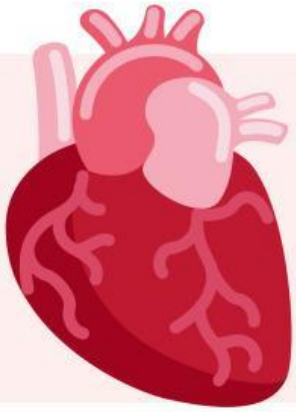

1. Apa fungsi utama dari hati dalam tubuh kita?
   A. Menghasilkan energi
   B. Menyaring racun dari darah
   C. Mengontrol suhu tubuh

2. Organ apa yang bertanggung jawab untuk mengatur keseimbangan cairan dalam tubuh?
   A. Otak
   B. Ginjal
   C. Paru-paru

3. Apa fungsi dari usus halus dalam proses pencernaan?
   A. Mengunyah makanan
   B. Menyerap nutrisi dari makanan
   C. Memompa darah

LIVEWORKSHEETS

Nama :

Kelas :

SOAL MATEMATIKA

Tentukan Faktorisasi Prima dari Bilangan Berikut ini!

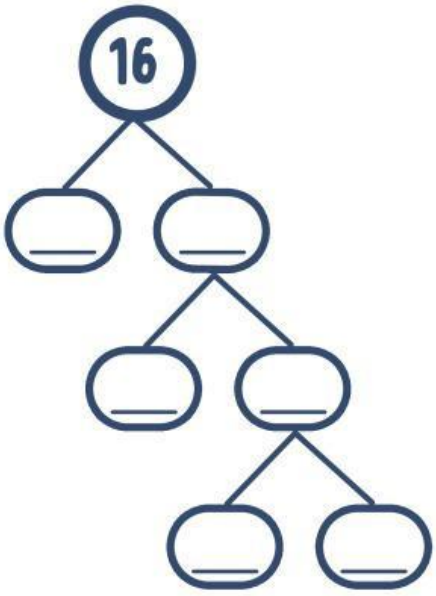

Faktorisasi Prima dari 16 =

$16 = 2 \times 2 \times 2 \times 2 = 2^4$

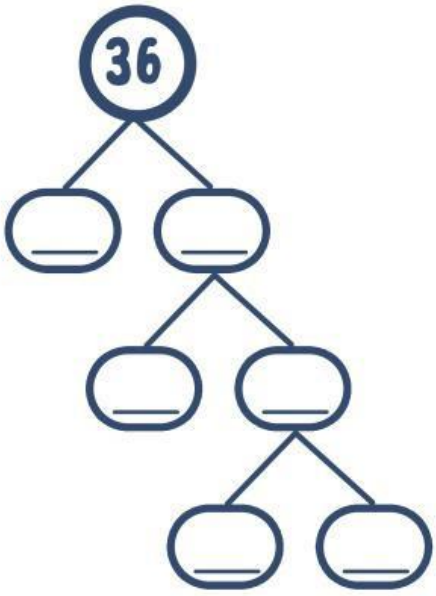

Faktorisasi Prima dari 36 =

$36 = 2 \times 2 \times 2 \times 3 = 2^2 \times 3$

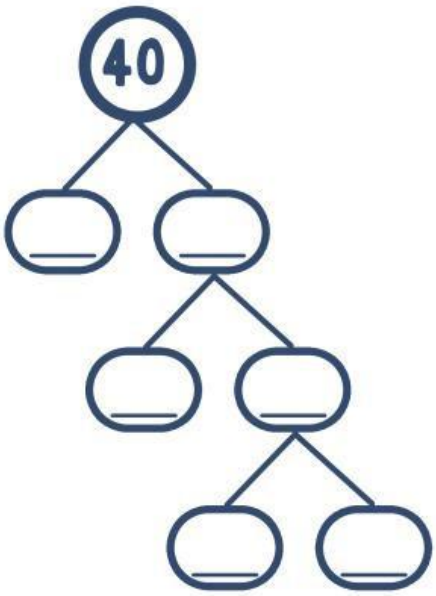

Faktorisasi Prima dari 40 =

$40 = 2 \times 2 \times 2 \times 5 = 2^3 \times 5$

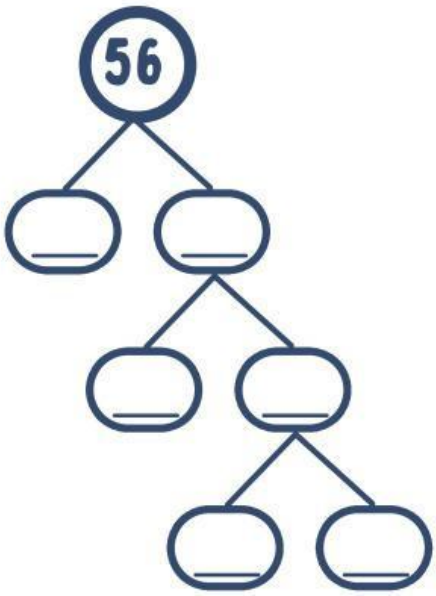

Faktorisasi Prima dari 36 =

$56 = 2 \times 2 \times 2 \times 7 = 2^3 \times 7$

LIVEWORKSHEETS

NAMA :

KELAS :

SOAL KENAMPAKAN ALAM

Coba jelaskan secara singkat dari soal kenampakan alam berikut ini!

1. Apa yang dimaksud dengan kenampakan alam? Sebutkan 2 contoh kenampakan alam!

.....

.....

.....

2. Apa yang terjadi jika gunung berapi meletus?

.....

.....

.....

3. Sebutkan manfaat sungai bagi kehidupan manusia!

.....

.....

.....

4. Sebutkan 3 jenis biota laut!

.....

.....

.....

5. Apa perbedaan antara danau dan laut?

.....

.....

.....

LIVEWORKSHEETS

Nama : .....

Kelas : .....

Memahami Bacaan

Bacalah teks di bawah ini kemudian tentukan pernyataan benar atau salah!

Si Kelinci dan Kura-Kura

Pada suatu hari, kelinci dan kura-kura berdebat tentang siapa yang lebih cepat. Kelinci merasa sombong karena bisa berlari sangat cepat. Ia menantang kura-kura untuk lomba lari. Saat lomba dimulai, kelinci langsung berlari kencang. Karena merasa jauh di depan, kelinci berhenti di bawah pohon untuk tidur siang. Sementara itu, kura-kura berjalan pelan tapi tidak berhenti. Ketika kelinci terbangun, ia melihat kura-kura sudah hampir sampai di garis finish. Kelinci berlari secepat mungkin, tapi akhirnya kura-kura menang.

		Benar	Salah
1.	Kelinci menantang kura-kura untuk lomba renang.	☐	☐
2.	Kura-kura berjalan cepat sekali saat lomba.	☐	☐
3.	Kelinci tidur di bawah pohon karena merasa sudah menang.	☐	☐
4.	Saat kelinci terbangun, kura-kura masih jauh dari garis finish.	☐	☐
5.	Kura-kura menang dalam lomba lari melawan kelinci.	☐	☐
6.	Kelinci tidak pernah beristirahat selama lomba lari.	☐	☐
7.	Kura-kura tidak menyerah meskipun berjalan pelan.	☐	☐
8.	Kelinci merasa sombong karena bisa berlari cepat.	☐	☐
9.	Kura-kura berhenti di tengah jalan untuk tidur siang.	☐	☐
10.	Cerita ini mengajarkan bahwa kita harus selalu berusaha dan tidak sombong.	☐	☐

LIVEWORKSHEETS

Nama: Kelas: No.Absen:

Mengenal Rukun Islam

Pasangkan urutan Rukun Islam di bawah ini dengan tepat.

Puasa | Zakat | Haji | Syahadat | Salat

Saran Guru	Nilai	Paraf
_____	☆☆☆☆☆	

LIVEWORKSHEETS

Nama: _____ Kelas: _____

Sila-Sila dan Simbol Pancasila

tempelkan gambar simbol-simbol Pancasila pada urutan yang benar!



1	2	3	4	5

LIVEWORKSHEETS

Nama :

Kelas :

MENCARI KATA

Temukan 8 kosakata Warna dari dari tabel huruf berikut!

H	B	N	H	Y	P	H	C	B	D
U	U	M	I	P	U	U	M	U	U
A	D	C	J	A	N	I	E	A	A
K	U	N	I	N	G	J	R	K	P
D	E	Q	D	D	U	K	A	D	U
B	D	H	T	B	Q	G	H	B	T
N	G	Z	H	I	J	A	U	N	I
M	E	R	W	R	H	L	C	J	H
Y	J	C	Y	U	H	I	T	A	M
F	O	R	E	N	F	W	J	T	O

- Merah
- Putih
- Hitam
- Biru
- Ungu
- Hijau
- Oren
- Kuning

LIVEWORKSHEETS

Hobby

SPEAKING CARDS B1

Students carry out conversations by answering questions from the following boxes

How do you relax in the evenings?

What do you like spending your free time?

What do you like to do during weekends?

What hobby do you think is enjoyable?

What hobby do you think is the least enjoyable?

What hobbies are the most expensive?

LIVEWORKSHEETS