1. ವಿದ್ಯುತ್ ಪ್ರವಾಹದ SI ಏಕಮಾನ **(MQP3-25)**

A. ಆಂಪೀರ್ (A) B.ಓಮ್ (Ω) C. ವೋಲ್ಟ್ (V) D.ವ್ಯಾಟ್ (W) [ಸು]

2. ವಿದ್ಯುತ್ ಸಾಮರ್ಥ್ಯದ SI ಏಕಮಾನ [ಸು]

A. ಆಂಪೀರ್ (A) B. ಓಮ್ (Ω) C. ವೋಲ್ಟ್ (V) D.ವ್ಯಾಟ್ (W)

3. ವಾಹಕದಲ್ಲಿ ಪ್ರವಹಿಸುವ ಆವೇಶಗಳ ಚಲನೆಗೆ ವಾಹಕವು ತೋರಿಸುವ ಪ್ರತಿರೋಧವೇ [ಸು]

A.ವಿದ್ಯುತ್ ಪ್ರವಾಹ B. ವಿದ್ಯುತ್ ವಿಭವಾಂತರ C. ವಿದ್ಯುತ್ ರೋಧ D. ವಿದ್ಯುತ್ ಸಾಮರ್ಥ್ಯ

4. ವಿದ್ಯುದಾವೇಶಗಳ ಪ್ರವಾಹದ ದರವೇ [ಸು]

A.ವಿದ್ಯುತ್ ಪ್ರವಾಹ B. ವಿದ್ಯುತ್ ವಿಭವಾಂತರ C. ವಿದ್ಯುತ್ ರೋಧ D. ವಿದ್ಯುತ್ ಸಾಮರ್ಥ್ಯ

5. ಒಂದು ಏಕಮಾನ ಆವೇಶವನ್ನು ವಾಹಕದಲ್ಲಿ ಒಂದು ಬಿಂದುವಿನಿಂದ ಇನ್ನೊಂದು ಬಿಂದುವಿಗೆ ತರುವಲ್ಲಿ ಆಗುವ ಕೆಲಸ [ಸಾ]

A. ವಿದ್ಯುತ್ ಪ್ರವಾಹ B. ವಿದ್ಯುತ್ ವಿಭವಾಂತರ C. ವಿದ್ಯುತ್ ರೋಧ D. ವಿದ್ಯುತ್ ಸಾಮರ್ಥ್ಯ

6. ವಿದ್ಯುತ್ ಮಂಡಲದಲ್ಲಿ ಶಕ್ತಿ ಬಳಕೆಯಾಗುವ ದರ [ಸಾ]

A.ವಿದ್ಯುತ್ ಪ್ರವಾಹ B. ವಿದ್ಯುತ್ ವಿಭವಾಂತರ C. ವಿದ್ಯುತ್ ರೋಧ D. ವಿದ್ಯುತ್ ಸಾಮರ್ಥ್ಯ

7. ವಿದ್ಯುತ್ ಕೋಶವನ್ನು ಮಂಡಲದಲ್ಲಿ ಸೂಚಿಸಲು ಬಳಸುವ ಚಿಹ್ನೆಯ ಚಿತ್ರ [ಸಾ]

A.  B. C. D.

8. ಮುಚ್ಚಿದ ಸ್ವಿಚ್‌ನ್ನು ಮಂಡಲದಲ್ಲಿ ಗುರುತಿಸಲು ಬಳಸುವ ಚಿಹ್ನೆಯ ಚಿತ್ರ [ಸಾ]

A.  B. C. D.

9. ಮಂಡಲದಲ್ಲಿ ರೋಧಕವನ್ನು ಗುರುತಿಸಲು ಬಳಸುವ ಸಂಕೇತ. [ಸಾ]

A.  B. C. D.

10. ಈ ಚಿಹ್ನೆಯು ಮಂಡಲದಲ್ಲಿ ಸೂಚಿಸುವ ಭಾಗ. [ಸಾ]

A. ರೋಧಕ B. ಆಮ್ಮೀಟರ್ C. ಶುಷ್ಕಕೋಶ D. ವೋಲ್ಟ್ ಮೀಟರ್

LIVEWORKSHEETS