ขนม

คำชี้แจง : ให้นักเรียนหาผลลัพธ์ให้ถูกต้อง

40 + = 50



มีค่า = ...

- 10 = 15

มีค่า = ...

x 2 = 24

มีค่า = ...

/ 2 = 5

มีค่า = ...

9 + - 1 = 15

มีค่า = ...

x 3 / 2 = 60

มีค่า = ...

ชื่อ นามสกุล.....**ชั้น**.....**เลขที่**.....

LIVEWORKSHEETS

ไปโรงเรียน

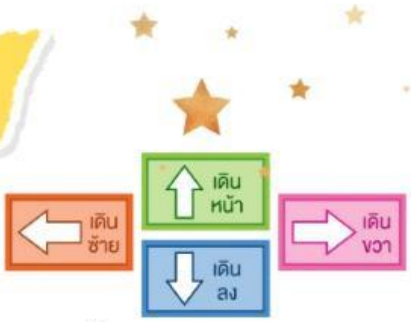

คำชี้แจง : ให้นักเรียนช่วยกวินเดินทางไปโรงเรียน ในเส้นทางที่ใกล้ที่สุด โดยมีเงื่อนไขเดินได้ 4 ทิศทางเท่านั้น



เส้นทางที่ใกล้ที่สุดใช้กี่บัตรคำสั่ง.....

ชื่อ นามสกุล.....ชั้น.....เลขที่.....

LIVEWORKSHEETS

หนูน้อยหมวกแดง

คำชี้แจง : ให้นักเรียนช่วยหนูน้อยหมวกแดงเดินทางไปบ้านคุณยาย ในเส้นทางที่ใกล้ที่สุด โดยมีเงื่อนไขเดินได้ 4 ทิศทางเท่านั้น



เส้นทางที่ใกล้ที่สุดใช้กี่บัตรคำสั่ง.....

ชื่อ นามสกุล.....ชั้น.....เลขที่.....

LIVEWORKSHEETS

ประกอบ

คำชี้แจง : ให้นักเรียนวาดประกอบภาพพีระมิดและระบายสีภาพให้สมบูรณ์ (อย่าลืมเติมหมายเลขด้วยนะคะ)

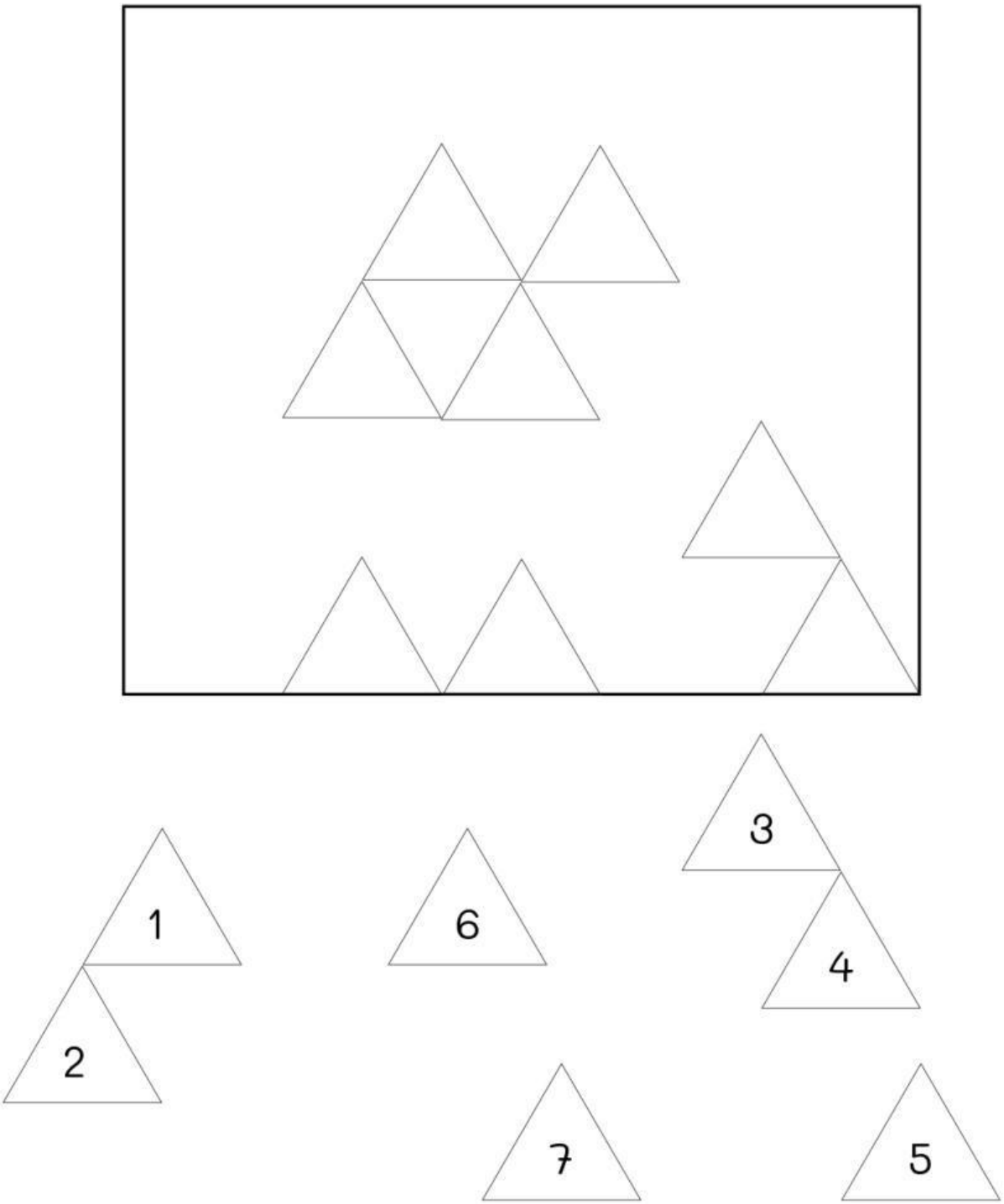

ชื่อ นามสกุล.....ชั้น.....เลขที่.....

LIVEWORKSHEETS