Hoja de trabajo

Selecciono la respuesta correcta:

1. ¿Estas figuras son trapecios?

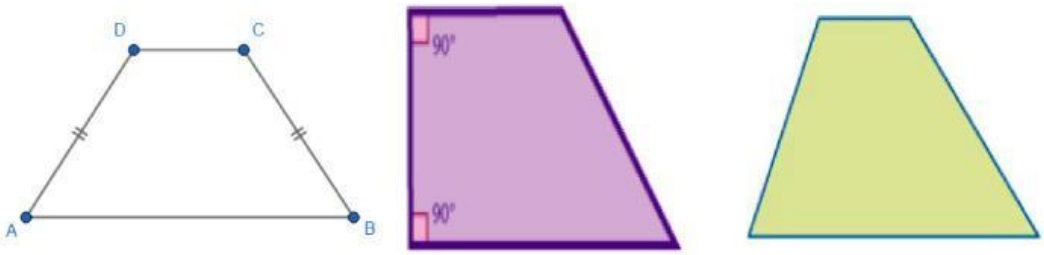

A) Verdadero
B) Falso

Respondo la pregunta:

2. ¿Qué característica tienen en común?

.....
.....
.....

Selecciono la respuesta correcta:

3.Estas figuras tienen cuatro lados:



A) Verdadero
B) Falso

Respondo la pregunta si su respuesta es falso.

4.¿Que figura no tiene cuatro lados?

.....

LIVEWORKSHEETS

Hoja de trabajo

Selecciono la respuesta correcta:

1. ¿Estas figuras son trapecios?

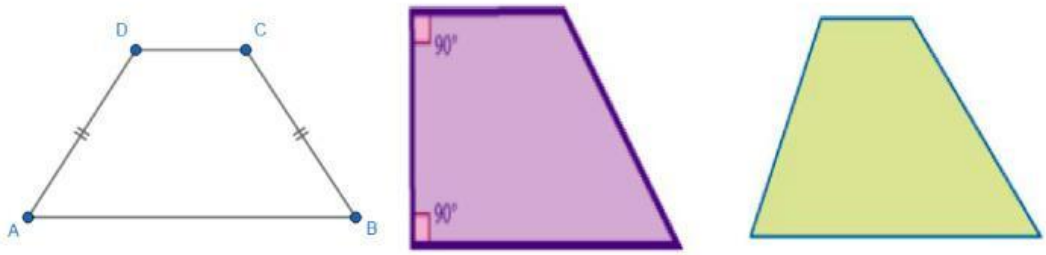

A) Verdadero
B) Falso

Respondo la pregunta:

2. ¿Qué característica tienen en común?

.....
.....
.....

Selecciono la respuesta correcta:

3.Estas figuras tienen cuatro lados:



A) Verdadero
B) Falso

Respondo la pregunta si su respuesta es falso.

4.¿Que figura no tiene cuatro lados?

.....

LIVEWORKSHEETS

Hoja de trabajo

Selecciono la respuesta correcta:

1. ¿Estas figuras son trapecios?

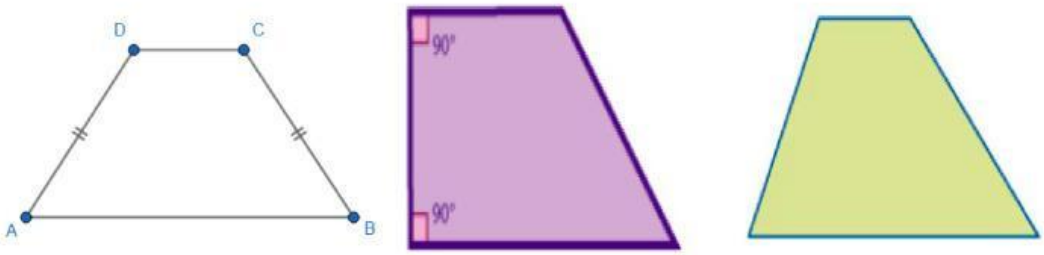

A) Verdadero
B) Falso

Respondo la pregunta:

2. ¿Qué característica tienen en común?

.....
.....
.....

Selecciono la respuesta correcta:

3.Estas figuras tienen cuatro lados:



A) Verdadero
B) Falso

Respondo la pregunta si su respuesta es falso.

4.¿Que figura no tiene cuatro lados?

.....

LIVEWORKSHEETS

Hoja de trabajo

Selecciono la respuesta correcta:

1. ¿Estas figuras son trapecios?

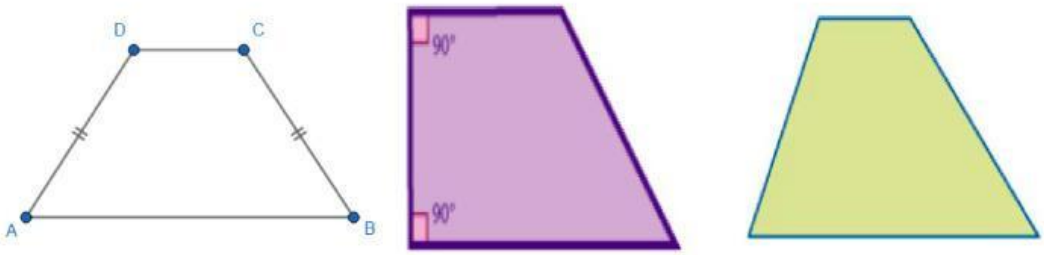

A) Verdadero
B) Falso

Respondo la pregunta:

2. ¿Qué característica tienen en común?

.....
.....
.....

Selecciono la respuesta correcta:

3.Estas figuras tienen cuatro lados:



A) Verdadero
B) Falso

Respondo la pregunta si su respuesta es falso.

4.¿Que figura no tiene cuatro lados?

.....

LIVEWORKSHEETS