VERFICA DI GEOGRAFIA
LA MONTAGNA

Inserisci negli spazi le parole corrette.

CIMA O VETTA	VERSANTE	PIEDE	GHIACCIAIO
PASSO O VALICO	VALLE	CATENA	



Inserisci negli spazi la parola che corrisponde alla definizione

GHIACCIAIO		ZONA PIANEGGIANTE COMPRESA TRA DUE MONTAGNE
VERSANTE		PUNTO PIU' ALTO DELLA MONTAGNA
VALLE		FIANCO DELLA MONTAGNA
MONTAGNA		SUCCESSIONE DELLE MONTAGNE ALLINEATE
PASSO O VALICO		PUNTO DI PASSAGGIO TRA DUE MONTAGNE
VETTA O CIMA		BASE DELLA MONTAGNA
PIEDE		RILIEVO CHE SUPERA I 600 METRI DI ALTITUDINE
ALTITUDINE		NEVE GHIACCIATA ACCUMULATA NEL TEMPO
CATENA MONTUOSA		ALTEZZA DELLA MONTAGNA SUL LIVELLO DEL MARE

LIVEWORKSHEETS

Inserisci le parole negli spazi corretti

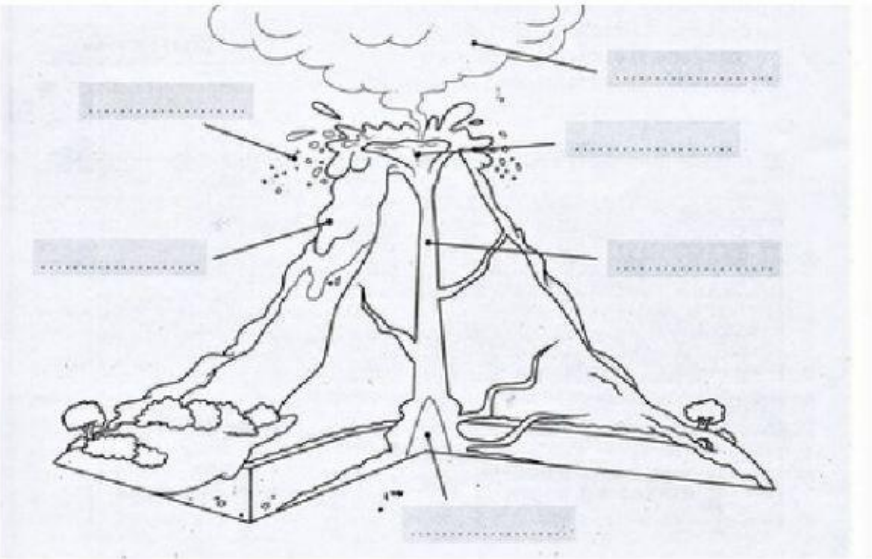

LAPILLI
CAMINO
LAVA
MAGMA
CRATERE
GAS

Completa il testo inserendo le parole corrette negli spazi .

MAGMA	TETTONICA	ROCCE	VULCANICA
CROSTA TERRESTRE	RILIEVI	SOLLEVAMENTO	ROCCIA

La terra è formata da …….. che costituiscono la …….

I movimenti della crosta terrestre danno origine ai ……

L'origine delle montagne può essere di due tipi: ……. O ……

L'origine tettonica deriva dal ……..…… di blocchi di ……..

L'origine vulcanica deriva dalla fuoriuscita e dal deposito del …….. dovuti a un'eruzione.

Scegli la risposta corretta.

1- La montagna è:

☐ Un rilievo naturale del terreno che non supera i 600 metri di altezza

☐ Un rilievo naturale del terreno che supera i 600 metri di altezza

☐ Un rilievo del terreno

2- Le montagne più giovani sono:

☐ Meno alte e hanno forme arrotondate

☐ Più alte con cime aguzze e pareti ripide

☐ Più alte e con cime tondeggianti

LIVEWORKSHEETS

3- Le montagne più antiche sono:

- Meno alte e hanno forme arrotondate
- Più alte con cime aguzze e pareti ripide
- Più alte e con cime tondeggianti

4- Come si sono formate le montagne?

- Dall'innalzamento della crosta terrestre
- Dal variare continuo del clima
- Dal deposito continuo di detriti sul fondo del mare

5- Le montagne si sono formate tutte nello stesso modo?

- Sì, tutte le montagne si sono formate nello stesso modo
- No, alcune montagne si sono formate per la caduta di un meteorite
- No, alcune montagne si sono formate per l'accumulo di magma in superficie o sotto la crosta terrestre che si è sollevata

6- Che cosa è l'altitudine?

- E' l'altezza di una montagna calcolata dalla base alla cima
- È l'altezza di un luogo in base all'altezza dei suoi abitanti
- È l'altezza di un luogo calcolata dal livello del mare

7- Cosa sono i Vulcani?

- Sono accumuli di materiale roccioso staccati dalle montagne e trascinati a valle
- Sono montagne a forma di cono; attraverso un'apertura, detta cratere eruttano lava
- Sono un insieme di montagne una attaccata all'altra

8- Cosa sono i ghiacciai?

- Sono zone poco abitate e poco coltivate perché fa molto freddo
- Sono distese di acqua
- Sono accumuli di neve che si è trasformata in ghiaccio

9- Alcune montagne sono basse e arrotondate perché...

- si sono formate da poco.
- sono sempre state così.
- sono state erose dagli agenti atmosferici.

LIVEWORKSHEETS

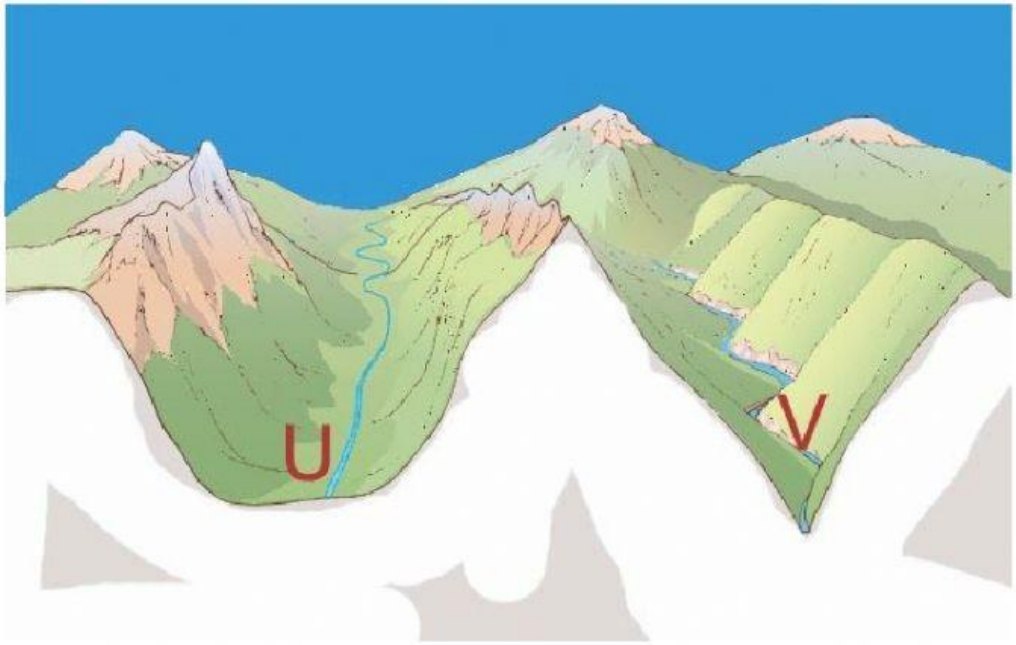

Osserva l'immagine e scrivi di fianco alle seguenti frasi **U** se si riferisce alla valle U, e **V** se si riferisce alla valle a V.

Sono le valli scavate dai ghiacciai	
Hanno versanti ripidi e un fondovalle stretto	
Lo scorrere di un fiume, nel corso dei millenni, ha eroso il territorio	
Hanno versanti dolci e scendono lentamente verso il fondovalle	
Un antico ghiacciaio è scivolato verso il basso a causa del suo peso	
Sono ampie e spesso vi sorgono paesi	

LIVEWORKSHEETS