Họ và tên:

Lớp:

Phiếu bài tập

Thiên nhiên vùng Nam Bộ

Các hình 1, 2, 3 gợi cho em điều gì về thiên nhiên của vùng Nam Bộ?

1. Rừng cao su vào mùa khô (Bình Dương)



2. Sông Cửa Lớn (Cà Mau)

3. Biển, đảo Phú Quốc (Kiên Giang)

Em hãy xem video và hoàn thành các bài tập trong phiếu tương tác nhé!

LIVEWORKSHEETS

Thiên nhiên vùng Nam Bộ

1.Vị trí

Hình 4. Lược đồ địa hình vùng Nam Bộ

Em hãy kéo-thả vị trí của các quốc gia, các vùng tiếp giáp, biển, vịnh vào vị trí trên lược đồ cho phù hợp

TÂY NGUYÊN

VỊNH THÁI LAN

BIỂN ĐÔNG

CAM-PU-CHIA

DUYÊN HẢI MIỀN TRUNG

LIVEWORKSHEETS

Thiên nhiên vùng Nam Bộ

1.Vị trí

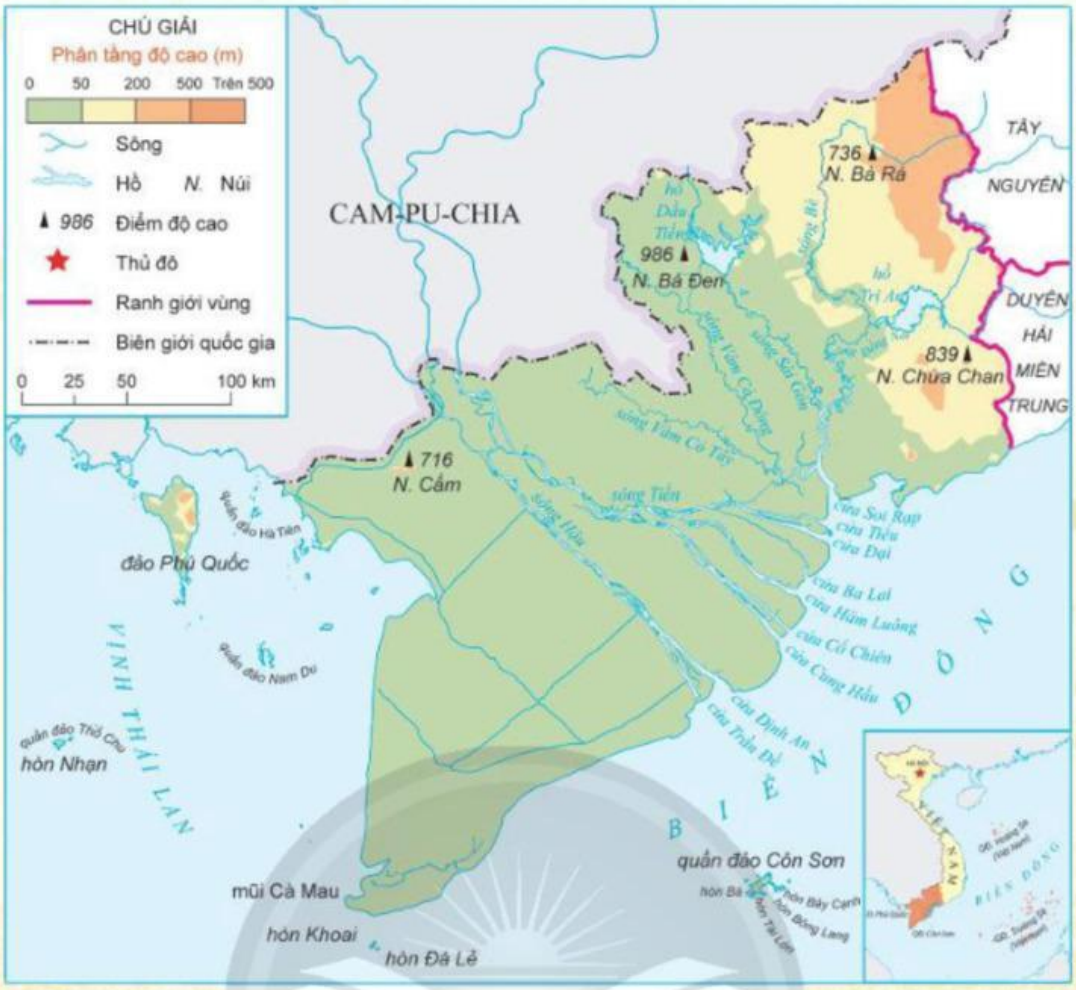

Hình 4. Lược đồ địa hình vùng Nam Bộ

Em hãy chọn các ý đúng về vị trí địa lí của vùng Nam Bộ

Vùng Nam Bộ nằm ở phía Nam của Tổ quốc.

Tiếp giáp với vùng Tây Nguyên và vùng Bắc Bộ.

Tiếp giáp với một quốc gia duy nhất là Cam-pu-chia

Nơi này có vùng biển rộng lớn

LIVEWORKSHEETS

Thiên nhiên vùng Nam Bộ

2. Đặc điểm thiên nhiên

a. Địa hình

Hình 4. Lược đồ địa hình vùng Nam Bộ

Nối khu vực có địa hình có độ cao tương ứng lên lược đồ

0-50 m | 50 - 200 m | 200 - 500 m

Khu vực địa hình có diện tích lớn nhất là: .....

LIVEWORKSHEETS

Thiên nhiên vùng Nam Bộ

2. Đặc điểm thiên nhiên

a. Địa hình

Chọn vào ý đúng nhất

Địa hình của Đông Nam Bộ là:

A. cao hơn Tây Nam Bộ, đồi lượn sóng, mang tính chất chuyển tiếp giữa đồng bằng với cao nguyên.

B. thấp hơn Tây Nam Bộ, bằng phẳng, có nhiều vùng trũng ngập nước.

C. cao hơn Tây Nam Bộ, đồng bằng chiếm phần lớn diện tích.

D. thấp hơn Tây Nam Bộ, đồi thoải và đồng bằng chiếm phần lớn diện tích.

Địa hình của Tây Nam Bộ (đồng bằng sông Cửu Long) là:

A. địa hình khá bằng phẳng, bồi đắp chủ yếu bởi phù sa của sông Tiền và sông Hậu.

B. địa hình khá bằng phẳng, bồi đắp chủ yếu bởi phù sa của sông Đồng Nai.

C. cao hơn Đông Nam Bộ, trên đó có núi Bà Đen, núi Chứa Chan.

D. cao hơn Đông Nam Bộ, chủ yếu là đồi lượn sóng và đồng bằng.

LIVEWORKSHEETS

Thiên nhiên vùng Nam Bộ

2. Đặc điểm thiên nhiên

b. Khí hậu

Điền vào chỗ trống để hoàn thành đặc điểm khí hậu vùng Nam Bộ nhé!

Nam Bộ có nhiệt độ trung bình năm ....., trên .....°C; lượng mưa ....., trung bình khoảng 2 000 mm mỗi năm.

Khí hậu được chia thành ..... mùa rõ rệt. Mùa ..... có khí hậu ẩm ướt. Mùa ..... có lượng mưa ít, nắng nóng.

c. Đất

Kéo-thả để hoàn thành bảng đặc điểm về đất của vùng Đông Nam Bộ và Tây Nam Bộ

	Đông Nam Bộ	Tây Nam Bộ
Loại đất		
Loại cây trồng thích hợp		

Đất phù sa | Đất xám | Đất đỏ bazan

Cây công nghiệp (cao su, điều) | Lúa | Cây ăn quả

LIVEWORKSHEETS

Thiên nhiên vùng Nam Bộ

2. Đặc điểm thiên nhiên

d. Sông ngòi

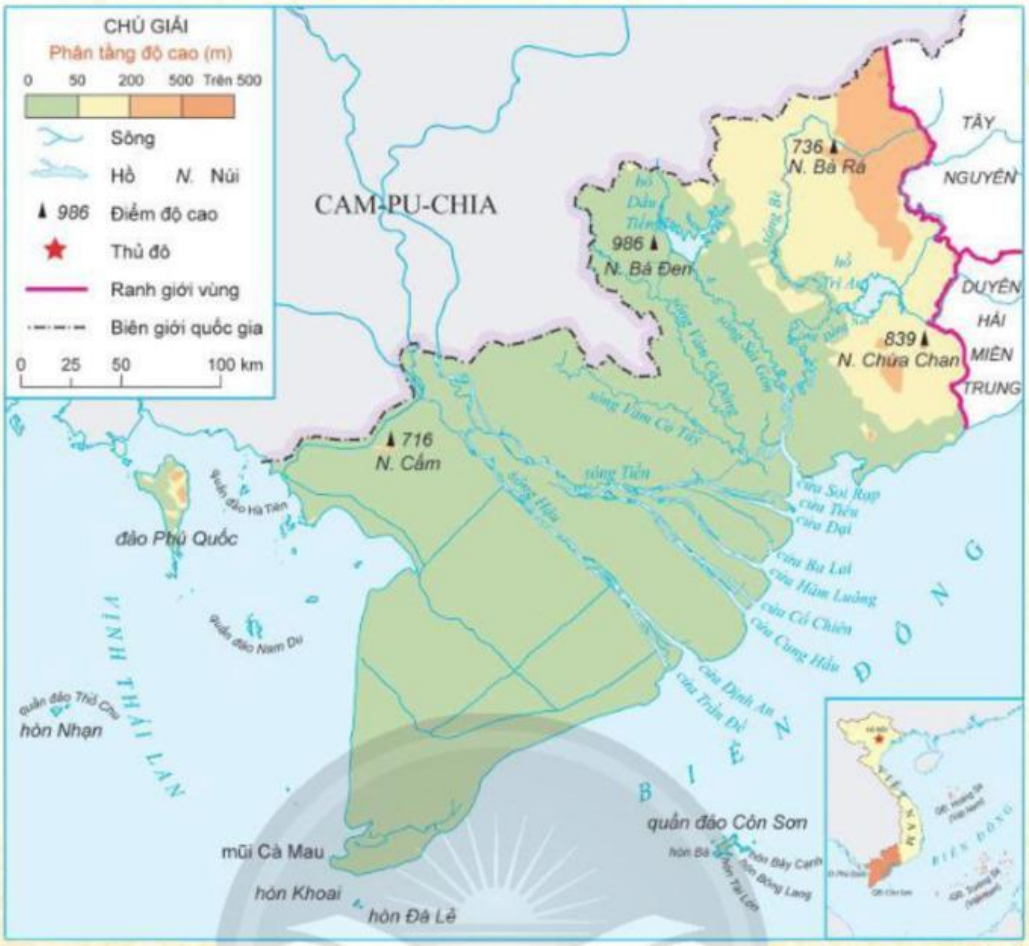

Hình 4. Lược đồ địa hình vùng Nam Bộ

Em hãy tick vào ô trống trước các ý đúng về đặc điểm sông ngòi của vùng Nam Bộ

Vùng Nam Bộ có mạng lưới sông ngòi dày đặc

Sông Đồng Nai, sông Tiền, sông Hậu là những con sông lớn của vùng.

Các sông thường có mùa lũ và mùa cạn.

LIVEWORKSHEETS