2º TRIMESTRE CEIP RAMÓN MARÍA DEL VALLE INCLÁN.

1. Indica si las siguientes escalas son ascendentes o descendentes.

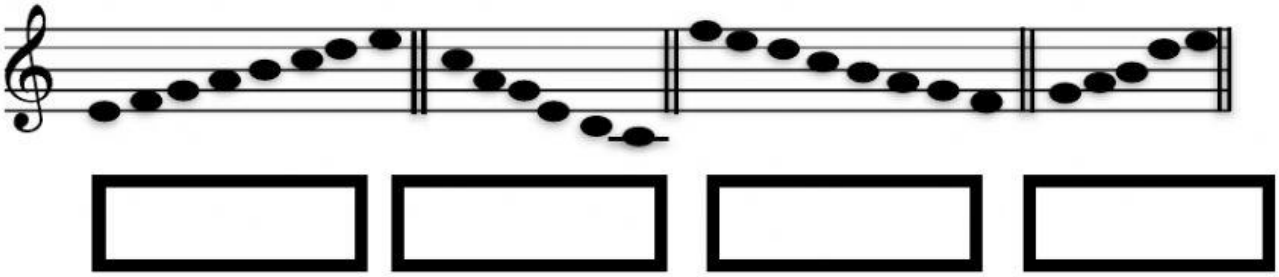

2. Escribe el nombre de cada nota:

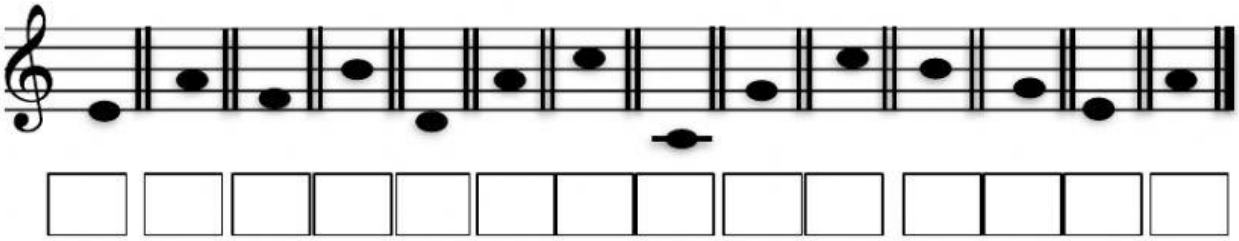

3. Une con una línea la opción correcta:

Teatro musical.	Distancia entre dos notas.
Intervalo.	Es la música que forma parte de una cultura de una comunidad.
Guido D'Arezzo.	Puso nombre a las notas.
Banda	Obra de teatro en la que la historia se cuenta a través de canciones, música y bailes
Música tradicional.	Agrupación musical formada por instrumentos de percusión y viento.

4. Indica cuantos tonos y semitonos tienen los siguientes intervalos musicales:

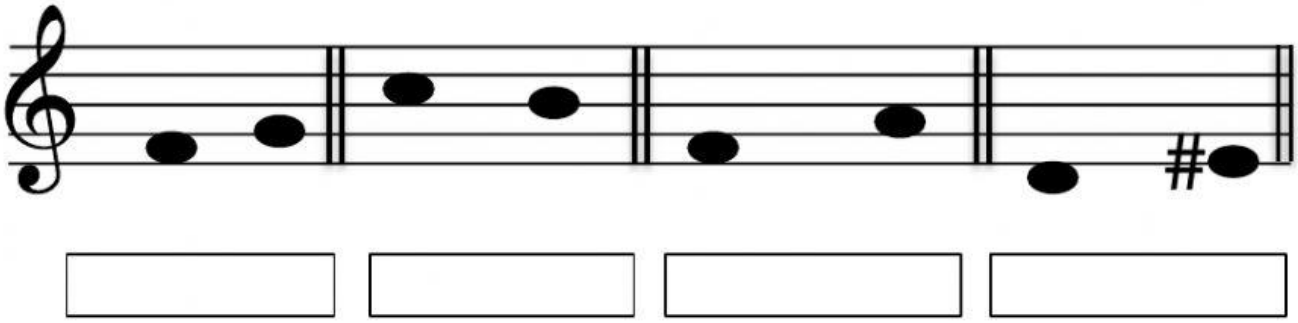

LIVEWORKSHEETS