1. Perskaitykite kiekvieną trupmeną ir pasakykite, kuri figūra ją vaizduoja. Paaiškinkite, kodėl taip manote.

$\frac{1}{6}$

a b c

$\frac{3}{10}$

a b c

$\frac{5}{6}$



a b c

$\frac{2}{5}$

a

b

c

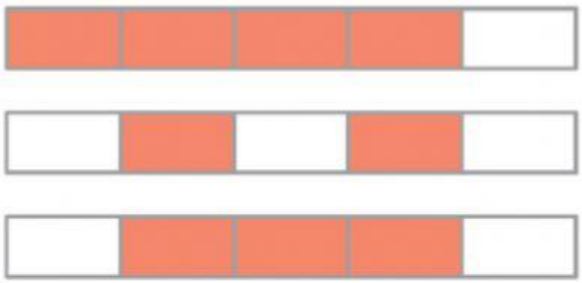

2. Kiekviename langelyje viena iš pateiktų trupmenų rodo, kuri figūros dalis nuspalvinta žalia spalva. Pasakyk tą trupmeną.

$\frac{1}{3}$ $\frac{2}{3}$ $\frac{3}{4}$

a

$\frac{4}{5}$ $\frac{4}{6}$ $\frac{5}{6}$

b

$\frac{5}{6}$ $\frac{3}{8}$ $\frac{5}{8}$

c

$\frac{5}{10}$ $\frac{5}{12}$ $\frac{6}{12}$

d

LIVEWORKSHEETS

3. Pasakyk trupmeną, kuri rodo kiekvienos figūros nenuspalvintą dalį.

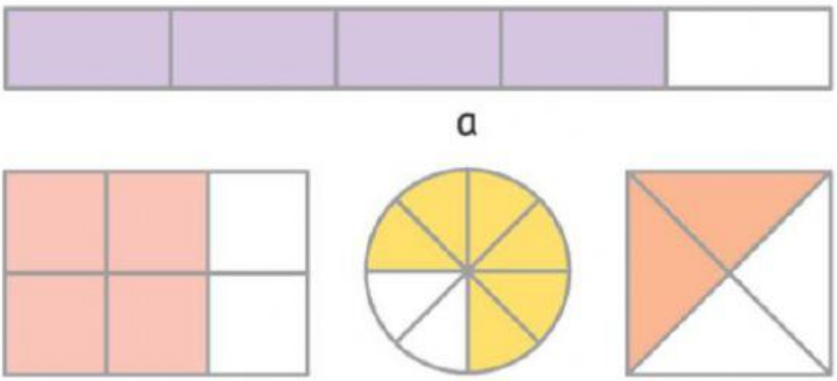

a

b

c

d



e

4. Parašyk trupmeną, kuri rodo mėlyna spalva nuspalvintą figūros dalį.

a

b

c

d

LIVEWORKSHEETS