PEMERINTAH KABUPATEN SINJAI
DINAS PENDIDIKAN
SD NEGERI NO.112 SATTULU
Alamat : Sattulu Desa pattongko Kec. Sinjai Tengah Kab. Sinjai

SUMATIF AKHIR SEMESTER T.A 2025/2026

Mata Pelajaran : MATEMATIKA
Kelas : V (Lima)

Pilihlah salah Satu Jawaban Yang Paling Tepat !

1. Di bawah ini yang bukan termasuk ciri-ciri persegi panjang adalah ..

A. Keempat sudutnya siku-siku

B. Mempunyai 2 simetri lipat

C. Keempat sisinya sama Panjang

D. Mempunyai 2 simeteri putar

2. Perhatikan gambar berikut ..!

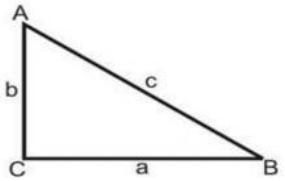

Diketahui AC = 12 cm dan BC = 16 cm, maka panjang AB adalah.... cm

A. 20

B. 30

C. 25

D. 35

3. Volume rubik di bawah adalah ... kubus satuan.



A. 3

B. 18

C. 9

D. 27

4. Aisyah mempunyai kotak pensil berbentuk balok dengan panjang 15 cm, lebar 8 cm dan tinggi 4 cm. Volume kotak pensil Aisyah adalah .... cm^3

A. 120

B. 480

C. 240

D. 640

LIVEWORKSHEETS

5. Perhatikan gambar !

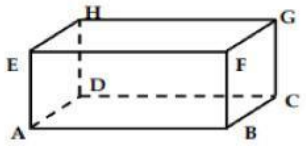

Sisi ABCD sama dan sebangun dengan sisi ...

A. ABFE

B. EFGH

C. DCGH

D. BCGF

6. Diketahui balok dengan ukuran 12 cm dan tinggi 8 cm. jika volume balok adalah 672 cm^3 . lebar balok tersebut adalah ....

A. 7 cm^3

B. 8 cm^3

C. 9 cm^3

D. 10 cm^3

7. Sebuah kubus memiliki Panjang rusuk 8 cm. Volume kubus tersebut adalah ....

A. 216 cm^3

B. 64 cm^3

C. 512 cm^3

D. 343 cm^3

8. Panjang rusuk kubus dengan volume 10.648 cm^3 adalah ....

A. 21 cm

B. 22 cm

C. 31 cm

D. 32 cm

9. Volume Balok dengan Panjang 15 cm, lebar 8 cm dan tinggi 10 cm adalah .....

A. 1200 cm^3

B. 600 cm^3

C. 66 cm^3

D. 33 cm^3

10. Hasil dari 9^3 adalah....

A. 81

B. 243

C. 486

D. 729

LIVEWORKSHEETS

11. Data Calon Ketua Kelas 5

Nama	Banyak Pemilih
Andi	6
Brian	7
Kevin	12
Jordi	15

Banyaknya siswa Kelas 5 yang memilih ada ....

A. 30 siswa

B. 35 siswa

C. 40 siswa

D. 45 siswa

Perhatikan diagram batang berikut untuk menjawab soal nomor 12-14

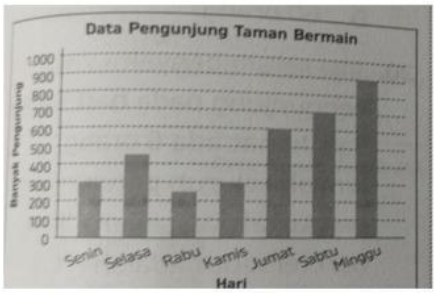

12. Jumlah pengunjung paling banyak terjadi pada hari .....

A. Selasa

B. Kamis

C. Sabtu

D. Minggu

13. Selisih banyaknya pengunjung pada hari selasa dan jumat adalah ..... Orang

A. 100

B. 150

C. 200

D. 250

14. Jumlah seluruh pengunjung dari hari senin sampai Minggu adalah ..... orang

A. 3000

B. 3500

C. 4000

D. 4500

LIVEWORKSHEETS

Perhatikan diagram garis berikut untuk menjawab soal 15-18

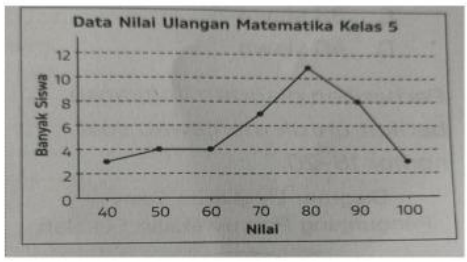

15. Banyaknya siswa yang mendapat nilai 70 ada .....

A. 4 siswa

B. 5 siswa

C. 6 siswa

D. 7 siswa

16. Banyak siswa yang mendapat nilai tertinggi ada ....

A. 3 siswa

B. 4 siswa

C. 5 siswa

D. 6 siswa

17. Banyak siswa yang mendapat nilai DIatas 70 ada ....

A. 20 siswa

B. 21 siswa

C. 22 siswa

D. 23 siswa

18. Jumlah siswa kelas 5 seluruhnya ada ....

A. 34 siswa

B. 36 siswa

C. 38 siswa

D. 40 siswa

19. Kumpulan informasi yang di peroleh dari hasil pengukuran di sebut .....

A. Data

B. Grafik

C. Diagram

D. gambar

20. Dalam mengumpulkan data atau survey berikut ini beberapa cara yang dapat dilakukan adalah ***kecuali.....***

A. Wawancara

B. Kuesioner

C. Penelitian

D. Rapat

LIVEWORKSHEETS