LEMBAR KERJA PESERTA DIDIK

# LKPD
# MATEMATIKA

**TEMA : PECAHAN SENILAI**

NAMA : .....

KELAS : .....

LIVEWORKSHEETS

## Ayo Menjodohkan

**Tarik garis dari gambar ke pecahan senilai yang sesuai!**



$\frac{3}{6}$



$\frac{2}{4}$

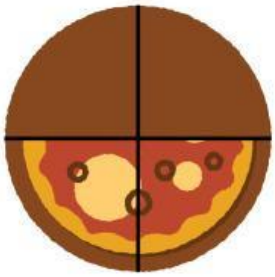

$\frac{1}{2}$



$\frac{5}{10}$



LIVEWORKSHEETS

## Ayo Tunjukkan

**Beri tanda centang pada kotak yang telah disediakan yang menunjukkan pecahan berikut!**

1. Lingkaran yang menunjukkan ½...

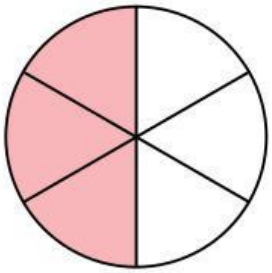

☐

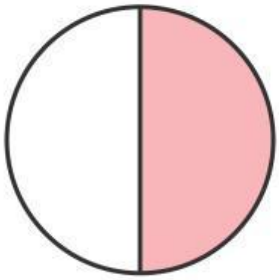

☐

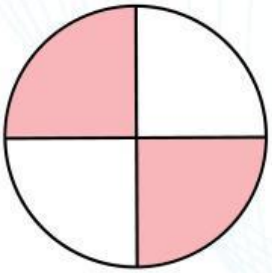

☐

2. Lingkaran yang menunjukkan $^{3}/_{6}$...

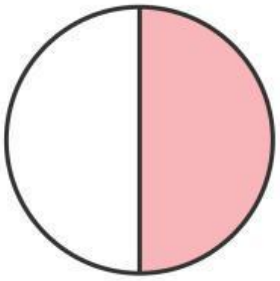

☐

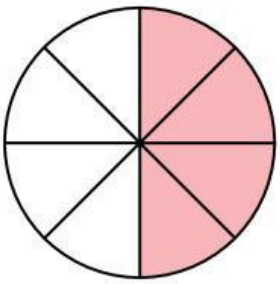

☐

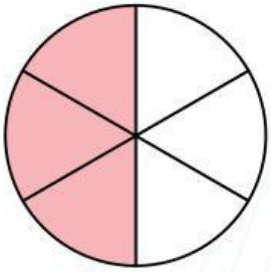

☐

2. Lingkaran yang menunjukkan $^{2}/_{4}$...

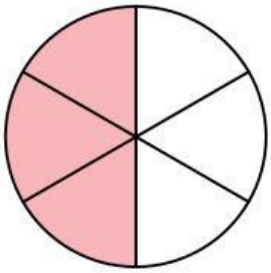

☐

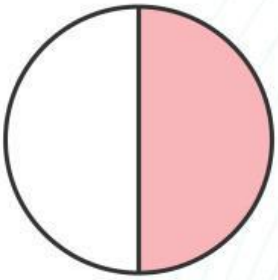

☐

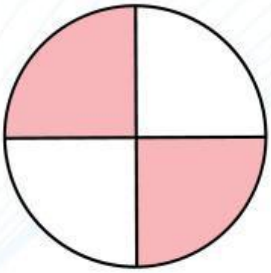

☐



LIVEWORKSHEETS

## Ayo Kerjakan

**Pilihlah jawaban yang benar dengan memberi tanda (✓) pada huruf A, B, C, atau D!**

1. Manakah pasangan pecahan berikut yang merupakan pecahan senilai dengan 1/2?

   A. 3/5
   B. 2/4
   C. 3/8
   D. 5/6

2. Pecahan manakah yang memiliki nilai sama dengan pecahan 3/6?

   A. 2/3
   B. 1/4
   C. 1/2
   D. 5/8

3. Andi menggambar sebuah lingkaran dan membaginya menjadi 10 bagian. Ia mewarnai 5 bagian. Pecahan yang terbentuk adalah:

   A. 1/5
   B. 2/4
   C. 3/6
   D. 5/10



LIVEWORKSHEETS

4. Manakah dari pecahan berikut yang senilai dengan pecahan 5/10?

A. 3/5

B. 4/6

C. 1/2

D. 2/3

5. Perhatikan pernyataan berikut:

- 2/4 = 1/2
- 4/8 = 1/4
- 3/6 = 1/2
- 5/10 = 1/2

Manakah pernyataan yang benar?

A. 1, 2, dan 3

B. 1, 3, dan 4

C. 2, 3, dan 4

D. Semua benar

6. Siti mengatakan bahwa 5/10 tidak senilai dengan 1/2 karena angka pembilang dan penyebutnya lebih besar. Apakah kamu setuju dengan pendapat Siti?

A. Setuju, karena 5 lebih besar dari 1

B. Setuju, karena pecahan besar jika pembilangnya besar

C. Tidak setuju, karena 5/10= 1/2 jika disederhanakan

D. Tidak setuju, karena 5/10 lebih kecil dari 1/2



LIVEWORKSHEETS

## Ayo Mengisi

**Menentukan nilai pecahan untuk bagian yang diberi warna!**





– = –

– ≠ –

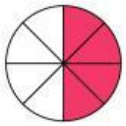

– = –



– ≠ –



– = –

– = –

– ≠ –



LIVEWORKSHEETS