INSTITUCIÓN EDUCATIVA N°40525
SAN SANTIAGO
PUYCA – LA UNIÓN - AREQUIPA

FICHA INTERACTIVA MATEMÁTICA– 4°

Ampliación de figuras geométricas

Actividades

1 En el siguiente gráfico, encierra la figura que ha sido ampliada en el doble del original (color verde).

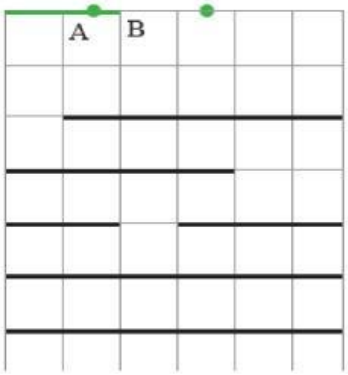

Resolución:

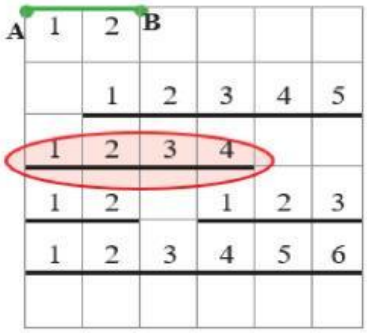

En el original 2u el doble es 2 + 2 = 4u.

2 En el siguiente gráfico, encierra la figura que ha sido ampliada en el doble del original (color verde).

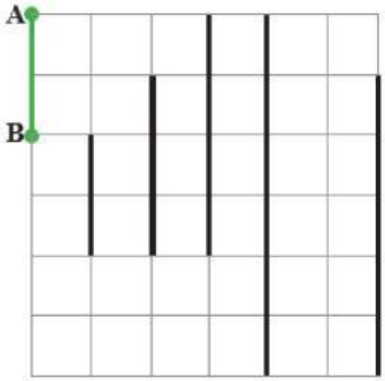

3 En el gráfico, cuántas figuras han sido ampliadas el doble del original.

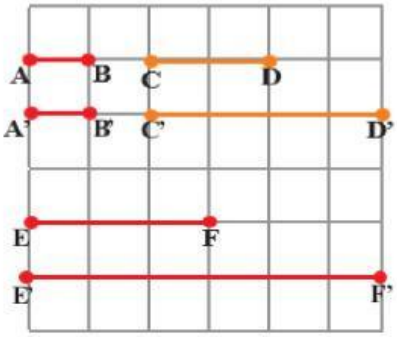

a) 1
b) 2
c) 3
d) 4
e) 5

4 En el siguiente gráfico, encierra la figura que ha sido ampliada en el doble del original (color verde).

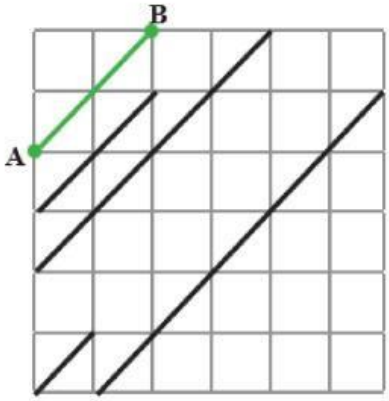

PIP Nancy Ale Zambrano

Profesora Elizabeth Yucra

LIVEWORKSHEETS

Exigimos más

5 En el gráfico, cuántas figuras han sido ampliadas el doble del original.

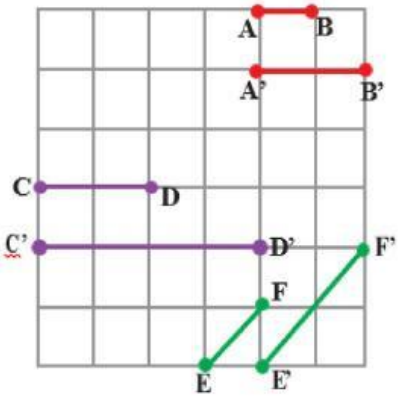

a) 1
b) 2
c) 3
d) 4
e) 5

Resolución:

$\overline{AB}$ y $\overline{A'B'}$ .....sí

$\overline{CD}$ y $\overline{C'D'}$ .....sí

$\overline{EF}$ y $\overline{E'F'}$ .....sí

Respuesta:

Hay 3 figuras que han sido ampliadas.

6 En el siguiente gráfico, encierra la figura cuyos lados han sido ampliados en el doble del original (color verde).

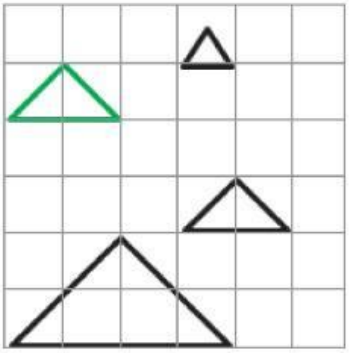

7 Arrastra el polígono cuyos lados estén ampliados el doble del original (color verde).

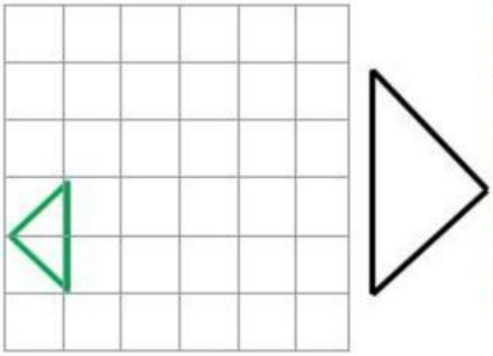

8 Arrastra el polígono cuyos lados estén ampliados el doble del original (color verde).

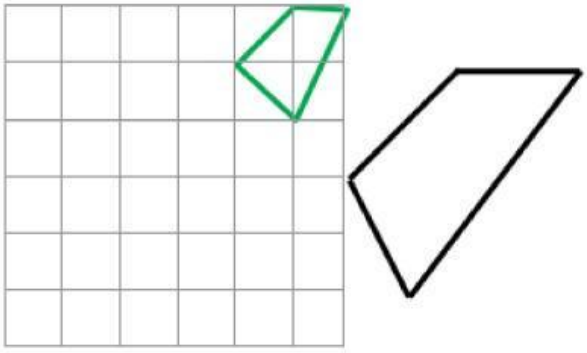



LIVEWORKSHEETS

Demuestro mis habilidades

9 En el gráfico, cuántas figuras han sido ampliadas el doble del original.

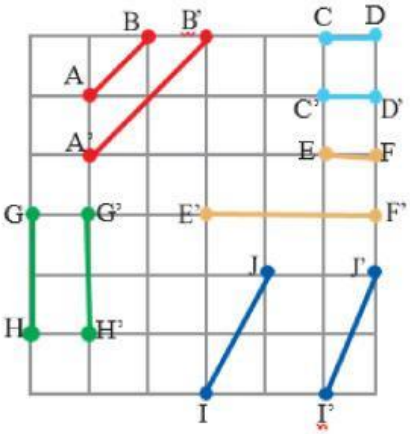

a) 1
b) 2
c) 3
d) 4
e) 5

10 En el siguiente gráfico, encierra la figura cuyos lados han sido ampliados en el doble del original (color verde).

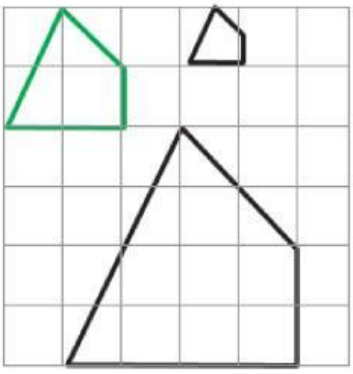

11 En el siguiente gráfico, encierra la figura cuyos lados han sido ampliados en el doble del original (color verde).

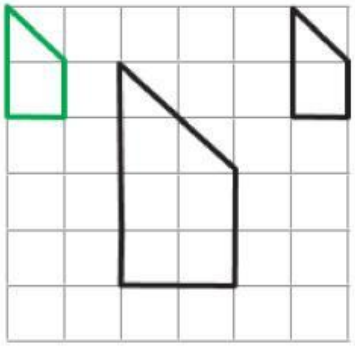

12 Arrastra el polígono ampliado el doble del original (color verde).

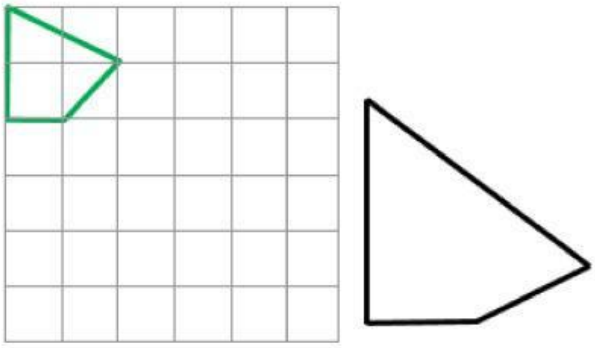

LIVEWORKSHEETS