FIGURAS PLANAS 2

1. ¿De que figura plana se trata?

Soy el polígono de menos lados que existe.	Tengo seis lados y seis vértices.	Con mis cinco lados tengo forma de casita.
Soy una figura plana sin un solo vértice.	Con cuatro lados gemelos, soy un polígono muy regular.	Mis cuatro lados tienen forma de diamante.

2. ¿Cuántas figuras planas de cada ves en las imágenes?



Círculos:

Triángulos:

Rectángulos:

Rombos:



Círculos:

Triángulos:

Rectángulos:

Ovalos:

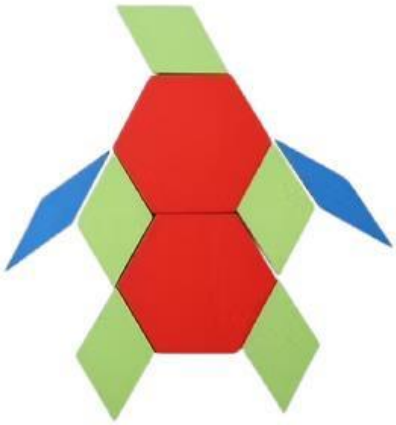

Hexágonos:

Triángulos:

Pentágonos:

Rombos:

LIVEWORKSHEETS