BIMTEK KEPALA LAB

GELOMBANG 44

LKPD

MENGENAL & MENGHITUNG LUAS BANGUN DATAR

Disusun oleh : Irma Dew, S. Pd,.Gr

SMP NEGERI 2 PURWADADI

SUBANG JAWA BARAT

LIVEWORKSHEETS

TUJUAN

- Siswa dapat mengidentifikasi berbagai jenis bangun datar.
- Siswa dapat menghitung keliling dan luas bangun datar (persegi, persegi panjang, segitiga, jajar genjang, trapesium, dan lingkaran).

PETUNJUK PENGISIAN

- Kerjakan setiap aktivitas yang ada pada LKPD ini dengan cermat!
- Jika telah selesai, silakan klik "Finish", pilih "Email my answers to my teacher", dan masukkan alamat e-mail berikut ini: dirma0557@gmail.com
- Silahkan lengkapi identitas diri dibawah ini !
- Nama :
- Kelas :

LIVEWORKSHEETS

Aktivitas 1. Video Pembelajaran

Simaklah video di bawah ini, lalu jawablah pertanyaan-pertanyaan dengan baik & benar!

LIVEWORKSHEETS

Aktivitas 2. Jawablah Pertanyaan berikut!

CIRI & SIFAT BANGUN DATAR

Cermati gambar dibawah kemudian tarik garis dan pasangkan dengan pernyataan yang benar!

- Memiliki 4 sisi sama panjang
- 4 sudut siku-siku yang sama besar

- Memiliki 4 sisi, kedua sisi yang saling berhadapan sama panjang dan sejajar

- Memiliki satu titik pusat
- Jumlah derajat sebesar 360 derajat

- Memiliki 3 sisi yang sama panjang
- Memiliki 3 sudut yang sama besar

- Memiliki 6 sisi yang sama panjang
- Memiliki 6 sudut yang sama besar

LIVEWORKSHEETS

Bangun Datar

Isikan jawaban yang benar pada kolom yang tersedia!

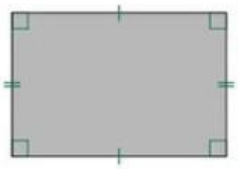

Nama Bangun Datar :

Jumlah Sisi :

Jumlah Sudut :

Jumlah Diagonal :



Nama Bangun Datar :

Jumlah Sisi :

Jumlah Sudut :

Jumlah Diagonal :

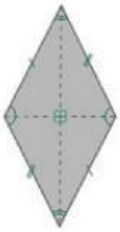

Nama Bangun Datar :

Jumlah Sisi :

Jumlah Sudut :

Jumlah Diagonal :

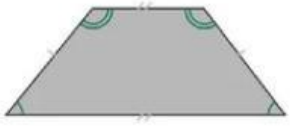

Nama Bangun Datar :

Jumlah Sisi :

Jumlah Sudut :

Jumlah Diagonal :

LIVEWORKSHEETS

LATIHAN SOAL BANGUN DATAR

1. Apa nama bangun datar yang memiliki 4 sisi dengan panjang sisi yang sama dan 4 sudut yang sama?

   A. Segitiga
   C. Persegi
   B. Segiempat
   D. Jajar Genjang

2. Bangun datar apa yang memiliki 3 sisi?

   A. Persegi
   C. Segitiga
   B. Lingkaran
   D. Trapesium

3. Berapa banyak sudut yang dimiliki oleh sebuah segiempat?

   A. 3
   C. 5
   B. 4
   D. 6

4. Bangun datar apakah yang memiliki dua pasang sisi yang sama panjang dan dua sudut yang sama besar?

   A. Jajar Genjang
   C. Segitiga
   B. Persegi Panjang
   D. Lingkaran

5. Bangun datar apa yang memiliki sisi melengkung dan tidak memiliki sudut?

   A. Trapesium
   C. Persegi
   B. Segitiga
   D. Lingkaran

LIVEWORKSHEETS

DAFTAR PUSTAKA

- **Kementerian Pendidikan dan Kebudayaan. (2017). Matematika SMP/MTs Kelas VII. Jakarta: Pusat Kurikulum dan Perbukuan, Balitbang, Kemendikbud.**
- **Kementerian Pendidikan, Kebudayaan, Riset, dan Teknologi. (2022). Buku Siswa Matematika Kelas VII Kurikulum Merdeka. Jakarta: Balai Besar Guru Penggerak.**

LIVEWORKSHEETS