LKPD

MATEMATIKA

BILANGAN BULAT

KELAS 7

LIVEWORKSHEETS

Nama : ..... Kelas : .....

LKPD BILANGAN BULAT

A. MENULIS BILANGAN BULAT

Tulislah simbol bilangan bulat dari pernyataan berikut!

1. Suhu 5°C diatas 0 =
2. Suhu 11°C dibawah 0 =

B. GARIS BILANGAN BULAT

Lengkapilah garis bilangan berikut dengan menuliskan bilangan yang benar!

1.

		-5				3

2.

	-2		0			

3.

-4						

C. MEMBANDINGKAN BILANGAN BULAT

Berilah tanda < atau > pada kotak sehingga menjadi pernyataan yang benar!

1. 0 ☐ 8
2. 5 ☐ -12
3. -6 ☐ 6
4. -36 ☐ -42

LIVEWORKSHEETS

Nama:

Nilai:

Membandingkan Bilangan Bulat

Bandingkan kedua bilangan berikut menggunakan tanda <, =, > yang tepat!

-24	●	23
85	●	-86
-9	●	-17
9	●	-9
-76	●	-76
0	●	2
-13	●	10

-103	●	-105
-118	●	-181
97	●	97
52	●	-25
198	●	198
-66	●	-65
48	●	46

LIVEWORKSHEETS

Bilangan Bulat

Penerapan Operasi Hitung Bilangan Bulat

Nama : **Kelas :**

Jawablah soal-soal di bawah ini dengan langkah yang tepat!

1.		Suhu udara di puncak gunung Jayawijaya adalah -3°C, karena turun hujan suhunya turun 6°C, maka suhu udara di puncak gunung Jayawijaya adalah .....°C	Jawaban : ....
2.		Suhu terendah pada malam hari di Swiss mencapai -9°C. Pada siang hari suhu tertinggi di Swiss 16°C, selisih suhu pada malam dan siang hari di Swiss adalah .....°C	Jawaban : ....
3.		Dalam suatu ujian, penilaian didasarkan bahwa jawaban benar diberi skor 2, jawaban salah diberi skor -1, dan tidak menjawab diberi skor 0. Budi menjawab 35 soal dengan benar dan 7 soal dengan salah, maka nilai yang diperoleh Budi adalah.....	Jawaban : ....
4.		Operasi '*' berarti kalikan bilangan pertama dengan dua kali bilangan ke dua, kemudian tambahkan hasilnya dengan bilangan ke dua. Hasil dari 5 * (3) adalah	Jawaban : ....
5.		Pa Bangun menjual gorengan dengan harga Rp. 5000 per 4 gorengan. Bagus membeli 32 gorengan. Jika Ia membayar dengan uang lima puluh ribu, uang kembali yang diterima Bagus adalah sebesar.....	Jawaban : ....

LIVEWORKSHEETS

Nama:_____ Tanggal: _____

Bilangan Bulat

Tentukan FPB dan KPK bilangan-bilangan di bawah ini menggunakan pohon faktor

1 8 dan 12

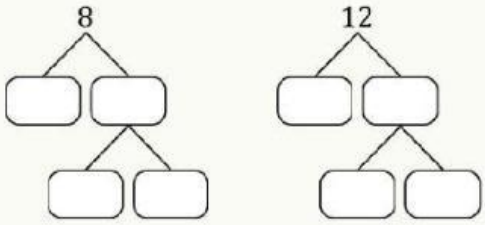

FPB =_____ KPK =_____

2 24 dan 30

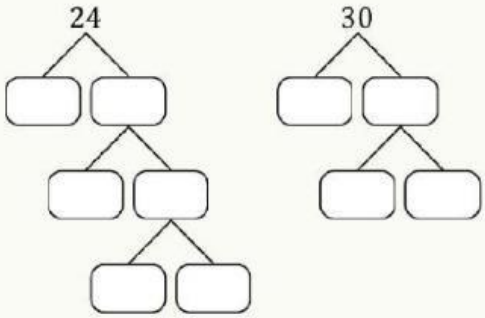

FPB =_____ KPK =_____

3 60 dan 100

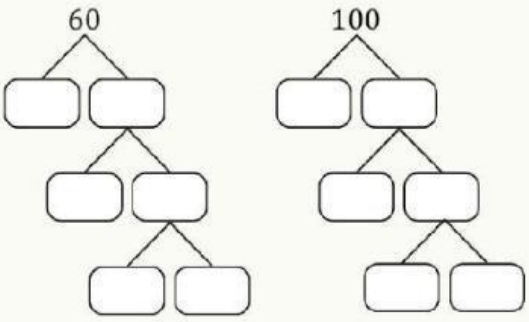

FPB =_____ KPK =_____

4 18 dan 75

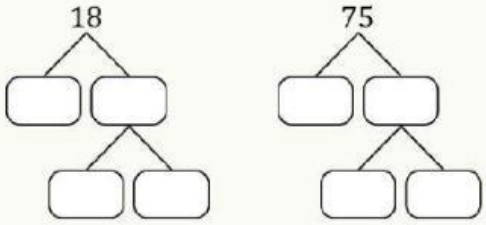

FPB =_____ KPK =_____

5 234 dan 315

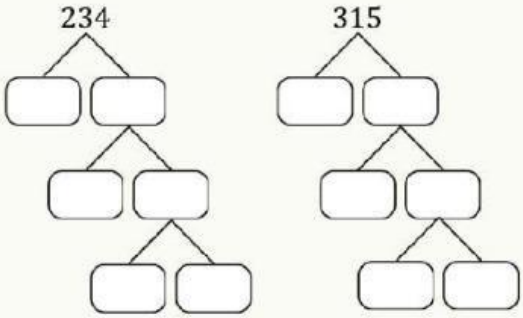

FPB =_____ KPK =_____

6 56 dan 210

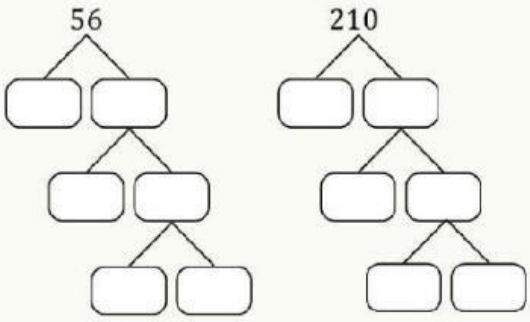

FPB =_____ KPK =_____

LIVEWORKSHEETS