LKPD
MATEMATIKA

kELAS 3
MATERI SUDUT

Disusun Oleh: WIWIT FIDIANTI

LIVEWORKSHEETS

Ayo kerjakan!

Nama:

Kelas :

1.Lingkari gambar yang membentuk sudut!

a.

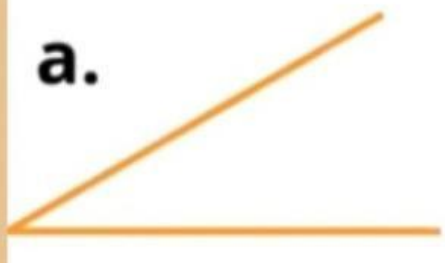

b.

c.

d.

e.

f.

2.Berilah tanda ✓ benda-benda di bawah ini yang memiliki sudut!

LIVEWORKSHEETS

Ayo kerjakan!

3.Tuliskan jenis sudut di bawah ini!

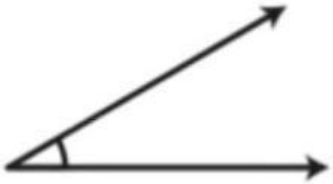

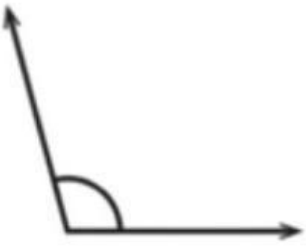

4. Tuliskan jenis sudut yang terbentuk dari gambar atau kegiatan di bawah ini! Perhatikan tanda panah!

LIVEWORKSHEETS

LIVEWORKSHEETS