1 Carilah kata yang berkaitan dengan komponen tata surya dan lengkapi nama anggota tata surya pada gambar berikut!

O	I	N	E	P	T	U	N	U	S
M	D	R	Q	B	W	I	G	X	U
J	M	N	A	J	U	G	A	S	I
U	J	A	W	H	S	L	A	O	R
P	W	Q	R	U	A	T	A	X	U
I	A	S	N	S	U	T	K	N	K
T	I	E	T	R	S	R	A	J	R
E	V	B	N	Y	X	S	Q	M	E
R	S	U	N	A	R	U	F	D	M
O	S	B	U	M	I	K	H	N	O

LIVEWORKSHEETS

2

Geser tulisan di bawah ini dan sesuaikan dengan nama planetnya!



Merkurius | Venus | Bumi | Mars

Jupiter | Saturnus | Uranus | Neptunus

LIVEWORKSHEETS

3 Hubungkan planet dan karakteristiknya dengan menarik garis!

Merkurius	Planet terbesar
Venus	Planet dengan cincin terkenal
Bumi	Planet terdekat dengan Matahari
Mars	Planet merah
Jupiter	Planet dengan kehidupan
Saturnus	Planet terpanas
Uranus	Planet dengan cincin tipis
Neptunus	Planet terjauh dari matahari

LIVEWORKSHEETS

4 Beri tanda centang pada gambar yang sesuai dengan namanya!

Uranus

Jupiter



Mars



Venus

Saturnus



Bumi

LIVEWORKSHEETS

5

Bacalah teks tentang planet jupiter di bawah ini, kemudian jawab pertanyaan-pertanyaan yang ada sesuai dengan teks.

Planet Jupiter

Jupiter adalah planet terbesar dalam tata surya, dikenal sebagai "raksasa gas" dengan diameter 139.820 km. Atmosfernya memiliki pola awan yang dinamis dan fitur seperti "Great Red Spot," sebuah badai raksasa. Dengan lebih dari 79 bulan, termasuk Io dan Europa, Jupiter terus menjadi fokus eksplorasi luar angkasa melalui misi seperti Juno.

- Apa nama planet terbesar dalam tata surya?

  .....

- Siapa yang melakukan eksplorasi pada planet jupiter?

  .....

- Nama sebutan untuk atmosfer planet jupiter?

  .....

LIVEWORKSHEETS