DOKUMEN MADRASAH		NAMA :
SANGAT RAHASIA		NOMOR ABSEN :

ASESMEN SUMATIF AKHIR TAHUN GENAP

MADRASAH IBTIDAIYAH HIDAYATUL MUBTADIIN DEMPEL

TAHUN PELAJARAN 2024/2025

Mata Pelajaran : MATEMATIKA	Hari /tanggal :
Kelas : V	Waktu :

I. Berilah tanda silang (X) pada huruf a, b, c atau d pada lembar jawaban benar!

1. Perhatikan gambar sudut berikut.

   Nama sudut pada gambar disamping adalah …

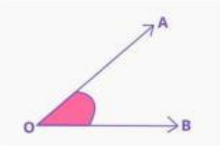

   A. Sudut OAB
   B. Sudut AOB
   C. Sudut OBA
   D. Sudut ABO

2. Sudut tumpul ditunjukkan oleh gambar …

   A.
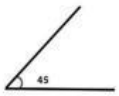

   C.

   B.
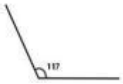

   D.
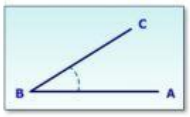

3. Perhatikan gambar berikut.

   Gambar A

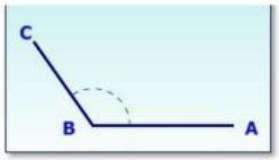

   gambar B

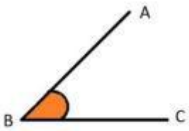

   Pernyataan berikut yang sesuai dengan gambar di atas adalah ….

   A. Gambar A lebih besar daripada gambar B
   B. Gambar A lebih kecil daripada gambar B
   C. Gambar A sama besar dengan gambar B
   D. Gambar B lebih besar daripada gambar A

4. Perhatikan gambar berikut

   Ciri-ciri yang tidak dimiliki bangun di samping adalah …

   A. Mempunyai sepasang sisi sama sejajar
   B. Mempunyai dua sudut siku-siku
   C. Mempunyai satu sudut lancip
   D. Mempunyai 2 sudut tumpul



LIVEWORKSHEETS

5. Keliling layang-layang PQRS adalah …

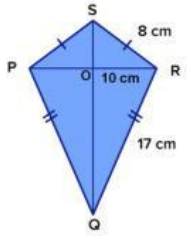

A. 35 cm C. 50 cm

B. 42 cm D. 52 cm

6. Perhatikan gambar berikut.

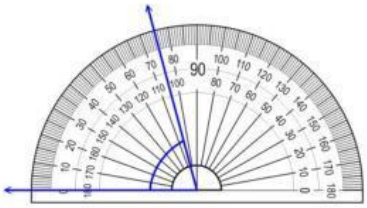

Besar sudut di atas adalah …

A. 95 C. 75

B. 110 D. 105

7. Besar sudut terkecil yang terbentuk oleh kedua jarum jam pada gambar adalah …

A. 60 C. 90

B. 120 D. 150

Perhatikan table berikut!

NO	Jenis Makanan	Jumlah Siswa
1	Roti	12
2	Buah	12
3	Jajan	56
4	Keripik	10
5	Kue	10
	Total	100

8. Jenis pesanan yang paling banyak dipesan adalah …

A. Roti C. buah

B. Jajan D. kue

9. Informasi berikut yang tepat berdasarkan tabel adalah …

A. Jenis pesanan terbanyak adalah kue

B. Banyak pesanan roti adalah 10 biji

C. Jenis pesanan paling sedikit adalah keripik dan kue

D. Jenis pesanan roti dan kue sama

Perhatikan diagram gambar berikut !

No	Hari	Jumlah Buku
1	Senin	
2	Selasa	
3	Rabu	
4	Kamis	
5	Jumat	
6	Sabtu	

Mewakili 5 Buku

10. Selisih banyak buku pada hari selasa dan jumat adalah …

A. 1 buku C. 5 buku

B. 3 buku D. 10 buku

11. Pernyataan berikut yang sesuai dengan diagram di atas adalah …

A. Banyak penjulan pada hari rabu adalah 2 buku

LIVEWORKSHEETS

B. Penjualan pada hari kamis lebih banyak dari hari jumat

C. Penjulan pada hari rabu lebih sedikit daripada hari kamis

D. Penjulan pada hari jumat berjumlah 20 buku

Perhatikan diagram gambar berikut !

12. Banyak siswa yang mendapat nilai 90 adalah …

A. 3 anak C. 5 anak

B. 6 anak D. 4 anak

13. Pernyataan berikut yang sesuai dengan data adalah …

A. Selisih banyak siswa yang mendapat nilai 90 dan 95 adalah 1 anak

B. Selisih banyak siswa yang mendapat nilai 75 dan 80 adalah 2 anak

C. Jumlah siswa yang mendapat nilai 80 dan 90 adalah 9 anak

D. Jumlah siswa yang mendapat nilai 85 adalah 12 anak

14. banyak melon yang terjual pada bulan oktober dan November adalah …

A. 110 C. 100

B. 90 D. 80

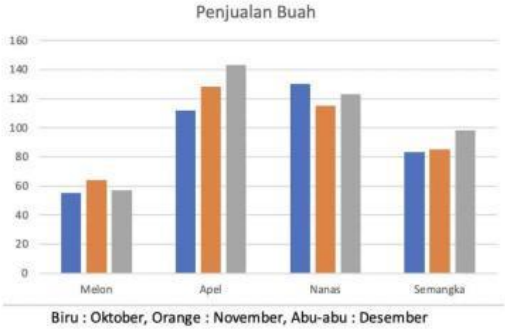

15. Selisih banyak melon dan apel yang terjual pada Bulan November adalah …

A. 70 C. 90

B. 80 D. 100

16. banyak siswa yang mendapat nilai 7 adalah …

A. 4 anak C. 7 anak

B. 5 anak D. 8 anak

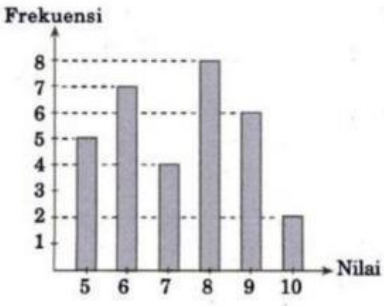

17. Selisih siswa yang mendapat nilai tertinggi dan terendah Sebanyak …

A. 6 anak C. 8 anak

B. 7 anak D. 9 anak

18. Segitiga sama sisi ditunjukkan oleh gambar …

A.

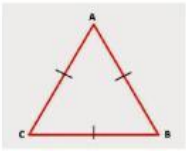

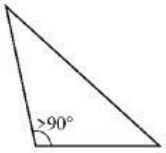

19. Ciri-ciri yang tidak dimiliki segitiga ABC pada gambar adalah …

A. Mempunyai dua sisi sama panjang

B. Mempunyai satu sudut siku-siku

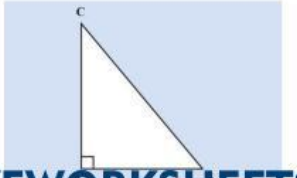

LIVEWORKSHEETS

C. Mempunyai dua sudut lancip

D. Mempunyai satu sudut tumpul

20. Banyak simetri lipat pada segitiga sama kaki adalah …

A. 0 C. 2

B. 1 D. 3

21. .

Perbedaan ciri-ciri antara kedua bangun di atas adalah …

A. Mempunyai dua pasang sisi sejajar

B. Mempunyai dua pasang sisi sama Panjang

C. Mempunyai empat sudut sama besar

D. Mempunyai empat sisi sama Panjang

Cita-cita	Banyaknya siswa
Guru	
Polisi	
Dokter	

Keterangan: 1 gambar mewakili 2 siswa

22. Banyak siswa yang bercita-cita menjadi polisi dan dokter adalah …

A. 12 anak C. 18 anak

B. 15 anak D. 21 anak

23. Pernyataan berikut yang sesuai dengan diagram gambar tersebut adalah …

A. Siswa yang bercita-cita menjadi dokter lebih banyak daripada yang bercita-cita menjadi polisi

B. Siswa yang bercita-cita menjadi polisi lebih banyak daripada yang bercita-cita menjadi guru

C. Paling banyak siswa yang bercita-cita menjadi guru

D. Paling sedikit siswa yang bercita-cita menjadi polisi

24. Pulau jawa mempunyai luas 128. 297 km. bilangan yang menyatakan luas pulau jawa dibaca …

A. Satu dua delapan ribu dua ratus Sembilan puluh tujuh

B. Serratus dua delapan ribu dua ratus Sembilan puluh tujuh

C. Seratus dua puluh delapan ribu dua ratus Sembilan puluh tujuh

D. Serratus dua puluh delapan ribu dua Sembilan tujuh

25. Hubungan bilangan berikut yang benar adalah …

A. 612.965 > 609.876

B. 200.671 = 200.761

LIVEWORKSHEETS

C. 366.789 < 365.009

D. 970.678 > 970.768

26. Diketahui hasil panen kopi di perkebunan Pak Naryo sebanyak 200.100 kuintal.

Bilangan 200.100 dibaca …

A. Dua ratus ribu satu nol

B. Dua ratus satu ribu serratus

C. dua ratus ribu seratus

D. dua ratus dua ribu serratus

27. Nilai tempat puluh ribuan pada bilangan 871.650 ditempati oleh angka …

A. 8

B. 7

C. 6

D. 5

28. Perhatikan komposisi bilangan berikut.

515.739 = 500.000 + P + 5.000 + 700 + 30 + Q

Selisih P dan Q adalah …

A. 1.090

B. 10.009

C. 9.91

D. 9.991

29. 891. 345 Dekomposisi bilangan di samping yang benar adalah …

A. 800.000 + 90.000 + 1.000 + 300 + 400 + 5

B. 800.000 + 90.000 + 1.000 + 300 + 40 + 5

C. 800.000 + 90.000 + 1.000 + 3.000 + 40 + 5

D. 800.000 + 900.000 + 1.000 + 300 + 40 + 5

30. Diketahui bilangan enam angka. Angka 7 menempati nilai tempat ratus ribuan. Angka 1 menempati nilai tempat puluh ribuan. Angka 3 menempati nilai tempat ribuan. Angka 2 menempati nilai tempat ratusan. Angka 0 menempati nilai tempat puluhan. Angka 0 menempati nilai tempat satuan.

Bilangan yang terbentuk adalah …

A. 713.000

B. 713.200

C. 713.002

D. 731.200

LIVEWORKSHEETS