LKPD

Matematika

BAB I

PECAHAN

Nama :

Kelas :

LIVEWORKSHEETS

Capaian Pembelajaran

- Peserta didik dapat membandingkan dan mengurutkan antar-pecahan, serta mengenali pecahan senilai.
- Peserta didik dapat membandingkan dan mengurutkan antar-pecahan dengan pembilang satu dan antar-pecahan dengan penyebut yang sama, serta mengenali pecahan senilai menggunakan gambar dan simbol matematika.

LIVEWORKSHEETS

Tujuan Pembelajaran

1. Membandingkan antar - pecahan dengan pembilang satu.
2. Mengurutkan antar - pecahan dengan pembilang satu.
3. Membandingkan antar - pecahan dengan penyebut sama.
4. Mengurutkan antar - pecahan dengaan penyebut sama.
5. Mengenali pecahan senilai menggunakan gambar dan simbol matematika.

LIVEWORKSHEETS

Perhatikan video tentang membandingkan dan mengurutkan pecahan yang ada di bawah ini!

Perhatikan video tentang pecahan senilai yang ada di bawah ini!

TIME to STUDY

LIVEWORKSHEETS

Perhatikan video yang ada di bawah ini!

Berdasarkan video diatas jawablah beberapa pertanyaan berikut!

- **Jika Ibu membuat 1 pizza yang akan di bagi untuk Kamu, Ayah, Ibu, Brimo, Kakek dan Nenek. Jadi pizza tersebut dapat di bagi berapa? Dan berapa bagian yang di dapat masing-masing anggota keluarga? Tuliskan dalam bentuk pecahan**

- **Jika Ibu dan Ayah telah memakan pizza, berapa potong pizza yang tersisa? Tuliskan dalam bentuk pecahan?**

LIVEWORKSHEETS

KERJAKAN DAN JAWABLAH SOAL-SOAL BERIKUT DENGAN BENAR DAN TEPAT!



LIVEWORKSHEETS

1. Bilangan yang berada diatas garis adalah?

2. Bilangan yang berada dibawah garis adalah?

3. Letakkan unsur-unsur pecahan berikut pada kolom yang benar!

$\frac{1}{4}$ =

Penyebut

Pembilang

Tuliskan nilai pecahan dari gambar berikut!

4.

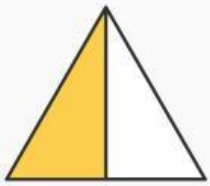

= $\frac{\square}{\square}$

5.

= $\frac{\square}{\square}$

6.

= $\frac{\square}{\square}$

LIVEWORKSHEETS

Isilah nilai pembilang dan penyebutnya, kemudian bandingkan dengan memberi tanda > atau <!

7.

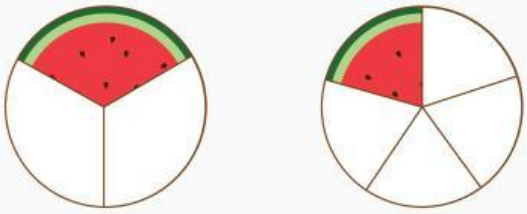

$\frac{\square}{\square}$ $\square$ $\frac{\square}{\square}$

8.

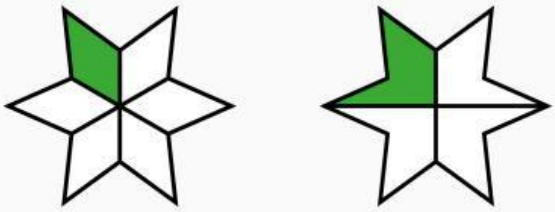

$\frac{\square}{\square}$ $\square$ $\frac{\square}{\square}$

9. **Letakkan pecahan ke kolom yang kosong dengan urutan yang tepat dari yang terkecil ke terbesar!**

$\frac{1}{3}, \frac{1}{7}, \frac{1}{2}, \frac{1}{8}$ → $\square, \square, \square, \square$

LIVEWORKSHEETS

Letakkan unsur-unsur yang tepat uantuk mengisi kolom soal-soal berikut!

10. $\frac{2}{5}$ ☐ $\frac{4}{5}$ a. > b. < c. =

11. $\frac{3}{7}$ ☐ $\frac{2}{7}$ a. > b. < c. =

12. $\frac{1}{2}$ ☐ $\frac{2}{2}$ a. > b. < c. =

13. Letakkan pecahan ke kolom yang kosong dengan urutan yang tepat dari yang terbesar ke terkecil!

$\frac{5}{9}$, $\frac{4}{9}$, $\frac{7}{9}$, $\frac{8}{9}$ → ☐, ☐, ☐, ☐

14. Letakkan pecahan ke kolom yang kosong dengan urutan yang tepat dari yang terkecil ke terbesar!

$\frac{5}{9}$ $\frac{4}{9}$ $\frac{7}{9}$ $\frac{8}{9}$ → ☐, ☐, ☐, ☐

,

LIVEWORKSHEETS

15. Berilah centang pada jawaban yang benar!

$\frac{1}{5} < \frac{1}{3}$ ◯ $\frac{1}{8} > \frac{1}{2}$ ◯ $\frac{1}{11} < \frac{1}{13}$ ◯

$\frac{1}{4} > \frac{1}{5}$ ◯ $\frac{1}{10} < \frac{1}{5}$ ◯

16. Pilihlah jawaban yang benar dari soal berikut ini!

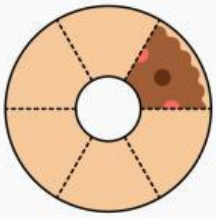

a. $\frac{1}{2}$ b. $\frac{1}{3}$ c. $\frac{1}{6}$ d. $\frac{1}{10}$

17. Tarik garis untuk gambar dan bilangan yang memiliki nilai yang sama

$\frac{1}{10}$

$\frac{1}{6}$

$\frac{1}{8}$

LIVEWORKSHEETS

18. Perhatikan gambar di bawah ini!

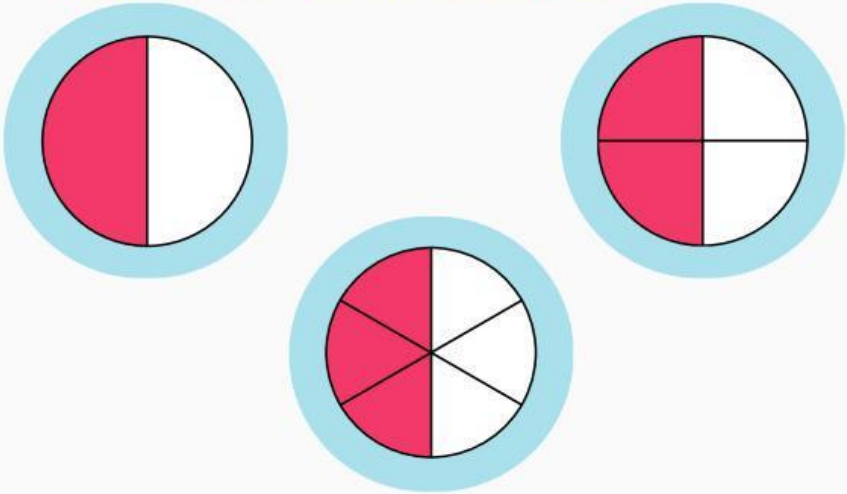

Gambar di atas menunjukkan pecahan?

a. Desimal

b. Campuran

c. Persen

d. Senilai

19.

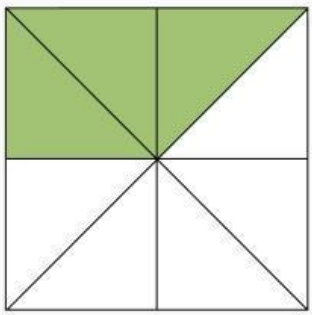

Daerah yang diarsir pada gambar di atas senilai dengan pecahan?

a. $\frac{6}{16}$ b. $\frac{16}{6}$ c. $\frac{8}{3}$ d. $\frac{3}{8}$

LIVEWORKSHEETS

20. Temukan 10 kata di dalam kolom berikut!

KONKRET	MATEMATIKA
DESIMAL	BILANGAN
PEMBILANG	SENILAI
PECAHAN	GARIS
PENYEBUT	PERSEN

P	E	N	Y	E	B	U	T	W	M	W	F
E	E	K	O	N	K	R	E	T	A	S	H
M	A	C	B	O	O	K	J	M	T	U	A
B	I	L	A	N	G	A	N	T	E	J	N
I	F	B	A	H	Q	Y	N	K	M	D	A
L	O	W	E	G	A	R	I	S	A	F	J
A	P	E	R	S	E	N	I	L	T	C	B
N	P	S	E	N	I	L	A	I	I	R	Y
G	F	T	Y	X	Z	E	E	L	K	Q	A
F	E	J	I	D	E	S	I	M	A	L	Z

LIVEWORKSHEETS