Elektronik Lembar Kerja Peserta Didik

E-LKPD

TEMA : PENGUKURAN SUDUT

Disusun Oleh:
Putri Arisna

Nama: _____

Kelas: _____

LIVEWORKSHEETS

Biodata Penulis

Nama:

Putri Arisna

NPM:

2213053242

Kelas:

6A2

Mata Kuliah:

Media CAI/CBI

Prodi:

Pendidikan Guru Sekolah Dasar (PGSD)

LIVEWORKSHEETS

VIDEO PEMBELAJARAN

Perhatikan Video di bawah ini!



LIVEWORKSHEETS

Klik dan Pillihlah Jawaban yang Benar!

1. Alat untuk mengukur besar sudut adalah...
2. Besar sudut siku-siku adalah....
3. 5° dibaca.....

Pilihlah a,b,c atau d pada jawaban yang benar!

4.

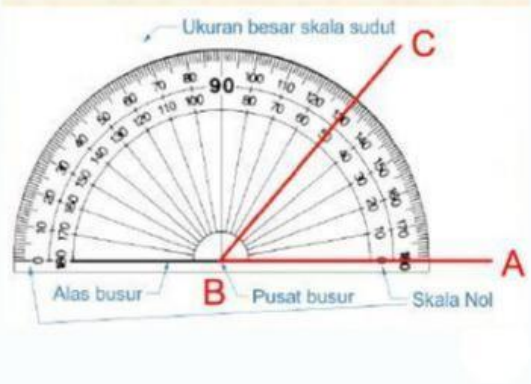

Hasil pengukuran sudut yang benar adalah.....

a. 130°
b. 131°
c. 50°
d. 55°

5. Perhatikan gambar ilustrasi jam berikut ini!



Besar sudut yang ditunjukkan pada jarum jam tersebut adalah.....

a. Pukul 12.10 besar sudut 60°
b. Pukul 12. 20 besar sudut 90°
c. Pukul 14.00 besar sudut 30°
d. Pukul 14.00 besar sudut 60°

6. Perhatikan gambar berikut!
Berilah tanda centang pada gambar yang merupakan sudut tumpul!

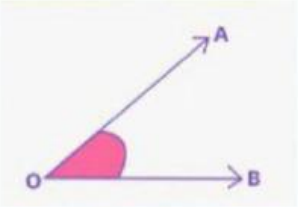

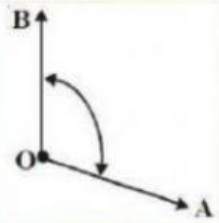

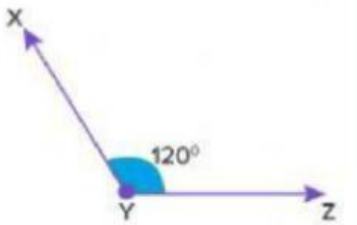

LIVEWORKSHEETS

7. Berilah tanda centang pada kotak yang menunjukkan sudut lancip!

- ○ 64°
- ○ 89°
- ○ 91°

8. Menjodohkan dengan menarik garis

Tariklah garis sesuai pasangan yang tepat!

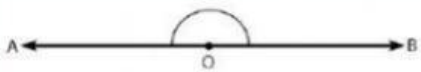

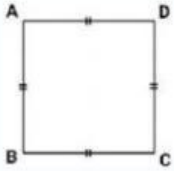

- Besar sudut 90°
- Bangun datar yang memiliki empat sudut siku-siku
- Besar sudut 180°

9. Perhatikan gambar A,B, dan C berikut untuk menjawab pertanyaan!
Tekan/klik pilihan jawaban di sebelah kanan untuk diseret menuju pertanyaan yang sesuai dengan jawaban.

A

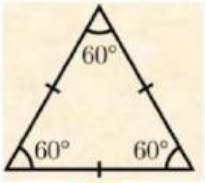

B

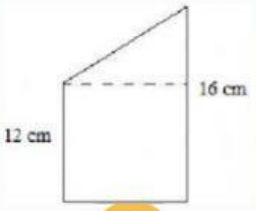

C

Besar sudut gambar A adalah... 1

Jumlah sudut dalam bangun segitiga (Gambar B) adalah... 140°

Bangun seperti gambar C memiliki..... sudut lancip 180°

LIVEWORKSHEETS

10. Ukurlah sudut di bawah ini dengan menggunakan busur derajat dan tariklah garis sesuai jawaban yang benar!

Besarnya 90°

Besarnya 120°

Besarnya 30°

Besarnya 180°

Besarnya 45°

LIVEWORKSHEETS