مملكة البحرين
وزارة التربية والتعليم
مدرسة الدير الإبتدائية للبنين
قسم نظام فصل

اسم الطالب:

التـاريخ:

المجسمات

الثالث الابتدائي – الفصل الدراسي الأول لعام ٢٠٢٠م-٢٠٢١م

عنوان الدرس

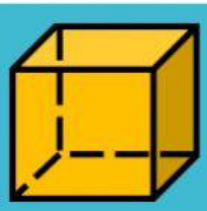


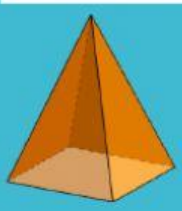

السؤال الأول:

اختر الأشكال التي تسمى بالمجسمات.

السؤال الثاني

اكتب أجزاء المجسمات.

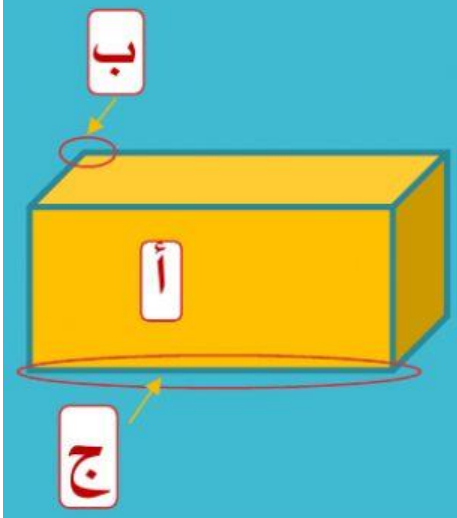

أ

ب

ج

السؤال الثالث

حدد اسم المجسم وعدد الرؤوس والأحرف والأوجه .

المجسم	اسم المجسم	عدد الرؤوس	عدد الأحرف	عدد الأوجه

اعداد: أ.مريم حمد القديري
المديرة المساعدة: أ.هالة المشاري
مديرة المدرسة: أ.عائشة المهيزع

LIVEWORKSHEETS