Тренувальний аркуш

1.Укажіть вершину кута, зображеного на рисунку

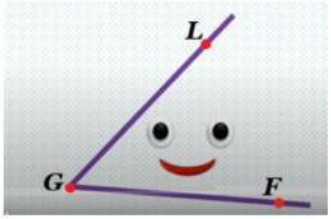

А	Б	В	Г	Д
F	*GL*	*L*	*GF*	*G*

2. Обчислити:

$$\begin{array}{r} 472 \\ -\ 357 \\ \hline \end{array}$$

3. Поставте у відповідність кожному виду, з-поміж кутів (А-В), їхню геометричну модель у формі рисунків (1-3)

А. ***Гострий кут***	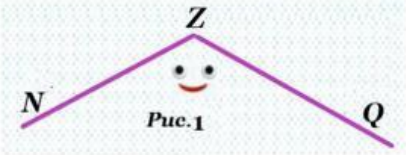
Б. ***Прямий кут***	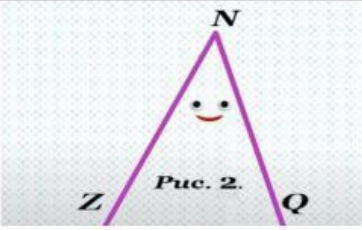
В. ***Тупий кут***	**4щш** 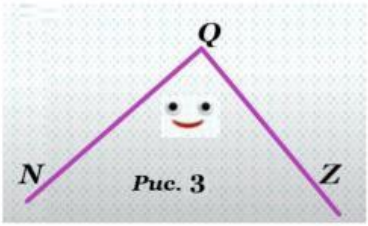

LIVEWORKSHEETS

4. ***Округлити до вказаного розряду:***

125 3<u>7</u>9 ≈ **124 <u>3</u>79 ≈** **12<u>4</u> 379 ≈**

124 000 **125 380** **124 400**

5. Змоделюйте кожне віяло, зображене на малюнках (1-3), за допомогою одного з кутів, зображених на рисунках (*а-в*)

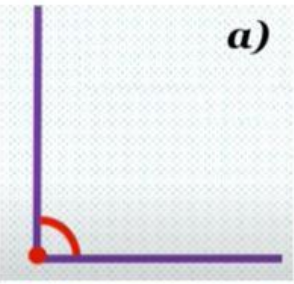	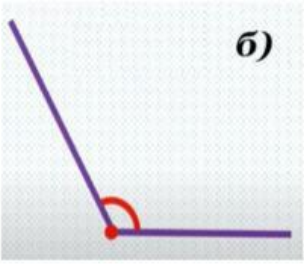	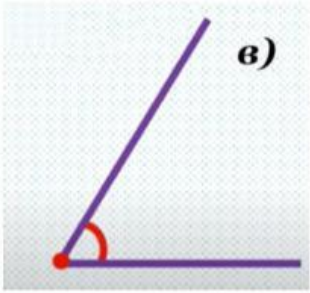

6. Вкажіть назву геометричної фігури

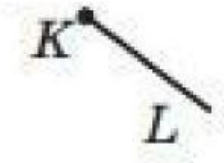

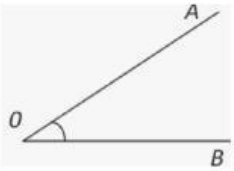

LIVEWORKSHEETS