LEMBAR KERJA PESERTA DIDIK
SISTEM PENCERNAAN MANUSIA

Nama:
Kelompok:

A. Permasalahan Akademik:
   1. Apa saja organ yang berperan dalam proses pencernaan manusia?
   2. Apa fungsi dari setiap organ yang berperan dalam proses pencernaan manusia?
   3. Bagaimana proses pencernaan makanan yang terjadi di dalam tubuh manusia?

B. Cara Kerja
   1. Amatilah model sistem pencernaan pada manusia!
   2. Sebutkan nama bagian yang ditunjuk dan jelaskan fungsinya!

Gambar	No	Nama Organ	Fungsi
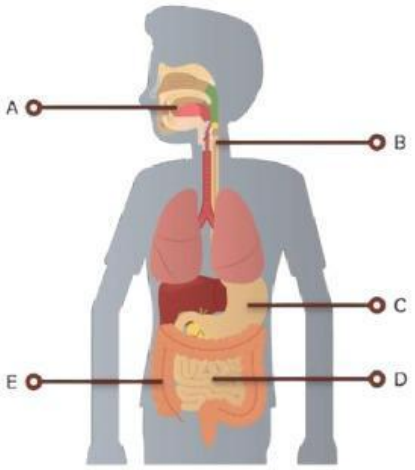	A		
	B		
	C		
	D		
	E		

3. Apa yang disebut dengan pencernaan?

   .....

   .....

   .....

4. Apa perbedaan proses pencernaan mekanik dan kimiawi?

   .....

   .....

   .....

5. Isilah tabel di bawah ini! Bagaimana urutan proses yang terjadi dalam sistem pencernaan manusia dari awal hingga akhir?

LIVEWORKSHEETS

Gambar	Nama Bagian	Proses yang Terjadi
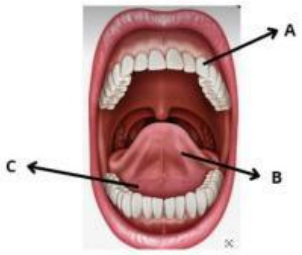	A : B : C :	Lidah : Gigi : Kelenjar Lidah :
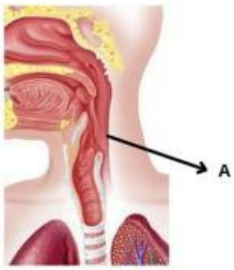		
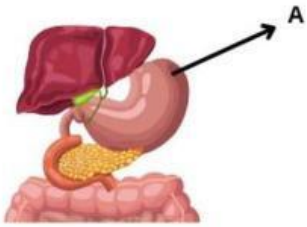		
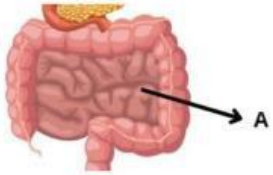		
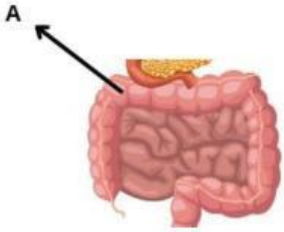		

LIVEWORKSHEETS

6. Kesimpulan

.....

.....

.....

LIVEWORKSHEETS