EVALUASI

Nama : .....

Kelas: .....

pindai barcode untuk mengerjakan soal !

1



Luas satuan persegi dari bangunan Hijau di samping yaitu....

Jawaban:

2



Kalu membuat desain tangga untuk di kamar seperti pada gambar di samping. Berapakah luas satuan persegi dari desain tersebut.....

Jawaban:

3

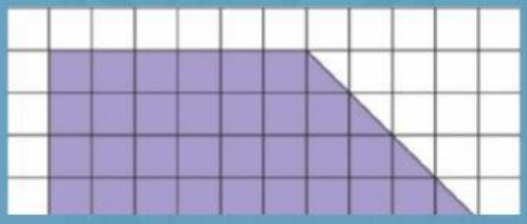

Berapakah Luas satuan persegi dari trapesium di samping yaitu....

Jawaban:

4

Satuan baku yang digunakan untuk mengukur luas adalah ...

Jawaban:

5

Luas dari persegi panjang dengan panjang 8 meter dan lebar 5 meter adalah ... m^2.

Jawaban:

LIVEWORKSHEETS