Ayo Berlatih

1. Hitunglah panjang benda berikut.

Panjang pensil = ____ penjepit kertas

Panjang pensil = ____ penjepit kertas

Panjang sisir = ____ penjepit kertas



Panjang gunting = ____ penjepit kertas

2. Temukan tinggi hewan berikut.

Tinggi kucing: ____ kotak

Tinggi sapi: ____ kotak

Tinggi jerapah: ____ kotak

Hewan yang paling tinggi adalah ____

Hewan yang paling pendek adalah ____

LIVEWORKSHEETS

3. Panjang botol minum adalah ____

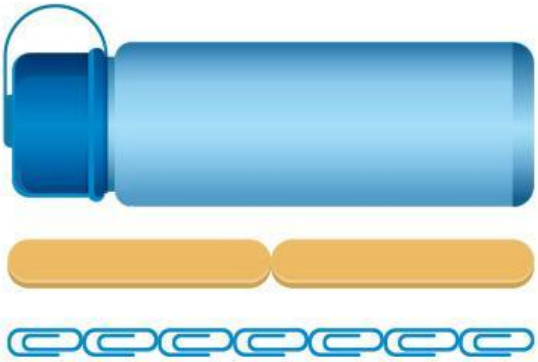

Panjang botol minum = ____ penjepit kertas

Panjang botol minum = ____ stik es krim

4 Temukan panjang pensil berikut.

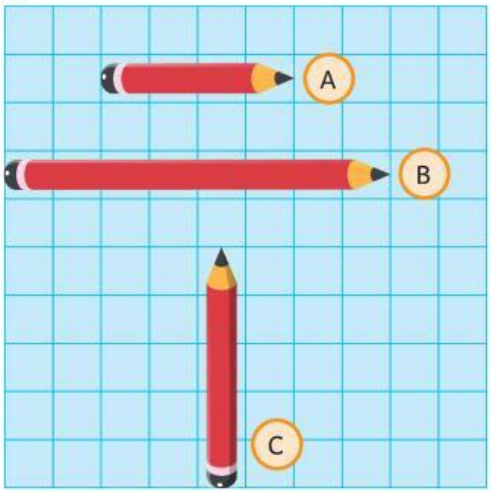

Panjang pensil A = ____ kotak

Panjang pensil B = ____ kotak

Panjang pensil C = ____ kotak

Pensil A lebih ____ dari pensil B.

Pensil B lebih ____ dari pensil C.

Pensil yang paling panjang adalah ____

Pensil yang paling pendek adalah ____

Urutan pensil dari paling pendek: ____, ____, ____

LIVEWORKSHEETS

Evaluasi

1. Lingkari benda yang lebih panjang.

2. Lingkari benda yang paling tinggi.

3. Perhatikan gambar berikut.

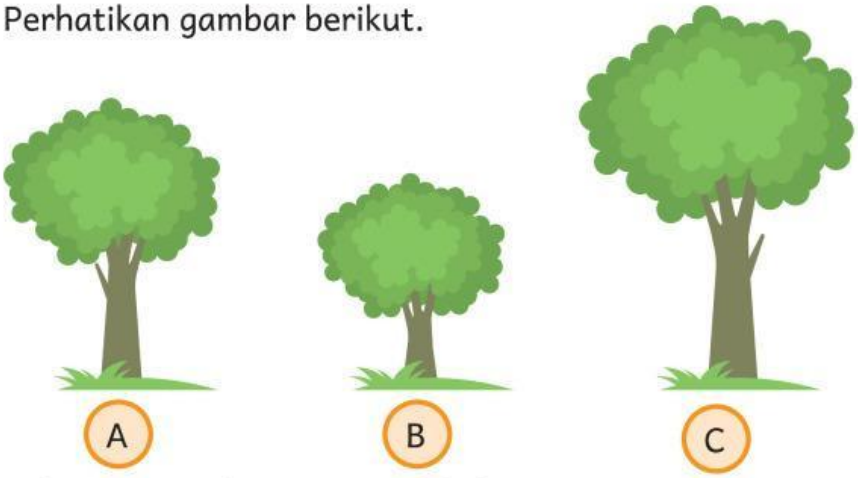

Pohon yang paling tinggi adalah _____

Pohon yang paling pendek adalah _____

Urutan pohon dari paling tinggi: _____, _____, _____

LIVEWORKSHEETS

4.



Buatlah cerita dari gambar di atas menggunakan kata:

lebih tinggi	lebih rendah
paling rendah	sama tinggi

5. Hitunglah panjang benda berikut.

Panjang jam tangan = _____ penjepit kertas

Panjang pensil = _____ penjepit kertas

Panjang sendok = _____ penjepit kertas

LIVEWORKSHEETS

6 Temukan panjang pita berikut.

Panjang pita A = _____ kotak

Panjang pita B = _____ kotak

Panjang pita C = _____ kotak

Pita A lebih _____ dari pita B.

Pita B lebih _____ dari pita C.

Pita paling panjang adalah _____

Pita paling pendek adalah _____

Urutan pita dari terpanjang: _____, _____, _____

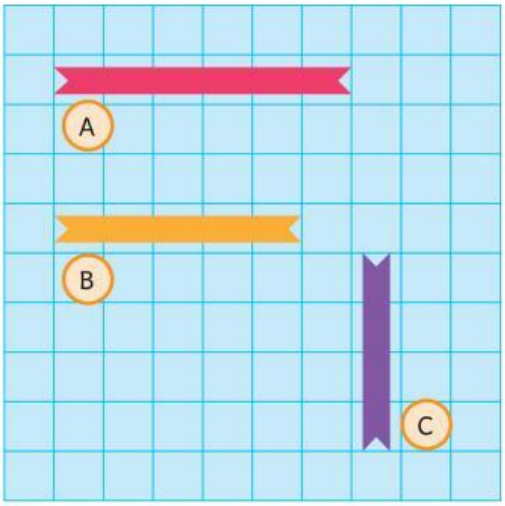

7 Kira mengukur kotak pensilnya.

Berikut adalah cara Kira mengukurnya.

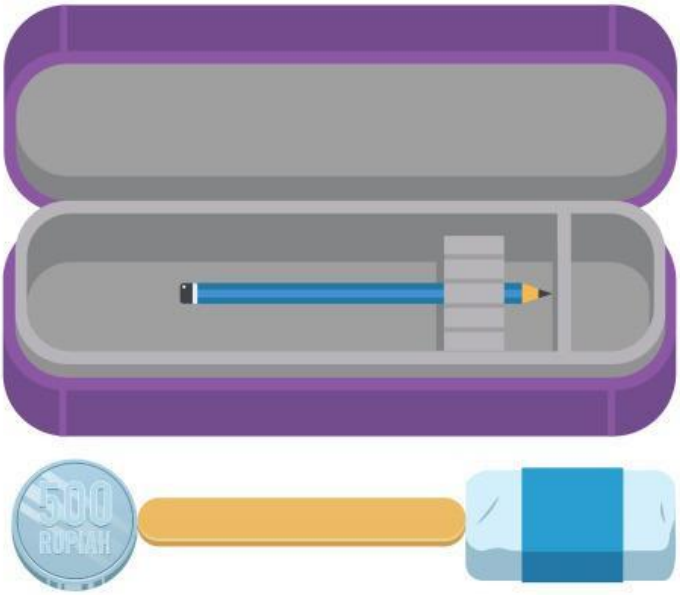

Apakah cara mengukur Kira benar?

Jelaskan alasan kalian.

Apa saran kalian untuk Kira?

LIVEWORKSHEETS