NUMIREA, SCRIEREA ȘI CITIREA FRACȚIILOR

1. Scrie fracția corespunzătoare părții colorate.



2. Unește corespunzător. Ia în considerare fracția corespunzătoare părții colorate.

$\frac{3}{4}$ $\frac{2}{4}$

$\frac{3}{6}$ $\frac{5}{9}$

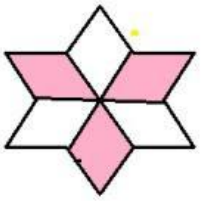

$\frac{1}{2}$



3. Scrie fracțiile:

- unu supra trei $\frac{\square}{\square}$
- trei supra patru $\frac{\square}{\square}$
- opt supra zece $\frac{\square}{\square}$
- doi pe trei $\frac{\square}{\square}$
- șase supra nouă $\frac{\square}{\square}$
- nouă pe opt $\frac{\square}{\square}$

4. Citește și scrie cu litere fracțiile:

- $\frac{6}{5}$ → *șase supra cinci*
- $\frac{7}{8}$ → _____
- $\frac{8}{10}$ → _____
- $\frac{1}{5}$ → _____

5. Încercuiește numitorul fiecărei fracții: $\frac{2}{3}$ $\frac{4}{6}$ $\frac{3}{7}$ $\frac{9}{10}$ $\frac{3}{7}$ $\frac{5}{8}$

6. În fracția $\frac{1}{10}$

* 1 se numește: a) numitor; b) numărător; c) linie de fracție.

* 10 se numește: a) fracție; b) numărător; c) numitor.

LIVEWORKSHEETS