WELLSPRING INTERNATIONAL BILINGUAL SCHOOL

PHIẾU THI ĐẤU – GÓI SỐ: 1B

NHÓM: ..... - LỚP: .....

Happy Journey

1 Nối số thập phân với hình ảnh biểu thị tương ứng:

0,8 | 1,75 | 3,5 | 2,2

2 Chọn đáp án đúng

Người ta lát gạch hoa xung quanh thành bể bơi. Tính diện tích phần lát gạch hoa đó.

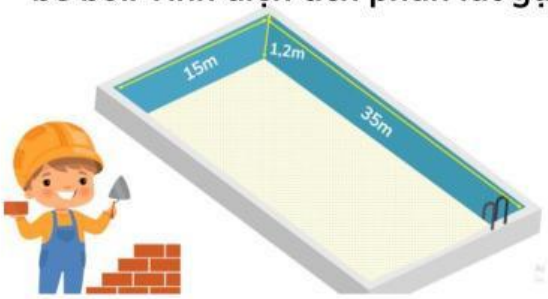

A. 630 m^2

B. 525 m^2

C. 120 m^2

D. 120 m

3 Viết lại các đại từ xưng hô trong đoạn hội thoại sau:

Thấy tôi đi qua vườn củ cải xanh mướt, thỏ vồn vã:

- Sóc đi đâu đấy?

- Tôi đi tìm mùa đông! Thỏ có thấy mùa đông ở đâu không?

.....

.....

4 Phân loại các câu sau bằng cách đánh dấu ✓ vào cột thích hợp dưới đây:

Câu văn	Câu đơn	Câu ghép
Mặt trời lên, cả cánh đồng lấp lóa nắng.		
Trời càng nắng, lúa càng sẫm lại, trĩu bông.		
Mỗi khi có gió, những bông lúa ngả đầu vào nhau, sóng lúa nhấp nhô.		

5 Tick vào tất cả những đáp án đúng

Bán đảo Đông Dương gồm các nước nào?

Lào | Campuchia | Myanma | Thái Lan | Trung Quốc | Việt Nam

6 Để lập trình cho robot nhảy với tốc độ 75% trong 3 giây, ta có thể dùng câu lệnh?

Chọn chữ cái tương ứng câu lệnh lần lượt là:

.....

A. 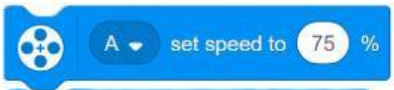

B. 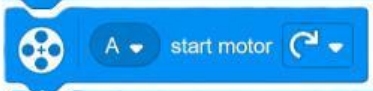

C.

D.

LIVEWORKSHEETS