WELLSPRING INTERNATIONAL BILINGUAL SCHOOL

# PHIẾU THI ĐẤU – GÓI SỐ: 1A

## NHÓM: ..... - LỚP: .....

Happy Journey

### 1 Nối số thập phân với hình ảnh biểu thị tương ứng:

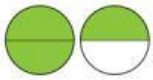

2,2

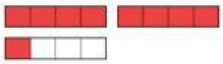

1,5

2,25

2,75

### 2 Chọn đáp án đúng

**Người ta lát gạch hoa ở đáy bể bơi.**
**Tính diện tích phần lát gạch hoa đó.**

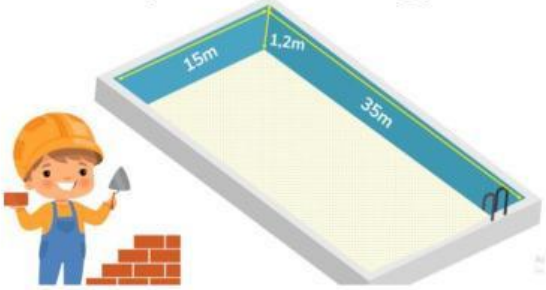


A. 18 $m^2$

B. 525 $m^2$

C. 630 $m^2$

D. 630 m

### 3 Viết lại các đại từ xưng hô có trong câu sau:

**Sóc:**

- Anh ta chạy rất nhanh đấy, cậu có chắc là thắng được anh ta không?

**Rùa:**

- Tớ sẽ cố gắng hết sức.

.....

.....

### 4 Phân loại các câu sau bằng cách đánh dấu ✓ vào cột thích hợp dưới đây:

| Câu văn | Câu đơn | Câu ghép |
|---|---|---|
| Mùa xuân vừa đến, cây cối đã đâm chồi nảy lộc. | | |
| Chúng em luôn nhớ ơn các anh hùng, liệt sĩ đã hi sinh bảo vệ đất nước. | | |
| Hòa hát rất hay, ai nghe xong cũng phải khen ngợi. | | |

### 5 Tick vào tất cả những đáp án đúng

**Bán đảo Đông Dương gồm các nước nào?**

Lào | Campuchia | Myanma | Thái Lan | Trung Quốc | Việt Nam

### 6 Đâu là khối lệnh giúp robot nhảy với âm thanh Drum Music trong 10 giây?

A

B

C

LIVEWORKSHEETS