ورقة عمل الوحدة الثانية الدرس الأول :المخططات البيانية المتقدمة

اسم الطالبة :.....

السؤال الأول : اختاري الإجابة الصحيحة :		
١- .....هو عرض مرئي للمعلومات والبيانات يسهل فهم الإقام وتحليلها.		
المخطط البياني المصغر	المخطط أو الرسم البياني	الشكل البياني
٢- ..... هو مخطط بياني في خلية ورقة عمل يشكل تمثيلا مرئيا للبيانات .		
المخطط البياني المصغر	المخطط أو الرسم البياني	الشكل البياني
٣- ..... تمييز الخلايا بلون معين بناء على قيمة الخلية .		
تنسيق الخلايا	تنسيق الجدول	التنسيق الشرطي

السؤال الثاني : حددي نوع المخطط البياني الصحيح أمام كل شكل فيمايلي :

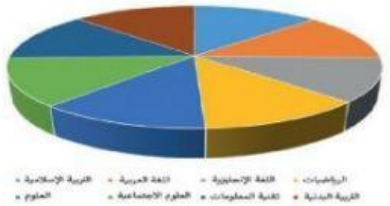

.....



.....

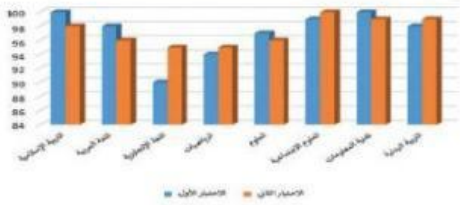

.....

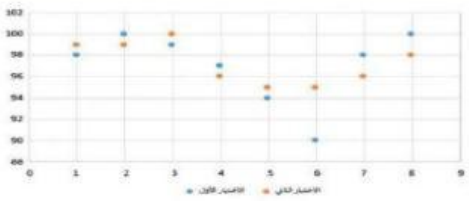

.....

LIVEWORKSHEETS

LIVEWORKSHEETS