WELLSPRING INTERNATIONAL BILINGUAL SCHOOL

PHIẾU THI ĐẤU – GÓI SỐ: 1A

NHÓM: ..... - LỚP: .....

Happy Journey

1 Nối số thập phân với hình ảnh biểu thị tương ứng:

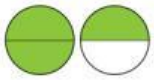

2,2

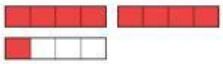

1,5

2,25

2,75

2 Chọn đáp án đúng

Người ta lát gạch hoa ở đáy bể bơi.
Tính diện tích phần lát gạch hoa đó.

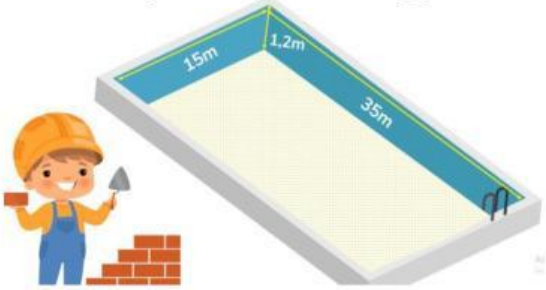

A. 18 m^2

B. 525 m^2

C. 630 m^2

D. 630 m

3 Gạch chân đại từ xưng hô

Sóc:

- Anh ta chạy rất nhanh đấy, cậu có chắc là thắng được anh ta không?

Rùa:

- Tớ sẽ cố gắng hết sức.

4 Phân loại các câu sau bằng cách đánh dấu ✓ vào cột thích hợp dưới đây:

Câu văn	Câu đơn	Câu ghép
Mùa xuân vừa đến, cây cối đã đâm chồi nảy lộc.		
Chúng em luôn nhớ ơn các anh hùng, liệt sĩ đã hi sinh bảo vệ đất nước.		
Hòa hát rất hay, ai nghe xong cũng phải khen ngợi.		

5 Tick vào tất cả những đáp án đúng

Bán đảo Đông Dương gồm các nước nào?

Lào | Campuchia | Myanma | Thái Lan | Trung Quốc | Việt Nam

6 Đâu là khối lệnh giúp robot nhảy với âm thanh Drum Music trong 10 giây?

A

B

C

LIVEWORKSHEETS